Nama	:
Kelas	:
Tanggal	:

ELKPD 1

MATA PELAJARAN : MATEMATIKA
MATERI : BILANGAN BULAT
KELAS : VII (TUJUH)
SEMESTER : GANJIL
ALOKASI WAKTU : 40 Menit
Tujuan Pembelajaran :

Setelah menyaksikan tayangan video peserta didik dapat membandingkan dan mengurutkan bilangan bulat dengan tepat.

PETUNJUK PENGERJAAN:

- Bacalah dengan teliti setiap langkah-langkah yang diberikan pada LKPD ini.
- Jawablah setiap pertanyaan dengan mengisi kolom/kotak yang disediakan.
- Periksa kembali hasil pekerjaan kalian. Jika sudah yakin silakan tekan tombol "**FINISH**".
- Untuk melihat skor/hasil silakan pilih dan tekan "**Check My Answer**" lalu **Screenshot** dan kirim gambar ke WA pribadi gurumu.

SIMAKLAH TAYANGAN VIDEO BERIKUT INI:

LIVEWORKSHEETS

A. Setelah menyaksikan tayangan video tersebut, sentuh angka kemudian tarik/geser dan lepaskan pada garis bilangan yang disediakan sehingga terurut dari yang terkecil ke terbesar!

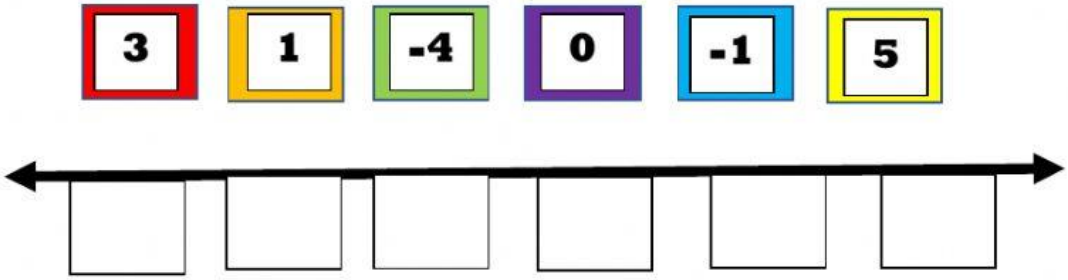

B. Dari garis bilangan di atas, bandingkan kedua bilangan bulat berikut dengan memberi tanda kurang dari "< " atau lebih dari ">" pada masing – masing pernyataan berikut.

1. 3 . . . 5
2. 0 . . . -1
3. -1 . . . 1
4. -4 . . . -1

C. Manakah bilangan yang lebih besar dari 357896, berikan tanda centang pada masing – masing jawaban berikut:

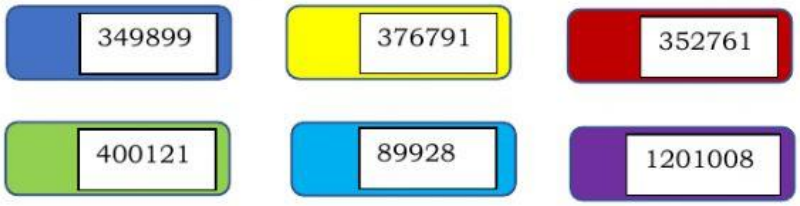

D. Lengkapilah garis bilangan bulat berikut!

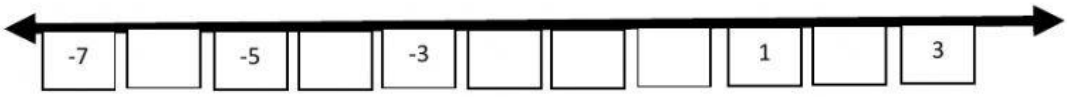

E. Berilah tanda centang untuk setiap pernyataan yang benar!

1. -99 > -97
2. -15 < -8
3. -7 > - 10
4. – 19 > -20
5. – 280 < - 100
6. -3452 > - 3489
7. -123456 > -124567
8. -3000000 < -100000

LIVEWORKSHEETS