COLEGIO CRISTO REY JESUITAS-TACNA

ÁREA: MATEMÁTICA
MISS CLAUDIA - MISS MILENA
TERCER GRADO-2021

PICTOGRAMAS

Obtén datos de un pictograma.

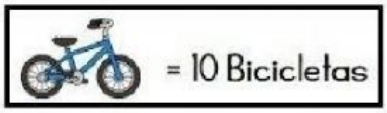



¿Cuántas bicicletas se han vendido cada mes?

enero	febrero	marzo	abril	mayo	junio
☐	☐	☐	☐	☐	☐

¿Cuántas bicicletas se han vendido en total entre abril y mayo?

Se han vendido _____ bicicletas

¿Cuántas bicicletas se han vendido más en junio que en enero?

Se han vendido _____ bicicletas más

LIVEWORKSHEETS

Paolo trabaja en una pastelería y ha registrado en un pictograma la venta de tortas de los últimos cinco días. **Observa** y **analiza** las respuestas.

Días	= 4 tortas	Tortas
Miércoles		20
Jueves		16
Viernes		24
Sábado		28
Domingo		12
	Total	100

¿Qué día vendió menos tortas?

¿Cuántas tortas más debería haber vendido el jueves para que la venta fuera igual a la del sábado?

LIVEWORKSHEETS

Marcela registra en un gráfico de barras el número de horas que dedica a la lectura. Luego lo representa en un pictograma. **Observa** y **analiza** lo que hace Marcela.

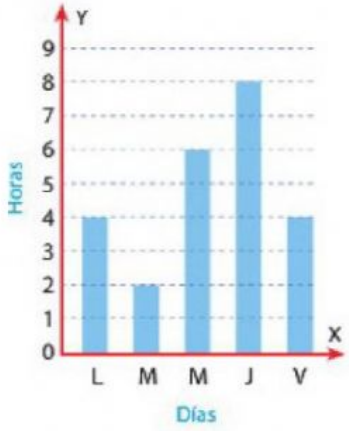

Días	= 2 horas	Total
Lunes		
Martes		
Miércoles		
Jueves		
Viernes		
	Total	

Mes	Conteo	N° de goles
Enero		
Febrero		
Marzo		
Abril		

Clave o convenio
= 12 televisores

Según el pictograma anterior, responde.

¿Cuántos televisores se vendieron en el mes de abril?

a) 28 c) 45 e) 30
b) 40 d) 48

¿En qué mes se vendieron más televisores?

a) Enero d) Abril
b) Febrero e) Julio
c) Marzo

¿Cuántos televisores más se vendieron en febrero que en enero?

a) 20 c) 30 e) 15
b) 26 d) 36

LIVEWORKSHEETS

Observa las figuras y responde las preguntas planteadas.

Pedro		
Luis		
Ana		
Milagros		

a) ¿Quién tiene mayor cantidad de caramelos? ¿Cuántos? _____

b) ¿Quién tiene menor cantidad de caramelos? ¿Cuántos? _____

c) ¿Cuántos caramelos le faltan a Ana para igualar a Pedro? _____

d) ¿Cuántos caramelos le faltan a Ana para superar a Luis? _____

e) ¿Cuántos caramelos debe regalar Pedro para tener menos que Milagros?

_____

¡LO LOGRASTE!



LIVEWORKSHEETS