INSTITUCIÓN EDUCATIVA PRIVADA

"LÍDER INGENIEROS UNI"

R.D. Nº 1602 - UGEL 05

Inicial - Primaria - Secundaria

EXAMEN MENSUAL DE GEOMETRIA IV UNIDAD

1. Observa y marca la respuesta correcta

A. Cuantos puntos hay en el plano M

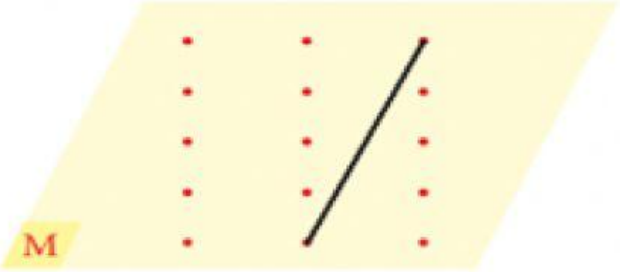

c) Hay 14 puntos

b) Hay 13puntos

a) Hay 15 puntos

B. ¿ Cuántos puntos unidos hay en el plano "C"?

a) Hay 4 puntos

b) Hay 3puntos

c) Hay 10 puntos

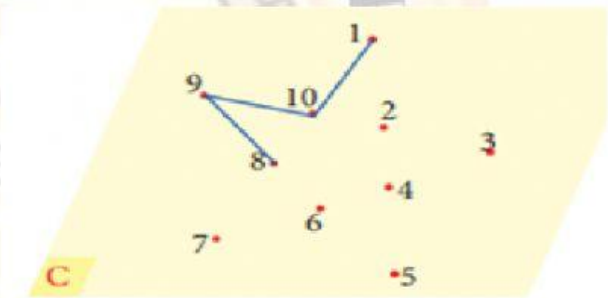

2. ¿Qué punto está a la derecha del punto «G»?

¿Qué punto está debajo del punto «B»?

MISS SUHAIL EYZAGUIRRE

"Mayor exigencia, mejores resultados"

LIVEWORKSHEETS

3. Observa u marca la respuesta correcta.

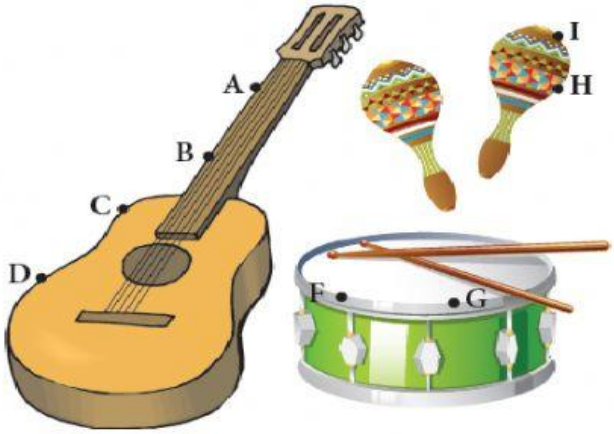

	Línea recta	Línea curva
AB		
CD		
FG		

2 La línea CD es una línea _____.

3 La línea AB es una línea _____.

4 ¿Cuántas líneas rectas hay en el gráfico?

_____

4. Marca la respuesta correcta.
¿Cuántas líneas rectas hay?

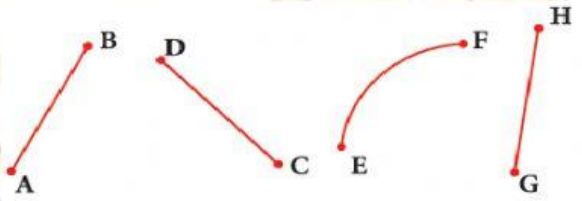

5. Marca la respuesta correcta

. Selecciono las líneas cerradas.

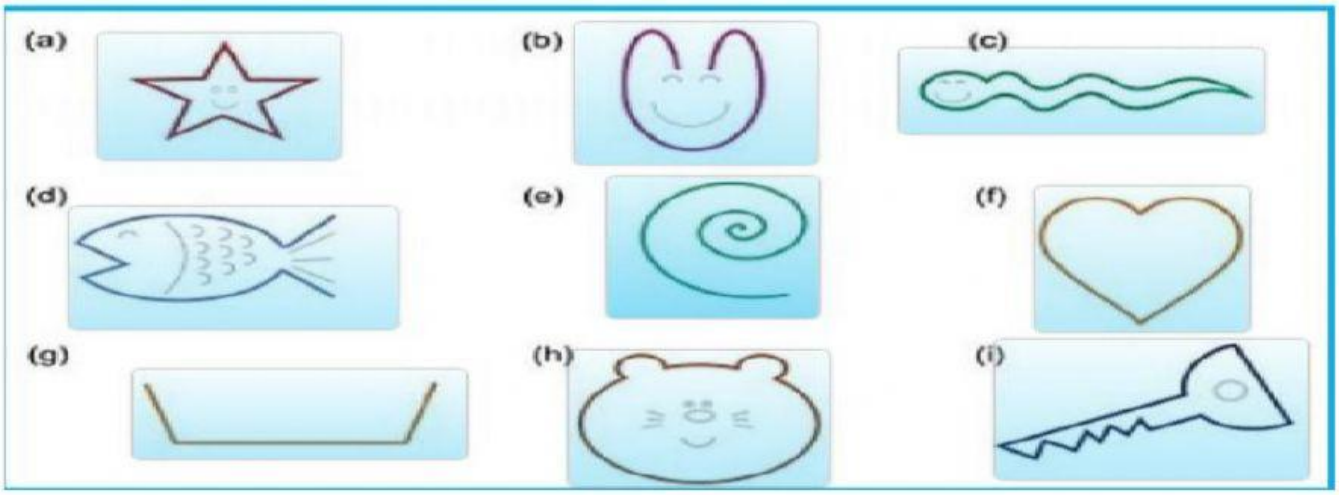

LIVEWORKSHEETS

INSTITUCIÓN EDUCATIVA PRIVADA

"LÍDER INGENIEROS UNI"

R.D. Nº 1602 - UGEL 05

Inicial - Primaria - Secundaria

Uno cada línea según corresponda:

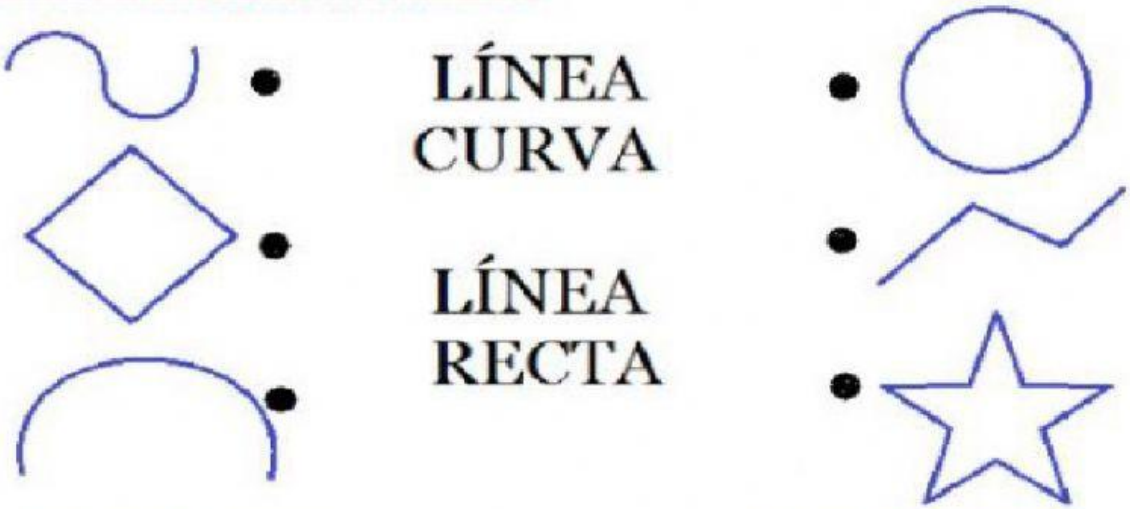

Ubico las líneas en el cuadro correcto.

LÍNEAS CERRADAS	LÍNEAS ABIERTAS

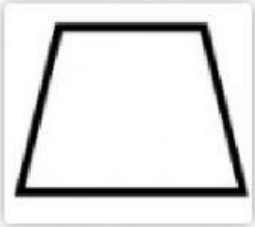



MISS SUHAIL EYZAGUIRRE

"Mayor exigencia, mejores resultados"

LIVEWORKSHEETS