INSTITUCIÓN EDUCATIVA PRIVADA

"LÍDER INGENIEROS UNI"

R.D. Nº 1602 - UGEL 05

Inicial - Primaria - Secundaria

EVALUACIÓN MENSUAL ARITMÉTICA UNIDAD IV

1. Lee cada número y une con líneas como se lee

35	Cuarenta y nueve
59	Ochenta y cinco
33	Treinta y cinco
81	Cincuenta y nueve
49	Treinta y tres

2. Coloca el signo **>** , **<** ó **=** según corresponda.

49 ____ 43 ____ 39 ____

20 ____ 23 ____ 25

18 ____ 17 ____ 13

46 ____ 42 ____ 40

6 ____ 8 ____ 10

24 ____ 26 ____ 28

> > > > > > < < < < <

Miss Suhail Eyzaguirre

"Mayor exigencia, mejores resultados"

LIVEWORKSHEETS

INSTITUCIÓN EDUCATIVA PRIVADA

"LÍDER INGENIEROS UNI"

R.D. Nº 1602 - UGEL 05

Inicial - Primaria - Secundaria

3. Observa y arrastra cada número con la representación correcta del abaco.

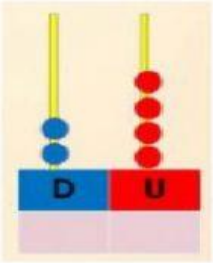

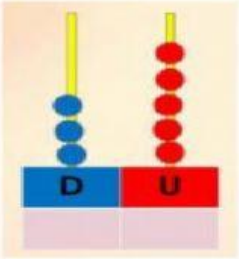

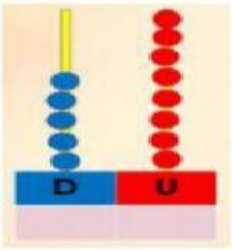

58

35

53

24

14

30

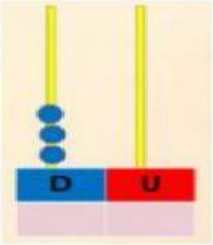

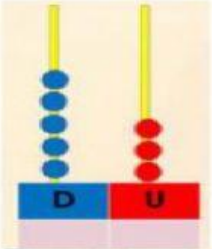

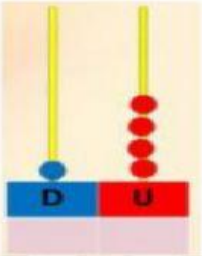

4. Halla las siguientes operaciones con la ayuda de tu ábaco.

1

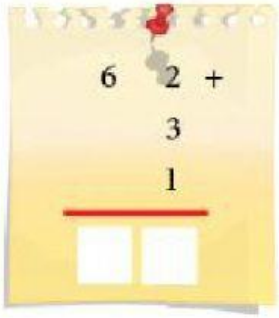

2

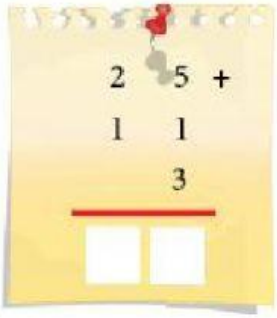

3



4

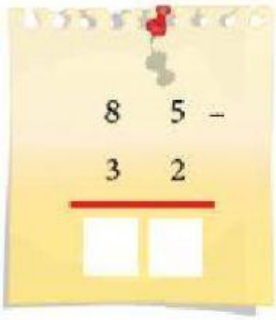

5

6

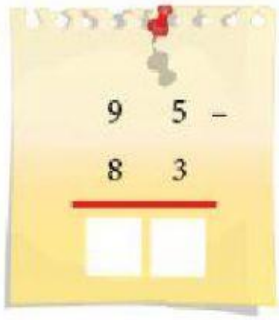

Miss Suhail Eyzaguirre

"Mayor exigencia, mejores resultados"

LIVEWORKSHEETS

INSTITUCIÓN EDUCATIVA PRIVADA

"LÍDER INGENIEROS UNI"

R.D. Nº 1602 - UGEL 05

Inicial - Primaria - Secundaria

5. Observa, lee y escribe V o F según la afirmación.

Si es verdad pon una V. Si es falso pon una F	
El perro está en 2º lugar	
El pez está en 5º lugar	
La serpiente está la 1º	
En el 10º lugar está la ardilla	
El conejo es el 3º	
En el 7º lugar está el pez	
La gallina es la 2º	
El león está en 6º lugar	

6. Resuelve los siguientes problemas.

A. En un jardín hay 43 rosas y en otro, 39 claveles. ¿Cuántas flores hay entre los dos jardines?

Datos

Rosas =

Claveles =

Total =

Operación														
								+						

Respuesta:

Miss Suhail Eyzaguirre

"Mayor exigencia, mejores resultados"

LIVEWORKSHEETS

B. ¿Cuántos metros de alambre necesito, en total, si ya tengo 36 metros y me faltan 85 metros?

Datos

Operación
Respuesta:

7. escribe como se lee cada número ayúdate de la tabla.

* 25
* 38
* 41
* 56

Miss Suhail Eyzaguirre

LIVEWORKSHEETS