1. 写出八百五十九令吉六十五仙的令吉近似值。

A RM800　　B RM850　　C RM859　　D RM860

2. 下图显示一组数目卡。

504 187	540 871	501 874	578 014

依据逆序排列，第三个数目是多少？

A 501 874　　B 504 187　　C 540 871　　D 578 014

3. 5306 中 0 的数位是多少？

A 个位　　B 十位　　C 百位　　D 千位

4. 把 5 250 000 化成百万单位的小数。

A 0.525 百万　　B 5.25 百万　　C 52.5 百万　　D 525 百万

5. 哪项换算是正确的？

A 6.017 km = 6 170m
B 6.705 km = 6 075m
C 6km 30m = 6 030m
D 6km 450m = 6 045m

6. 15650 的 20% 是多少？

A 1 033　　B 1 330　　C 3 130　　D 3 310

LIVEWORKSHEETS

7. $1\frac{1}{2}$ 小时的 3 倍是

A 3 小时 20 分钟　　C 4 小时 20 分钟
B 3 小时 30 分钟　　D 4 小时 30 分钟

8. 3.6ℓ ÷ 15 × 32 =

A 7 680mℓ　　B 7 860 mℓ　　C 8 670 mℓ　　D 8 760 mℓ

9. 59 的前一个和后一个质数分别是什么？

A 57，61　　B 57，67　　C 53，61　　D 51，61

10. 1 502 266 + 1 897 734 =

A $3\frac{2}{5}$ 百万　　B $3\frac{1}{2}$ 百万　　C $3\frac{3}{5}$ 百万　　D $3\frac{7}{8}$百万

11. 下图显示一个 24 时计时法的时刻。

12：55

55 分钟后是什么时刻？

A 1:10 a.m.　　B 1:50 a.m.　　C 1:10 p.m.　　D 1:50 p.m.

12. $1\frac{1}{8} \times \frac{1}{3} =$

A $\frac{1}{8}$　　B $\frac{1}{4}$　　C $\frac{3}{8}$　　D $\frac{1}{2}$

13. 妈妈购买一包重 5.2 kg 的面粉。她制作一个 1kg 的蛋糕需要用 200 克的面粉。妈妈制作 12 个蛋糕后，还剩多少公斤的面粉？

A 2.2　　B 2.4　　C 2.6　　D 2.8

14. 下图显示一组数据。

42，28，52，9，18，48

这组数据的中位数是

A 24　　B 30　　C 32　　D 35

15. 哪项**不是**圆锥体的特征。

A 1 条曲边　　B 1 个顶点　　C 1 个曲面　　D 2 个平面

LIVEWORKSHEETS

16. 下图显示正方体 J 和长方体 K。

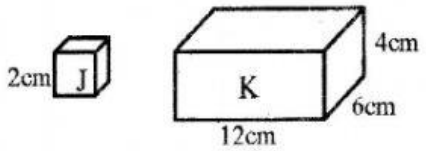

长方体 K 可容纳多少个正方体 J?

A 28　　B 36　　C 72　　D 144

17. 下图显示两种物品的价格。

物品	价格
英文词典	RM59.90
闪存盘	RM29.90

姆都买了 1 本词典和 3 个闪存盘，收银员找回 RM10.40 给他。姆都给了收银员多少钱?

A RM190　　B RM180　　C RM170　　D RM160

18. 杂货店购买了 48 盒鸡蛋，每盒有 12 个。杂货店售出了 215 个鸡蛋。哪个算式可得出杂货店剩余鸡蛋的数量?

A 48 x 12 - 215　　C (215 + 48) x 12

B 48 x 12 + 215　　D (215 - 48) x 12

19. 下图的平面坐标显示四个人的家的位置图。写出美燕的家的坐标。

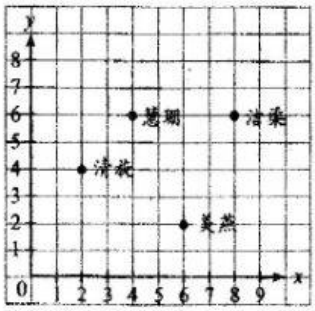

A (2, 4)　　B (2, 6)　　C (6, 2)　　D (8, 6)

20. 农场里的牛和羊数量的比是 8 : 3，牛和羊的数量相差 40 只。计算羊的数量。

A 24　　B 48　　C 64　　D 88

21. 一个箱子可装 3 打汽水，2 145 个箱子可装多少瓶汽水?

A 64 350　　B 64 450　　C 77 220　　D 77 720

LIVEWORKSHEETS

22. 下图显示一个长方形内有一个直角三角形。

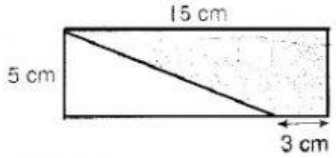

计算涂黑部分的面积。

A $25cm^2$　　B $35cm^2$　　C $45cm^2$　　D $55cm^2$

23. 从 2002 年 8 月 16 日到 2015 年 4 月 2 日是

A 11 年 7 个月 18 天　　C 12 年 7 个月 18 天
B 11 年 7 个月 19 天　　D 12 年 7 个月 19 天

24. 下表显示妹妹的扑满里的硬币数量。

硬币	数量（枚）
10sen	100
20sen	50
50sen	20

妹妹共储蓄了多少钱？

A RM 20　　B RM 30　　C RM 39　　D RM 40

25. 一份数学试卷有 40 道选择题，总分为 100 分。雨轩因为不够时间作答，只完成了 80%。及格的分数是 50 分，雨轩最多可以答错多少题？

A 7　　B 12　　C 15　　D 25

26. 下图显示一些文具。

橡皮的数量和文具的总数量的比是

A 3：4　　B 3：7　　C 4：3　　D 7：3

27. 一箱果汁的质量是 $15\frac{2}{5}$ kg。$1\frac{1}{2}$ 箱果汁的质量是多少 kg？

A 25.1　　B 24.1　　C 22.5　　D 23.1

28. 12.656÷5 =
将答案写成三位小数。

A 2.531　　B 2.532　　C 2.540　　D 2.541

LIVEWORKSHEETS

29. $1\frac{4}{5} \div \frac{7}{10} =$

A $1\frac{4}{7}$　　B $1\frac{1}{8}$　　C $2\frac{4}{7}$　　D $2\frac{1}{8}$

30. 一家慈善机构募集了 68035 包快熟面。慈善机构把 10485 包快熟面派给灾民后，还剩多少包快熟面？

A 53 950　　B 57 550　　C 57 820　　D 57 950

31. 下图显示明峰在下午到草场踢球的时刻。

以 24 时计时法来表达这个时刻。

A 1820 时　　B 1630 时　　C 1620 时　　D 0620 时

32. 下图显示一组数目。

6，24，X，9，54

五个数目的平均数是 19。X 的值是多少？

A 2　　B 30　　C 63　　D 95

33. 下图显示一些同样大小的长方形。

计算涂黑部分所占全图的百分比。

A 6%　　B 16%　　C 40%　　D 60%

34. RM 47 591.80 – RM 9 015.95 + RM11.85 =

A RM 37 390.85　　C RM 38 587.70

B RM 38 564.00　　D RM 39 760.85

35. 一双球鞋的价格是 RM105。这双球鞋现折扣 10%。问球鞋折扣后的价格是多少？

A RM94.50　　B RM95.50　　C RM96.50　　D RM99.50

LIVEWORKSHEETS

36. 笛卡尔平面显示四个运动场的坐标。

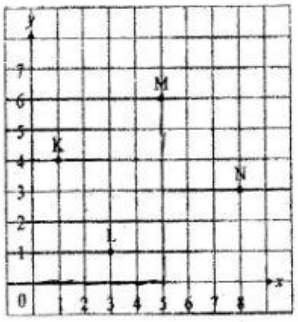

德华从原点出发，向右移动 5 个单位后，再向上移动 6 个单位。他抵达哪个运动场？

A K　　B L　　C M　　D N

37. 下图显示姚明家的鱼池平面图。

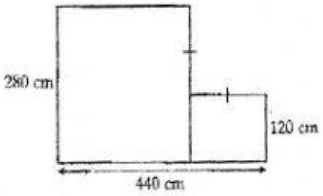

以 m 为单位，计算该鱼池的周长。

A 14.4　　B 16.4　　C 840　　D 1280

38. 卫青把 2 桶 $2\frac{5}{8}\ell$ 的水倒入一个大容器后，加入一些浓缩葡萄汁，以调制 25 杯，每杯 275mℓ 的葡萄汁。以 mℓ 为单位，计算他所加入的浓缩葡萄汁的体积。

A 1 625　　B 1 675　　C 1 725　　D 1 775

39. 5.36 ÷ 0.2 - ☐ =23.9
空格内应填上什么数目？

A 1.9　　B 2.9　　C 3.9　　D 4.9

40. 10 cm 7 mm + 15mm + 56.4cm =

A 67.6 cm　　B 68.6 cm　　C 74.2 cm　　D 82.1 cm

LIVEWORKSHEETS