2021 年 年级科学上半年评估

A. 根据图意，写出生物的特征。

成长	移动	呼吸	水	繁殖	食物

生物会_____。



生物需要_____。



生物需要_____。

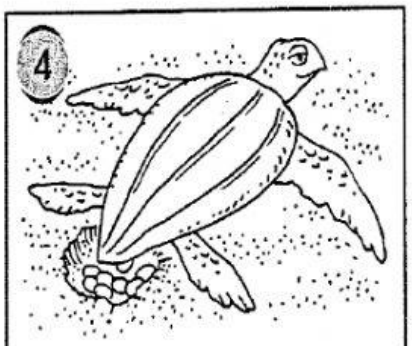

生物会_____。

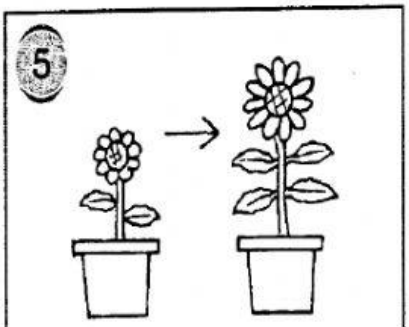

生物会_____。



生物会_____。

B. 对的说明画 √，错的说明画 X。

1. 我用耳朵来听音乐。 ( )
2. 我用眼睛来尝味道。 ( )
3. 我用舌头来嗅气味。 ( )
4. 我用脚来走路。 ( )
5. 我用手来缝衣服。 ( )
6. 我用嘴巴来说话。 ( )

LIVEWORKSHEETS

C. 把身体各部位的名称写在 ◯ 里。

手	嘴	腿	脚	舌头	耳朵	鼻子	眼睛

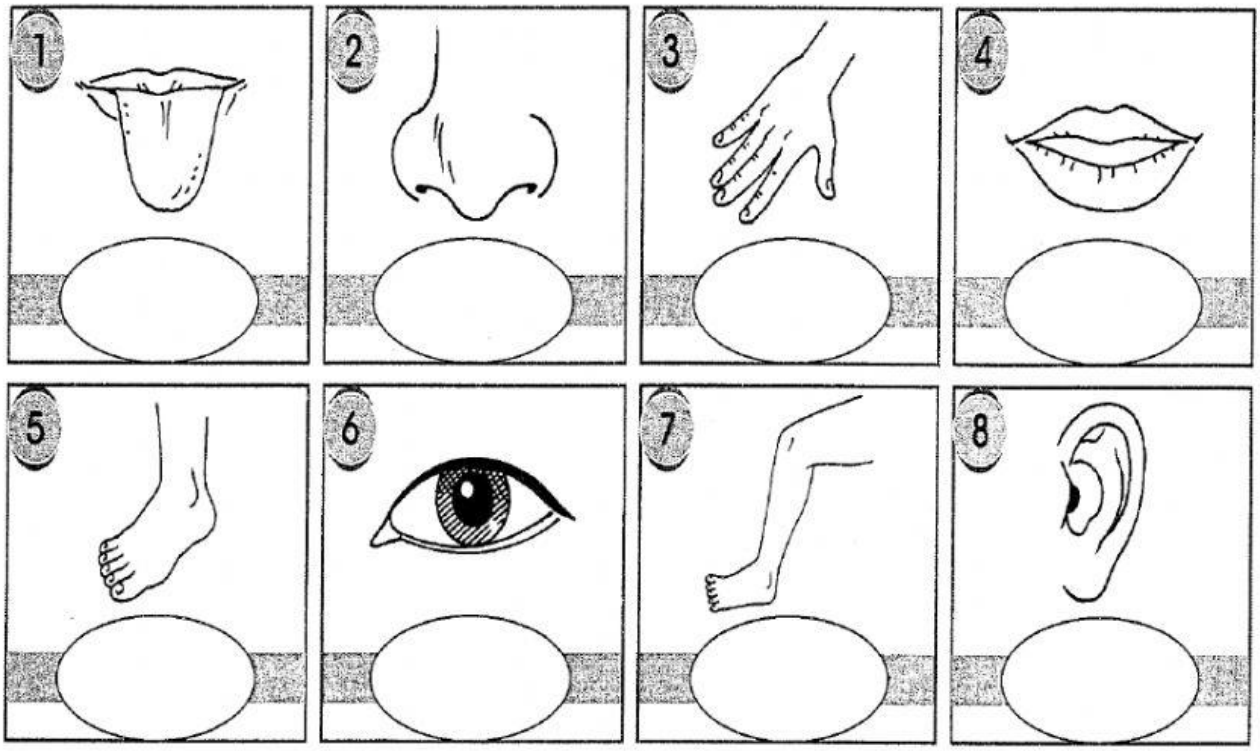

D. 把以下的动物带回它们回家。画线连一连。

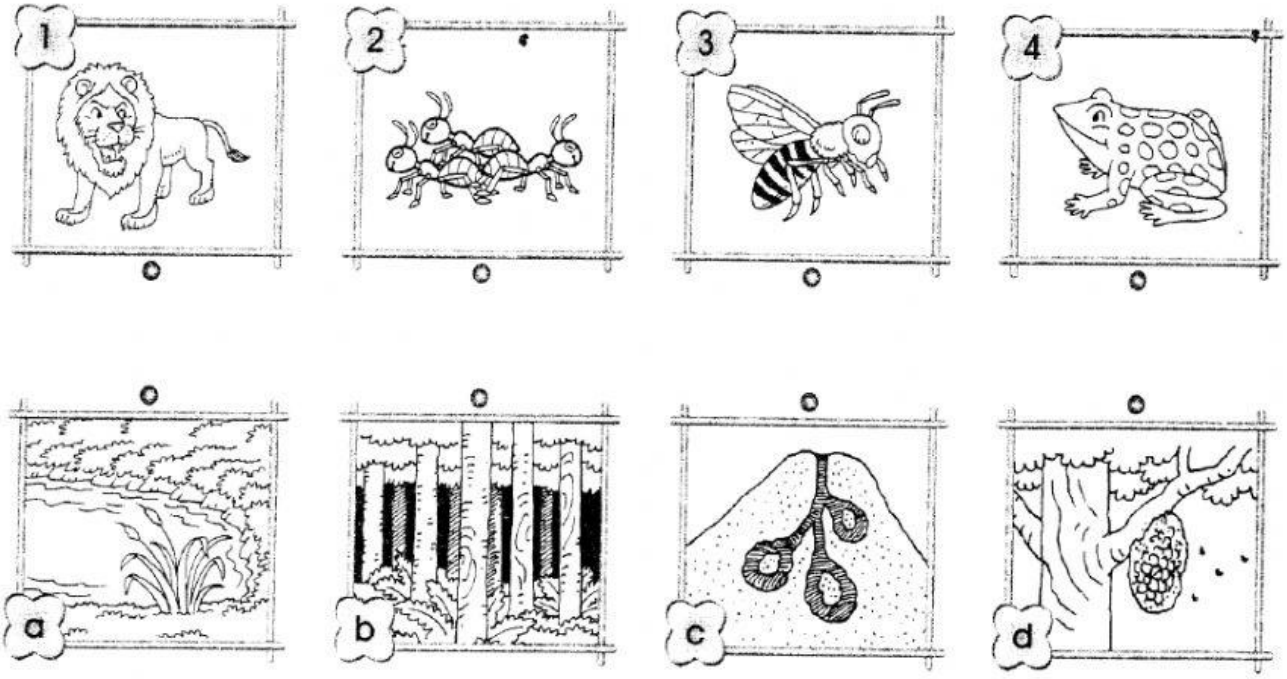

LIVEWORKSHEETS

E. 根据有关的动物，选出其正确的叫声。

1 

喔喔	咩咩

2

呷呷	吱吱

3

嘶嘶	呱呱

 4

咩咩	咪咪

5

喔喔	咩咩

6

呱呱	呷呷

LIVEWORKSHEETS

F. 下面显示 3 种工具，哪项感官失去功能后，需要以下工具来进行沟通？

听觉	视觉	触觉	视觉

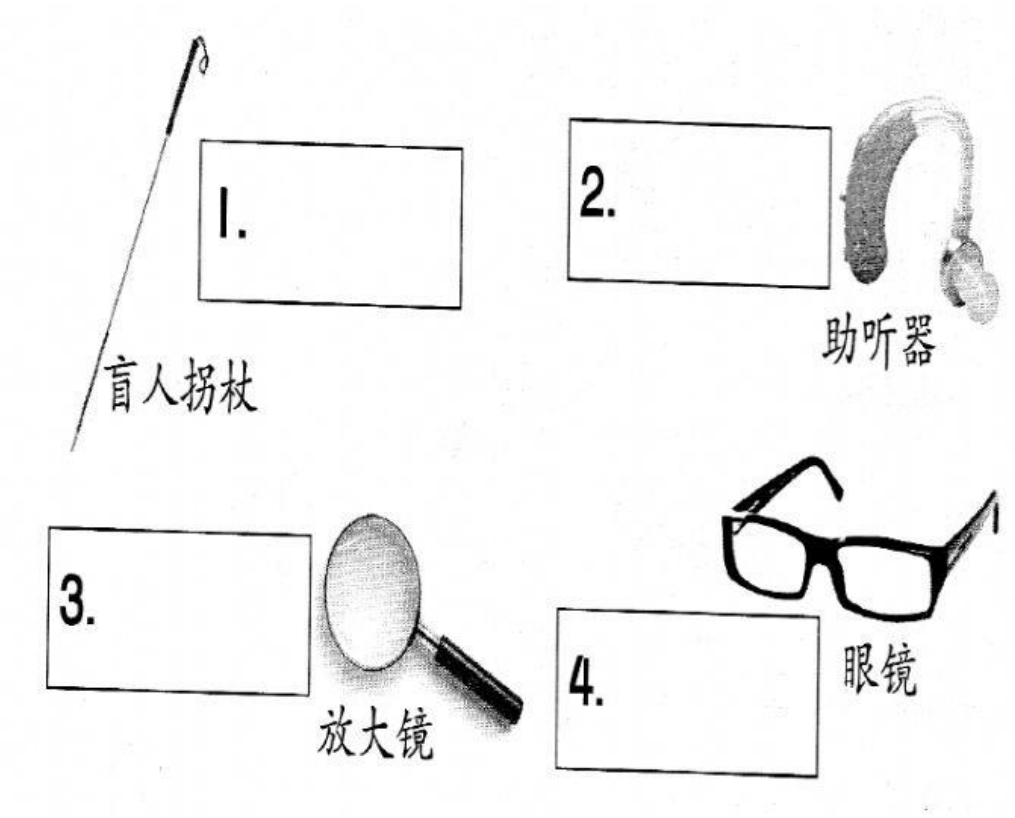

LIVEWORKSHEETS

G. 填写以下动物各部位的名称。

翅膀	鳍	眼睛	鳞片	喙	尾巴



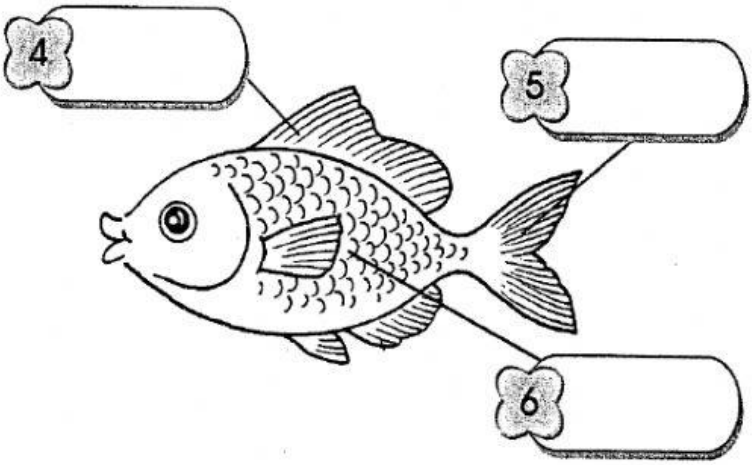

LIVEWORKSHEETS