Colegio Cristiano
MONTECARLO

EVALUACIÓN BIMESTRAL DE GEOMETRÍA

Nombres y apellidos:.....

Grado 3º Grado Prof.: Johanna Uypan

1) Une con una flecha según corresponda:

a) m<AOB = 15° • Ángulo recto

b) m<MON = 123° • Ángulo obtuso

c) m<TOL = 90° • Ángulo llano

d) m<DOC = 180° • Ángulo agudo

2) Escribe qué clase de ángulo es:

a) m< de 50° : _____

b) m< de 23° : _____

c) m< de 180° : _____

d) m< de 90° : _____

3) Calcula el valor de x

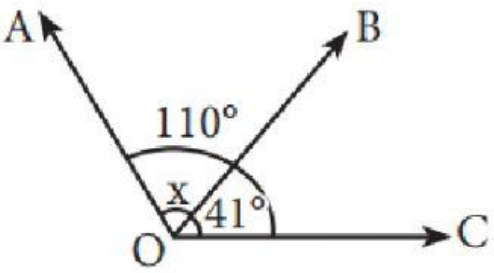

Resolución:

LIVEWORKSHEETS

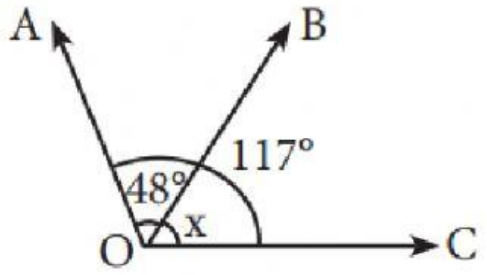

Resolución:

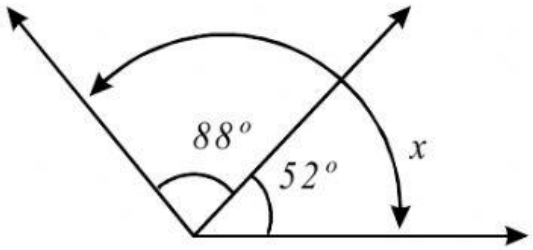

Resolución:

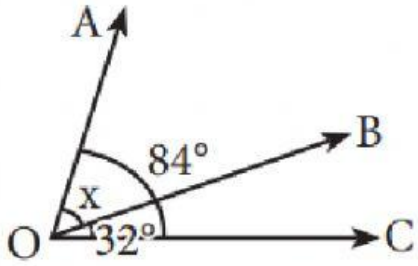

Resolución:

LIVEWORKSHEETS