LKPD 1.1
(LEMBAR KERJA PESERTA DIDIK)
KEGIATAN PEMBELAJARAN 1

Satuan Pendidikan : SD Negeri 2 Lalanglinggah
Kelas / Semester : 6 / 1
Tema : 1. Selamatkan Makhluk Hidup
Sub Tema : 1. Tumbuhan Sahabatku
Muatan Terpadu : Bahasa Indonesia, IPS, dan IPA
Pembelajaran ke : 1

Petunjuk Kegiatan:
1. Berdoalah sebelum memulai mengerjakan LKPD.
2. Tuliskan identitas kalian secara lengkap dan jelas.
3. Diskusikanlah permasalahan yang ada pada LKPD.
4. Baca petunjuk LKPD dan langkah-langkah kegiatan dengan teliti.
5. Lakukan kegiatan dan jawab pertanyaan dengan cermat.
6. Pelajari materi ajar yang terdapat pada buku siswa kelas tema 1 atau dapat pula membacanya pada laman *Google Site*.
7. Kumpulkan tugas jika telah selesai dikerjakan.

Nama Siswa : .....
No. Absen : .....

A. Langkah-langkah Kegiatan
1. Jawablah pertanyaan-pertanyaan di bawah dengan tepat!
2. Tulislah hasil pengamatan videomu.
3. Buatlah kegitan-kegiatan tersebut pada LKPD 1.1 yang telah dibagikan.

B. Mengamati Gambar
Amatilah gambar di bawah ini.



Di unduh dari : Bukupaket.com
LIVEWORKSHEETS

C. Pertanyaan

Dari gambar tersebut buatlah dua pertanyaan mengenai tumbuhan sumber kehidupan. Tulis pertanyaanmu pada kolom di bawah ini.

Bacalah teks berikut ini!

Bagaimana Jagung Berkembang Biak?

Jagung merupakan salah satu tanaman yang dijadikan bahan makanan pokok di berbagai, negara, salah satunya di Indonesia. Di Indonesia, penduduk Pulau Madura menjadikan jagung sebagai makanan pokoknya. Jagung merupakan salah satu tanaman penghasil karbohidrat yang sangat diperlukan oleh tubuh.

Seorang petani jagung, memulai pembiakan tanamannya dengan menanam biji jagung. Setelah tiga sampai empat hari bakal tanaman akan muncul di permukaan tanah. Tanaman jagung akan terus tumbuh menjadi besar. Tiga hingga tiga setengah bulan, buah jagung dapat dipanen oleh petani. Buah jagung yang berbentuk seperti tongkol pada mulanya berupa sekuntum bunga.

Bunga jagung memiliki helai-helai rambut halus pada bagian ujungnya. Pada helai rambut tersebut terdapat tepung sari. Tepung sari akan terbang terbawa angin ketika angin bertiup. Tepung sari yang terbawa angin, sebagian akan jatuh di kepala putik yang terletak di bagian bawah bunga pada pohon jagung yang lain. Ketika itulah terjadi pembuahan.

Designed by pngtree
LIVEWORKSHEETS

Setelah terjadi pembuahan, bunga jagung tersebut terus berkembang hingga menjadi buah jagung. Perkembangan itulah yang dapat diamati dari waktu ke waktu. Buah jagung akan siap dipanen ketika rambut jagung sudah berwarna kecokelatan dan bagian tongkolnya sudah mengering. Apabila buah jagung tersebut dikupas akan memperlihatkan biji jagung yang kekuningan. Bagian yang dimakan oleh manusia adalah biji jagung.

Supaya jagung selalu tersedia sebagai bahan makanan manusia, maka petani jagung harus menanam kembali sebagian biji jagung dari hasil panen. Biji jagung yang tua dapat ditanam kembali. Dari sinilah akan dimulai lagi perkembangbiakan jagung.

Oleh : Nuniek

Tulislah ide pokok dan informasi penting dari teks berjudul 'Bagaimana Jagung Berkembang Biak?' dengan mengisi diagram berikut.

Paragraf 1

Paragraf 5

Paragraf 2

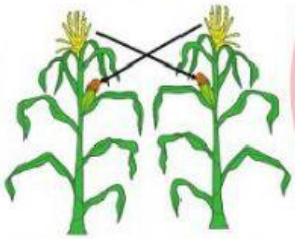

Bagaimana Jagung Berkembang Biak?

Paragraf 4

Paragraf 3

LIVEWORKSHEETS

Kembangkan ide pokok dan informasi dari diagram di atas menjadi sebuah tulisan pada kolom di bawah ini!

Ayo Mengamati

Salah satu contoh tumbuhan yang berkembang biak dengan bunga adalah tumbuhan jagung. Tepung sari pada bunga jagung akan terbang terbawa angin ketika angin bertiup. Tepung sari yang terbawa angin, sebagian akan jatuh di kepala putik yang terletak di bagian bawah bunga pada pohon jagung yang lain. Ketika itulah terjadi pembuahan.

Perkembangbiakan ini dinamakan perkembangbiakan *generatif*.

Tahukah kamu bagaimana proses perkembangbiakan *generatif*?

Amatilah gambar bagian–bagian bunga berikut ini.

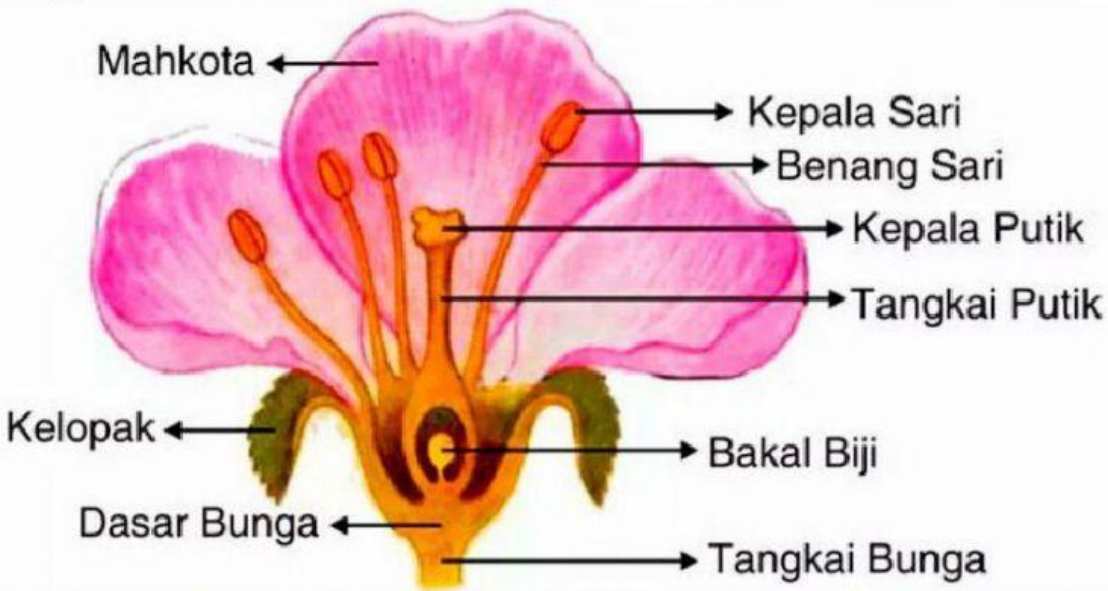

Designed by pngtree
LIVEWORKSHEETS

tangkai bunga

1. Perkembangbiakan *generatif* (secara kawin) terjadi melalui proses penyerbukan dan pembuahan.
2. Perkembangbiakan *generatif* pada tumbuhan diawali dengan penyerbukan, yaitu melekatnya atau jatuhnya serbuk sari ke kepala putik.
3. Setelah terjadi penyerbukan, pada serbuk sari tumbuh buluh serbuk sari yang menuju ke ruang bakal biji. Kemudian serbuk sari akan masuk ke ruang bakal biji melalui buluh serbuk sari.
4. Di dalam ruang bakal biji terjadi pembuahan, yaitu peleburan serbuk sari (sel kelamin jantan atau *spermatozoid*) dengan kepala putik (sel kelamin betina atau sel telur).
5. Hasil dari pembuahan adalah zigot.
6. Zigot berkembang menjadi lembaga, lembaga berkembang menjadi bakal biji, bakal biji berkembang menjadi biji dan bakal buah, kemudian bakal buah berkembang menjadi daging buah.
7. Lembaga yang berada di dalam biji merupakan calon tumbuhan baru.
8. Tumbuhan yang berkembang biak secara generatif antara lain: padi, mangga, durian, dan jambu.

Amati lingkungan sekitarmu dan temukan satu jenis tanaman yang sedang berbunga. Tulis nama tumbuhan dan cara penyerbukannya pada kolom di bawah ini!

No	Nama Tumbuhan	Cara Penyerbukan
1.		
2.		
3.		

LIVEWORKSHEETS

Untuk menambah wawasanmu tentang negara-negara ASEAN, bacalah informasi berikut dengan saksama.

ASEAN Menjawab Kebutuhan Hidup Bertetangga

Kamu pasti pernah merasakan nyamannya hidup bertetangga. Hal ini terasa saat semua keluarga saling mendukung, saling membantu, dan bekerja sama. Kenyamanan dalam bertetangga perlu diwujudkan karena tiap keluarga memiliki kepentingan yang sama.

Hal itu juga yang mendasari terbentuknya ASEAN. ASEAN adalah sebuah organisasi internasional yang beranggotakan negara-negara di kawasan Asia Tenggara. Negara-negara ini bersatu karena adanya persamaan letak geografis dan kemiripan budaya. Kepentingan yang sama dalam memajukan pertumbuhan ekonomi, sosial budaya, serta menjaga keamanan kawasan menjadi dasar pertimbangan para tokoh-tokoh dunia pendiri ASEAN. Pada tahun 1967 ASEAN berdiri atas dasar Deklarasi Bangkok. Saat itu, tokoh-tokoh dari lima negara yang terlibat dalam diskusi menjadi pencetus dan pendiri organisasi ini.

Ayo Menulis

Kamu sudah belajar keunikan negara-negara ASEAN mulai dari kondisi geografis, bunga, hingga kebudayaannya.

Pilihlah dua negara ASEAN. Carilah perbedaan dan persamaan karakteristik dari kedua negara tersebut mulai dari tumbuhan yang hidup, khususnya bunga yang menjadi ciri khas negara dan kondisi sosial budaya mereka. Kamu bisa menyebutkan nama bunga, nama sebutan (apabila ada), pemanfaat, dan tempat tumbuhnya.

Tulislah pemikiranmu tentang karakteristik negara pada diagram Venn yang telah disiapkan.

Perhatikan caranya berikut ini.

1. Tentukan dua negara yang akan kamu cari informasinya lebih dalam lagi. Tulislah di kotak yang tersedia.
2. Tulis masing-masing karakteristiknya di lingkaran sesuai dengan negaranya.
3. Di tengah lingkaran, kamu dapat menuliskan persamaan karakteristik yang dimiliki oleh kedua negara.

Designed by pngtree
LIVEWORKSHEETS

Negara:

Negara:

LIVEWORKSHEETS