Une con una línea cada triángulo con la propiedad que lo caracteriza

Triángulos	Propiedades
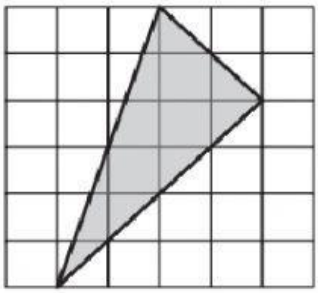	Uno de sus ángulos internos es obtuso.
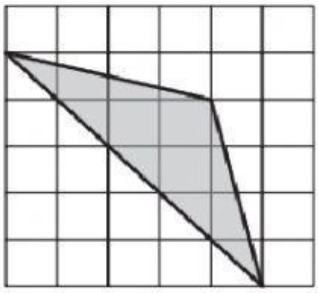	Todos sus ángulos internos son agudos.
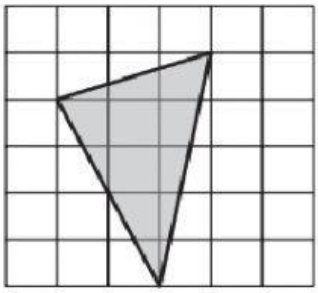	Uno de sus ángulos internos es recto.

LIVEWORKSHEETS