# LKPD LURING

## TEMA 1 SELAMATKAN MAKHLUK HIDUP DI SEKITAR KITA

### SUB TEMA 3 PELESTARIAN HEWAN DAN TUMBUHAN

Pembelajaran 3

KELOMPOK : .....

KELAS : .....

ANGGOTA :.....

.....

**Petunjuk Umum:**

1. Berdoalah sebelum mengerjakan!
2. Bacalah langkah-langkah kegiatan dengan teliti!
3. Jika mengalami kesulitan, bertanyalah kepada guru!

LIVEWORKSHEETS

# LKPD I

## MENGIDENTIFIKASI PERSAMAAN DAN PERBEDAAN PERKEMBANGBIAKAN TUMBUHAN

**Perhatikan tabel Perkembang Biakan Tumbuhan Berikut!**

| No | Jenis Perkembangbiakan | Contoh |
|---|---|---|
| | Perkembangbiakan Generatif | 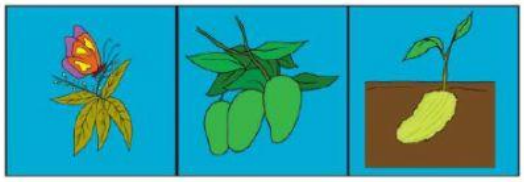 |
| | Perkembangbiakan vegetatif Alami |   |
| | Perkembangbiakan Vegettaif Buatan | 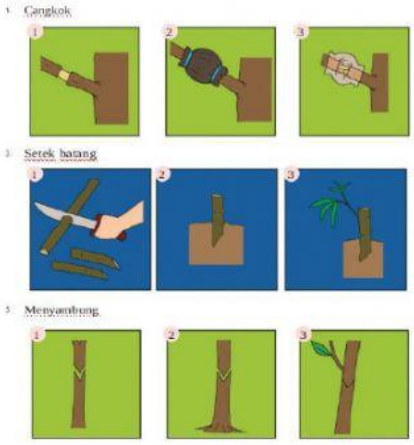  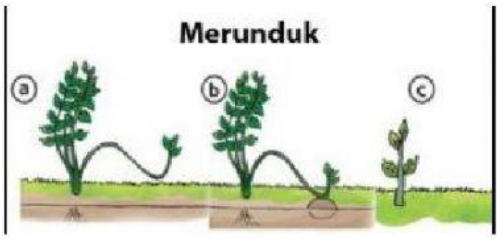  |

LIVEWORKSHEETS

Setelah menyaksikan video dan mengamati tabel, isilah diagram berikut dengan pernyataan yang sesuai!

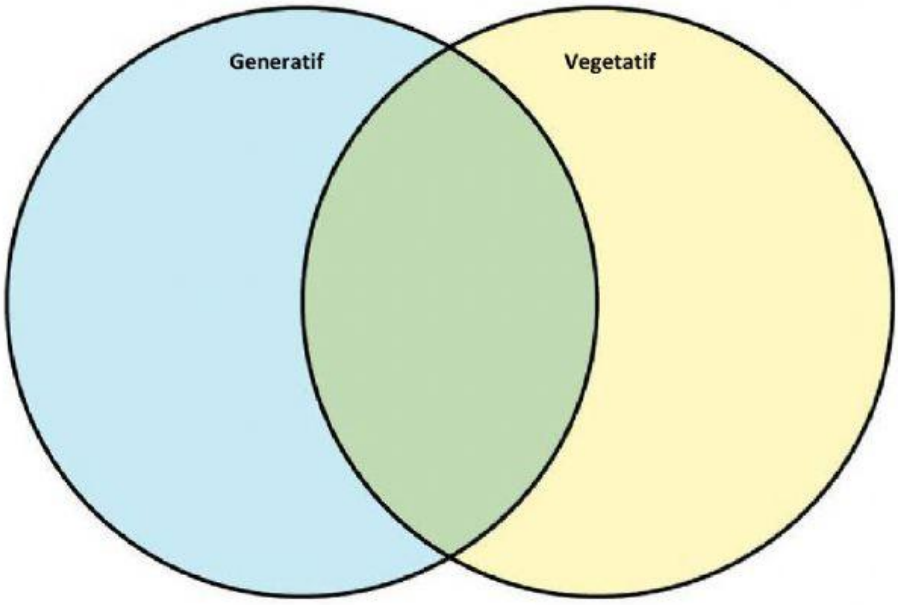


Alat perkembangbiakan berupa bunga

Alami dan bantuan manusia

Melaui proses penyerbukan

Calon individu berupa biji

Tanpa proses penyerbukan

Tumbuhan berbiji

Tumbuhan berbiji dan tidak berbiji

Individu baru berasal dari bagian tubuh induknya

Alat perkembangbiakan dari bagian tumbuhan induk

Alami dan buatan

LIVEWORKSHEETS

LIVEWORKSHEETS