13. 图 6 显示一个标志。

图 6

哪项废物符合上图的处理方法？

A 鸡骨头　　B 西瓜皮

C 破衣服　　D 纸张

14. 下面是有关生物之间的关系的说明。

> 蜗牛吃叶子
> 蚱蜢吃叶子
> 青蛙吃蜗牛与蚱蜢
> 蛇吃青蛙

哪个食物网代表上面的说明？

A
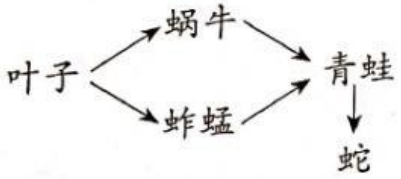

B
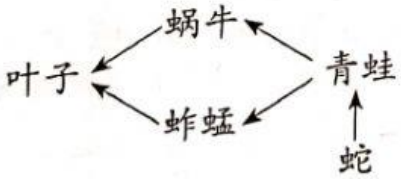

C
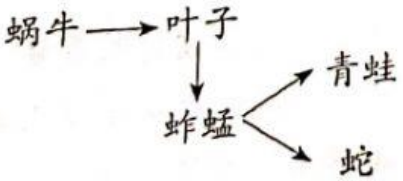

D
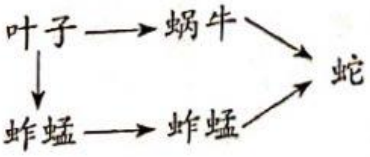

15. 什么是“杠杆”？

A 由力点、支点和重点所组成

B 由一个或以上的圆轮组成

C 根据螺旋原理演变而成

D 由一个倾斜的表面组成

16. 下面是有关威廉的说明。

> 威廉每天都骑自行车来回学校和家里。然而，这几个月都是雨季。

哪种物品可让威廉避免被淋湿？

A 衬衫

B 雨衣

C 外套

D 丝巾

17. 图 7 显示有关物体的浮水能力的分类图。

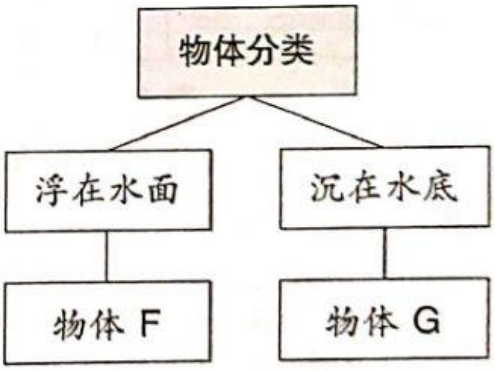

图 7

哪项最有可能是物体 F 和 G？

	F	G
A	铁锤	树枝
B	枯叶	汤匙
C	石头	钥匙
D	空塑料瓶	救生圈

Scanned with CamScanner
LIVEWORKSHEETS

18. 图 8 显示人行道上地砖的铺排方式，地砖与地砖之间留有空隙。



图 8

哪项是这些空隙的作用？

A 增加美感

B 增加摩擦力

C 防止砖块因遇冷收缩而变小

D 防止砖块因遇热膨胀而导致破裂

19. 图 9 显示人类的一项活动。

图 9

哪项是上图活动所带来的影响？

A 污染土地

B 污染空气

C 污染水源

D 改善水的质量

20. 哪项是月食过程的正确顺序？

A

B

C

D

21. 图 10 显示一项实验。

图 10

为什么把热水倒入容器后，被压扁的乒乓球恢复了原状？

A 乒乓球吸收了水的热气

B 乒乓球的表面遇热膨胀

C 乒乓球内的空气遇热膨胀

D 乒乓球被外在的热气挤压

22. 图 11 显示一种植物。

图 11

哪项是图 11 植物的传播种子方式？

A 靠人类或动物　B 靠自动爆裂

C 靠风力　D 靠水力

Scanned with CamScanner
LIVEWORKSHEETS