小数

第三单元
分数和小数

姓名：

A. 写出指定的小数：

1. _____

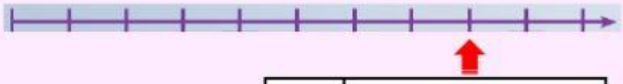

2. _____

$\frac{1}{10}$	$\frac{1}{10}$	$\frac{1}{10}$	$\frac{1}{10}$	$\frac{1}{10}$	$\frac{1}{10}$	$\frac{1}{10}$	$\frac{1}{10}$	$\frac{1}{10}$	$\frac{1}{10}$

3. _____

B. 将相关的分数连一连：

1. 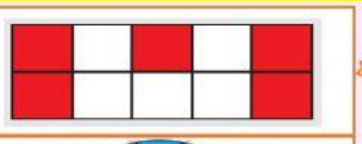
2. 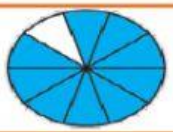
3.

零点九

零点五

零点四

C. 比较大小，选出正确的说明。（答案可超过一个）

1. 0.3 $\frac{6}{10}$

0.3 比 $\frac{6}{10}$ 小。

$\frac{6}{10}$ 比 0.3 小。

0.3 比 $\frac{6}{10}$ 大。

$\frac{6}{10}$ 比 0.3 大。

2. 0.1 $\frac{1}{2}$

0.1 比 $\frac{1}{2}$ 小。

$\frac{1}{2}$ 比 0.1 小。

0.1 比 $\frac{1}{2}$ 大。

$\frac{1}{2}$ 比 0.1 大。

LIVEWORKSHEETS