تمارين الصف الأول الابتدائي – الجزء الأول - الفصل الخامس : الأعداد حتى ٢٠

الدرس (٥-٧) :ترتيب الأعداد حتى ٢٠

س١: ما هي الأعداد الناقصة في كل مجموعة فيما يلي :

| | | | | | | | |
|---|---|---|---|---|---|---|---|
| ١٧ | ١٤ | ١٢ | ٢٠ | ١١ | ١٣ | ١٩ | ١٥ |

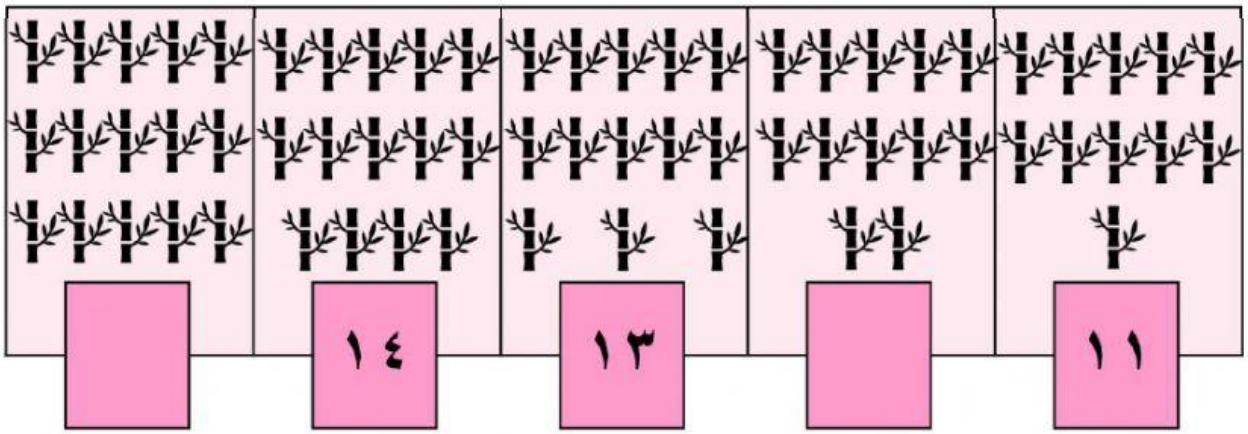

| | | | | |
|---|---|---|---|---|
| | ١٤ | ١٣ | | ١١ |

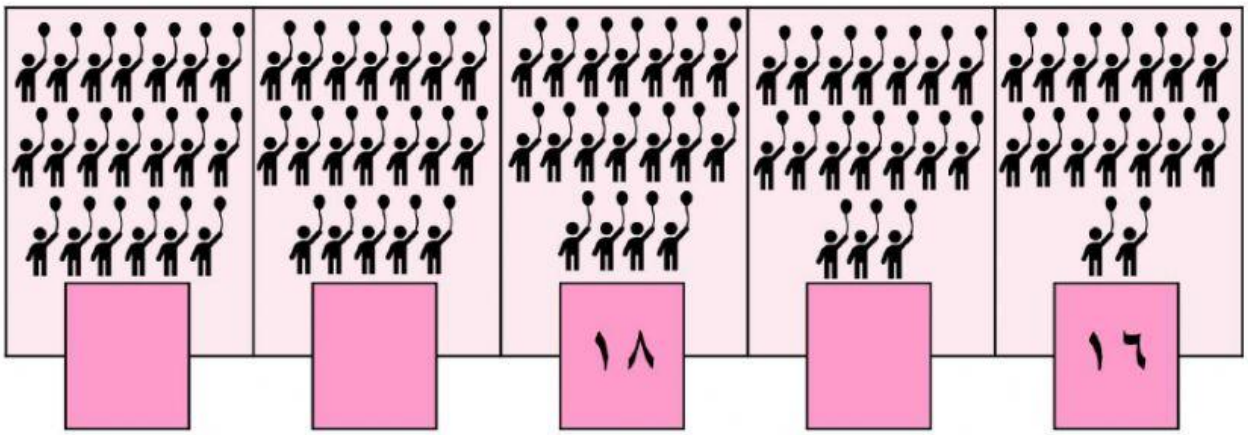

| | | | | |
|---|---|---|---|---|
| | | ١٨ | | ١٦ |

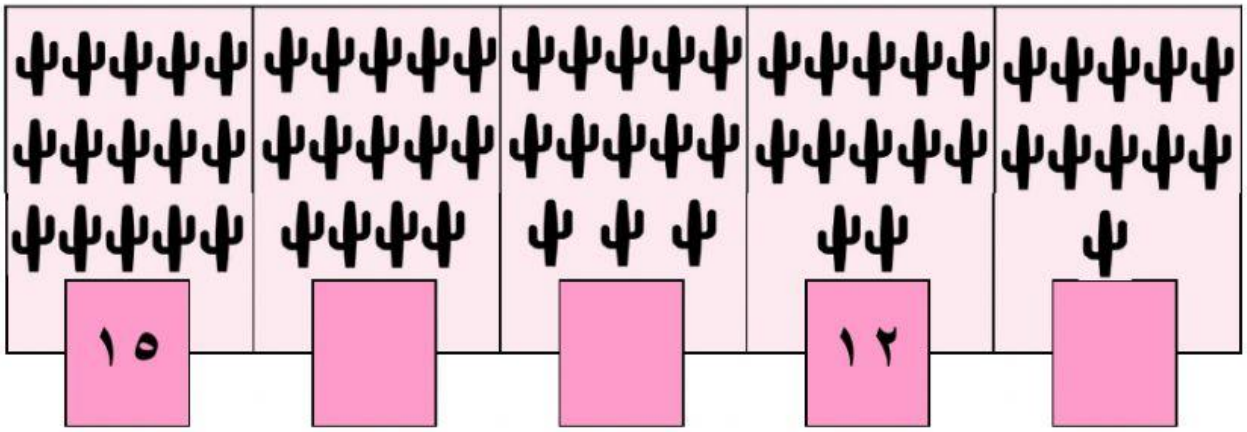

| | | | | |
|---|---|---|---|---|
| ١٥ | | | ١٢ | |

LIVEWORKSHEETS