TALLER EVALUADO

NAME: _____ DATE: _____

SCORE: 82

RESPONDE LAS PREGUNTAS SEGÚN LAS INSTRUCCIONES DADAS.

1. Resuelve y completa los cuadrados que faltan contando de 100 en 100.

				500			800		

2. Resuelve completando los cuadrados que faltan contando de 3 en 3.

802			811		817				

3. Resuelve y completa los cuadrados que faltan contando de 10 en 10.

	480	490							

4. Resuelve y completa los cuadrados que faltan contando de 5 en 5.

				400			415		

5. Cada caja contiene 100 huevos. ¿Cuántos huevos hay en total?

A) 150 B) 200

C) 250 D) 300

6. ¿Cuál de los siguientes números es el menor que se puede formar con los dígitos 3, 4 y 1?

A) 431 B) 143

C) 341 D) 134

LIVEWORKSHEETS

7. Escribe los siguientes números en orden, desde el mayor al menor.

A.

501 589 598 510 ▶ ▢ ▢ ▢ ▢

B.

432 243 324 342 ▶ ▢ ▢ ▢ ▢

8. Escribe los siguientes números en orden, desde el menor al mayor.

A.

499 739 500 601 ▶ ▢ ▢ ▢ ▢

B.

378 324 953 764 ▶ ▢ ▢ ▢ ▢

9. Escribe los siguientes números en orden, desde el menor al mayor

A.

157 468 787 253 ▶ ▢ ▢ ▢ ▢

B.

475 917 201 738 ▶ ▢ ▢ ▢ ▢

10. Escribe los siguientes números en orden, desde el menor al mayor.

A.

856 205 685 502 ▶ ▢ ▢ ▢ ▢

LIVEWORKSHEETS

B.

105 692 498 319 ▶ ▭ ▭ ▭ ▭

11. Completa, siguiendo el siguiente ejemplo.

Ej:



C	D	U	
2	6	2	262

1.



C	D	U	

2.



C	D	U	

12. Identifica la posición que ocupa el número subrayado.

A.

	Posición
67**5**	unidades
596	
45**9**	
946	

LIVEWORKSHEETS

13. Identifica la posición que ocupa el número subrayado.

A.

	Posición
2<u>1</u>1	
<u>1</u>21	
28<u>3</u>	
7<u>3</u>2	

14. Escribe el valor que representa cada dígito subrayado de acuerdo a la posición que ocupa.

A. <u>1</u>07 ____

B. 6<u>4</u>5 ____

C. 8<u>2</u>8 ____

D. 7<u>5</u>6 ____

E. 66<u>6</u> ____

F. 9<u>1</u>9 ____

LIVEWORKSHEETS