ESCOLA MUNICIPAL DE EDUCAÇÃO INFANTIL E ENSINO FUNDAMENTAL "MANOEL JOÃO BARBOSA"
SÍTIO BOQUEIRÃO, LOGRADOURO/PB, ____/____/_____.

DISCIPLINA: ***Matemática***
PROFESSOR: ***Edvan Querino da Silva***
TURMA: ***7º Ano do Ensino Fundamental***
ALUNA (O): _____

ATIVIDADE PARA O DIA 8 DE JULHO DE 2021

1) Arraste cada palavra e coloque abaixo da figura geométrica correspondente.

CÍRCULO	**LOSANGO**	**RETÂNGULO**	**TRAPÉZIO**
QUADRADO	**PARALELOGRAMO**		**TRIÂNGULO**

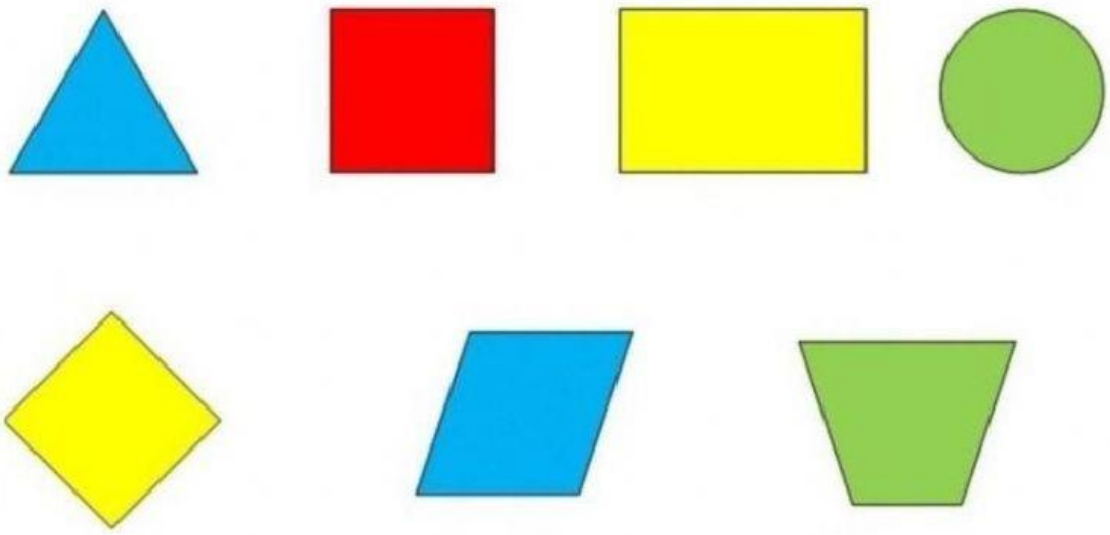

2) Um campo de futebol não oficial tem as medidas indicadas abaixo. Qual a medida do perímetro deste campo de futebol, em metros?

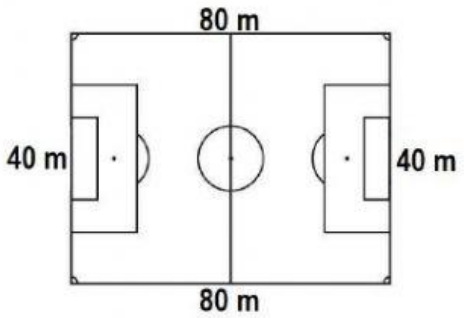

A) 120 m.

B) 240 m.

C) 3200 m.

D) 32 m.

LIVEWORKSHEETS

3) Ligue cada objeto à figura geométrica espacial correspondente.

4) Um tanque no formato de um bloco retangular tem as seguintes medidas: 4 metros de comprimento, 3 metros de largura e 2 metros de profundidade. Qual a capacidade deste tanque em metros cúbicos (m^3)?

A) 24 m^3

B) 4 m^3

C) 3 m^3

D) 2 m^3

5) Uma televisão de 42 polegadas tem as dimensões conforme indicadas na figura abaixo.

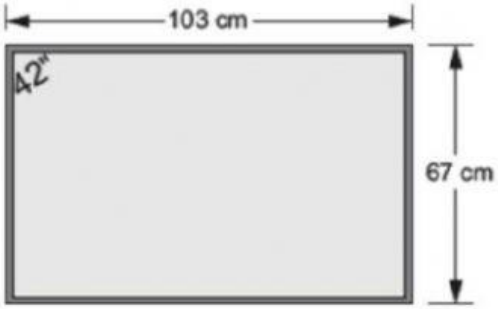

Qual a área, em centímetros quadrados (cm^2), da tela desta televisão?

A) 170 cm^2.

B) 6.901 cm^2.

C) 340 cm^2.

D) 212 cm^2.

LIVEWORKSHEETS