ชื่อ-นามสกุล .....ชั้น.....เลขที่.....

งานที่ 3 แผนภาพเวนน์และเอกภพสัมพัทธ์

ให้ลากแผนภาพที่ถูกต้องไปใส่ในข้อ 2)

1. กำหนด $\mathcal{U}$ = { x | x เป็นจำนวนเต็มตั้งแต่ 1 ถึง 10 }

และ A = { x | x เป็นจำนวนคู่ }

1) ให้เขียนเซต $\mathcal{U}$ และเซต A แบบแจกแจงสมาชิก

$\mathcal{U}$ =

A =

2) ให้เขียนแผนภาพแทนเซต $\mathcal{U}$ และเซต A

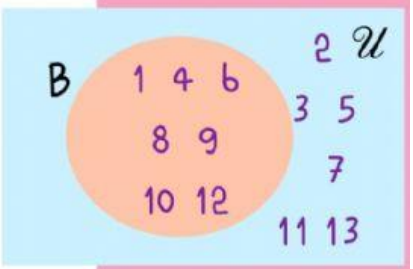

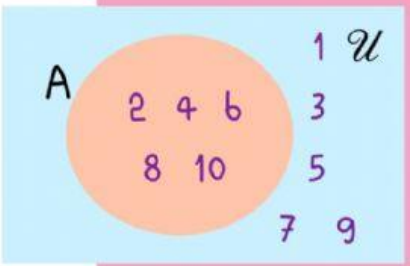

2. กำหนด $\mathcal{U}$ = { x | x เป็นจำนวนเต็มตั้งแต่ 1 ถึง 13 }

และ B = { x | x เป็นจำนวนเฉพาะ }

1) ให้เขียนเซต $\mathcal{U}$ และเซต B แบบแจกแจงสมาชิก

$\mathcal{U}$ =

B =

2) ให้เขียนแผนภาพแทนเซต $\mathcal{U}$ และเซต B

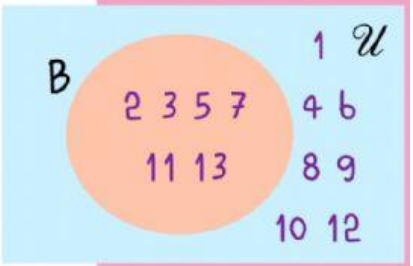

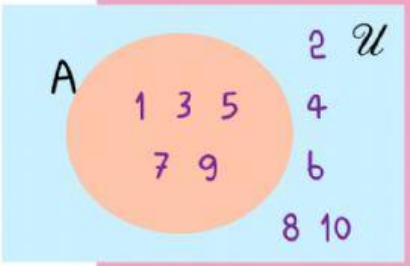

LIVEWORKSHEETS