Evaluación de Matemáticas 3 (Adaptada)

Nombre: Arantza González Román. Curso: 3ºB Fecha: 08/07/2021

Objetivos:	Puntaje ideal: 19 puntos
-Identificar números representados en decenas. -Reconocer números escritos en palabras y viceversa. -Completar secuencia de números de 10 en 10.	Porcentaje: 50% Puntaje real: puntos Nota:

Instrucciones: Escucha las siguientes preguntas y escoge la alternativa correcta.

1. ¿Qué número representan las siguientes barras?

a) 40

b) 50

c) 30



2. ¿Qué número representan las siguientes barras?

a) 50

b) 70

c) 90

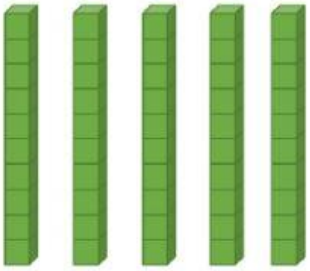

3. ¿Qué número representan las siguientes barras?

a) 10

b) 80

c) 60



LIVEWORKSHEETS

4. ¿Cómo se escribe en palabras el número 40?

a) Veinte

b) Treinta

c) Cuarenta

5. ¿Cómo se escribe en palabras el número 60?

a) Diez

b) Sesenta

c) Cincuenta

6. "Veinte" se escribe:

a) 20

b) 30

c) 10

7. "Noventa" se escribe:

a) 50

b) 90

c) 70

8. Completa la secuencia con los números que faltan:

10		30	

20 50 60 40

LIVEWORKSHEETS

9. Completa la secuencia con los números que faltan:

50		70	

60 10 80 90

10. Completa la secuencia con los números que faltan:

60	70	80	

10 90 20 30

LIVEWORKSHEETS