A 以出 12 时或 24 时计时法，写出答案。 4.1.1

/6

24 时计时法

1

2

3

12 时计时法

4

5



6

B 写出显示时间和相隔的时间。 4.2.1

/8

1

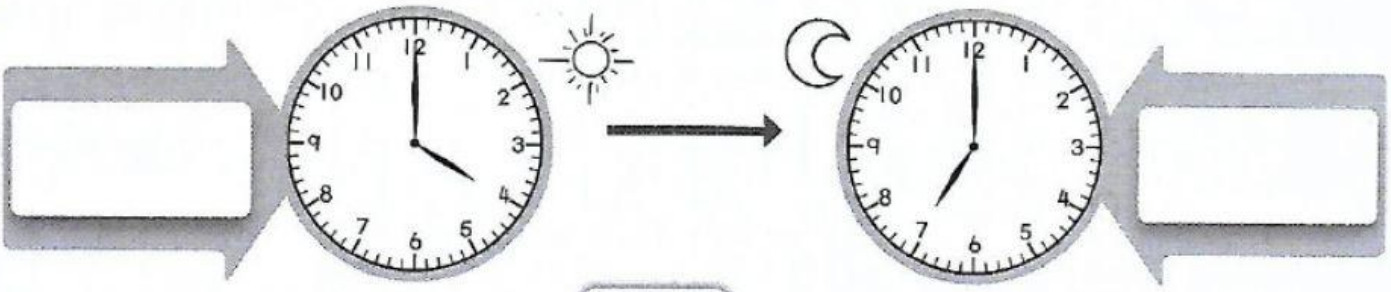

相差 ____ 小时。

2

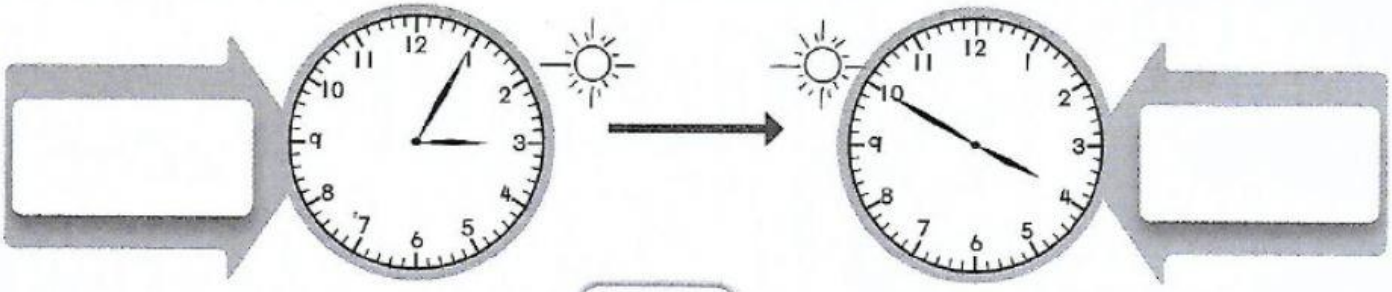

相差 ____ 分钟。

LIVEWORKSHEETS

C 换算时间的单位。 4.4.1

/16

1. 1 年 = ____ 个月
2. 1 天 = ____ 小时
3. 2 个年代 = ____ 年
4. 1 个千禧年 = ____ 个世纪
5. 2 个星期 = ____ 天
6. 4 个世纪 = ____ 年
7. 2 年 = ____ 个月
8. 2 个千禧年 = ____ 年

D 利用各种方法找出正确的答案。 4.4.2(i)(ii)(iii)

/12

1. 42 天 = ____ 个星期
2. 30 小时 = ____ 天 ____ 小时
3. 38 个月 = ____ 年 ____ 个月
4. 60 年 = ____ 个年代
5. 67 年 = ____ 个年代 ____ 年
6. 8 个世纪 2 年 = ____ 年

LIVEWORKSHEETS

E 连一连。 4.5.1(i)(ii)

/12

1. 2 天 4 小时 + 6 天 12 小时 =
2. 5 个星期 + 2 个星期 6 天 =
3. 9 天 20 小时 − 4 天 13 小时 =
4. 19 个星期 5 天 − 8 个星期 4 天 =
5. 14 个星期 1 天 − 6 个星期 − 2 个星期 5 天 =
6. 4 天 + 3 天 22 小时 + 6 天 3 小时 =

- 7 个星期 6 天
- 8 天 16 小时
- 5 个星期 3 天
- 14 天 1 小时
- 5 天 7 小时
- 11 个星期 1 天

F 计算下列各题。 4.5.1(iii)(iv)

/12

1. 3 年 10 个月 + 5 年 9 个月 =

   ____ 年 ____ 个月

2. 8 年 2 个月 − 3 年 6 个月 =

   ____ 年 ____ 个月

3. 4 年 3 个月 + 8 年 7 个月 + 15 年 =

   ____ 年 ____ 个月

4. 6 个年代 4 年 + 2 个年代 9 年 =

   ____ 个年代 ____ 年

5. 18 个世纪 − 7 个世纪 56 年 =

   ____ 个世纪 ____ 年

6. 5 个世纪 9 年 − 2 个世纪 26 年 − 1 个世纪 4 个年代 3 年 =

   ____ 个世纪 ____ 年

LIVEWORKSHEETS