Uhamka | PENDIDIKAN MATEMATIKA
FAKULTAS KEGURUAN DAN ILMU PENDIDIKAN

10 anak memilih buah untuk dijadikan jus.

Beri tanda ceklis (√) pada ☐ berikut	
1	Buah yang paling disukai anak
	☐ ☐ ☐ ☐
2	Banyak anak yang menyukai pear
	☐4 ☐3 ☐2 ☐1
3	Diagram batang yang sesuai
	☐ 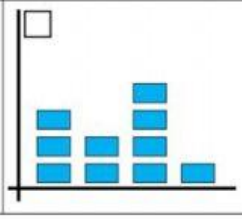 ☐ 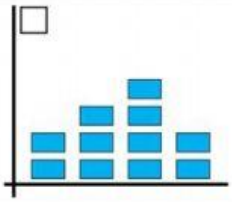



LIVEWORKSHEETS