Tulis jarak mengufuk dan mencancang antara titik-titik dalam satah berikut

a

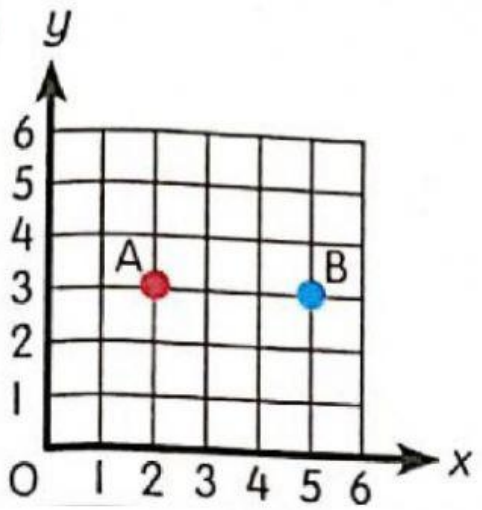

Dari titik A ke B

Jarak Mengufuk : _____ unit

Jarak mencancang : _____ unit

b

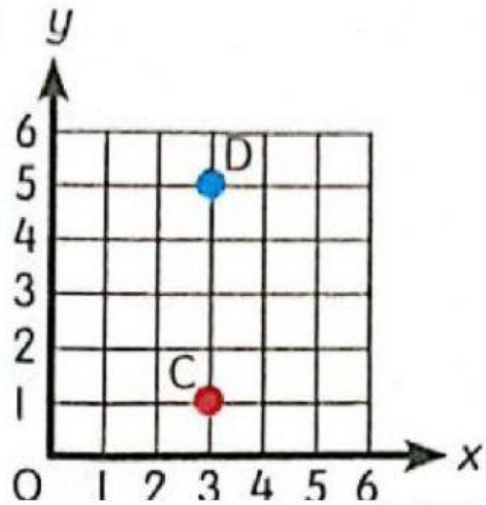

Dari titik C ke D

Jarak Mengufuk : _____ unit

Jarak mencancang : _____ unit

c

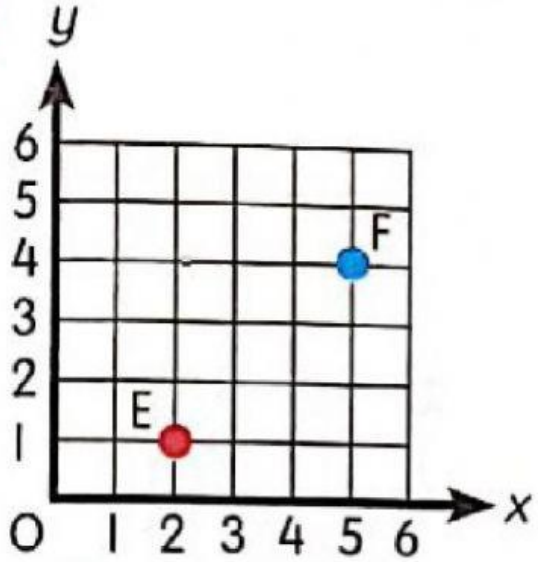

Dari titik E ke F

Jarak Mengufuk : _____ unit

Jarak mencancang : _____ unit

LIVEWORKSHEETS

d

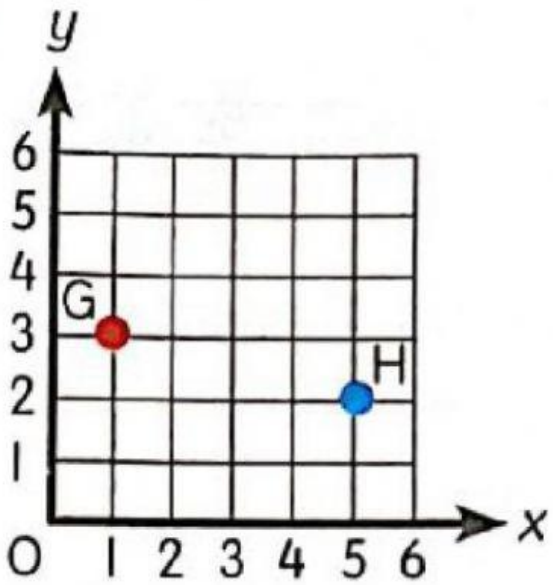

Dari titik G ke H

Jarak Mengufuk : ____ unit

Jarak mencancang : ____ unit

Nyatakan koordinat titik y dari x berdasarkan jarak mengufuk dan jarak mencancang yang diberikan

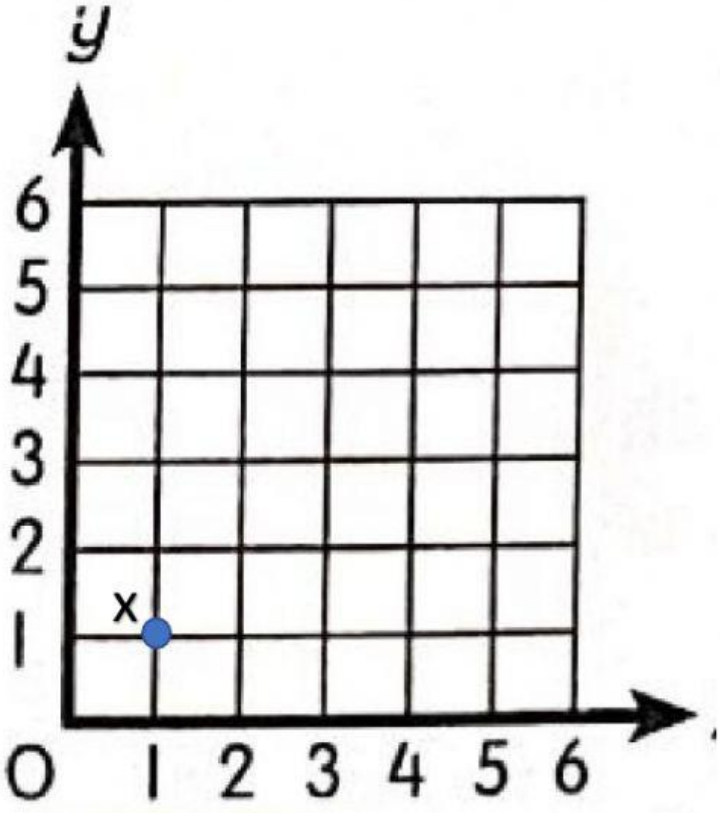

1. Jarak mengufuk – 3 unit
   Jarak mencancang – 0 unit
   Koordinat = (4,1)

2. Jarak mengufuk – 4
   Jarak mencancang – 3
   Koordinat = _____

3. Jarak mengufuk – 2
   Jarak mencancang – 4
   Koordinat = _____

LIVEWORKSHEETS

Tulis jarak antara titik titik berikut

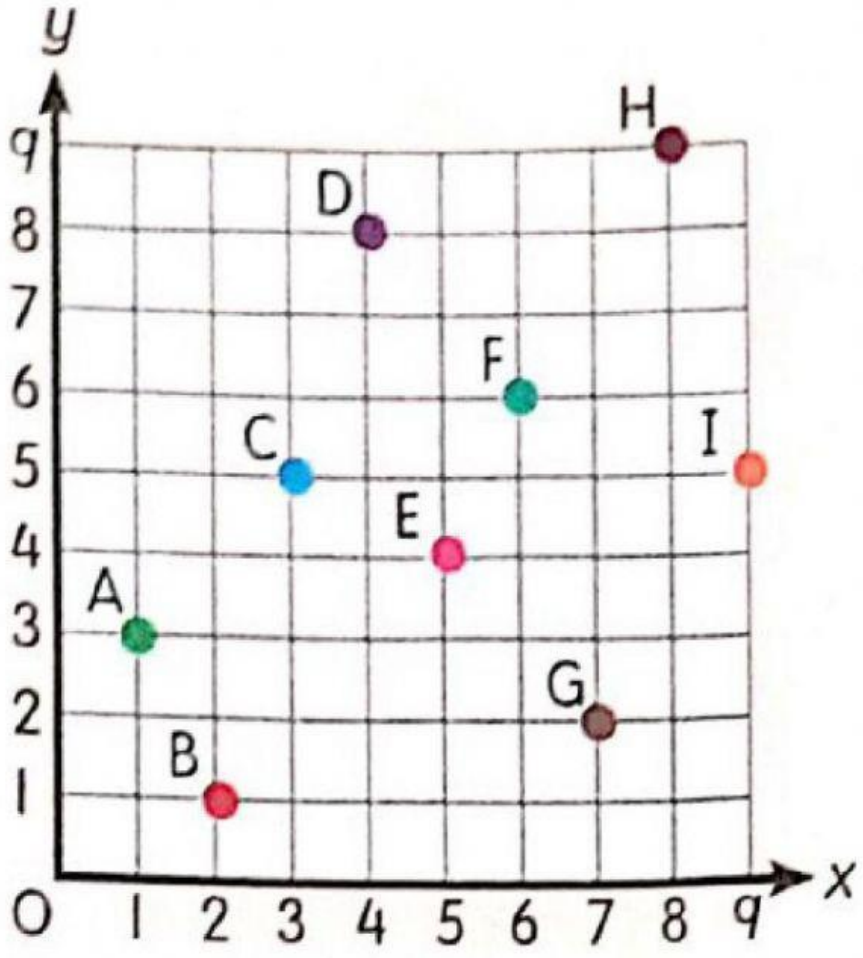

1. C dan F

   Jarak mengufuk : ____ unit

   Jarak mencancang : ____ unit

2. I dan G

   Jarak mengufuk : ____ unit

   Jarak mencancang : ____ unit

3. A dan B

   Jarak mengufuk : ____ unit

   Jarak mencancang : ____ unit

4. E dan G

   Jarak mengufuk : ____ unit

   Jarak mencancang : ____ unit

LIVEWORKSHEETS