NAMA: KELAS: TARIKH:

SELESAIKAN..

PECAHAN

SELESAIKAN

1 Suri potong sebiji kek. Dua bahagian sama besar. Berapa pecahan setiap bahagian kek itu?

Cara

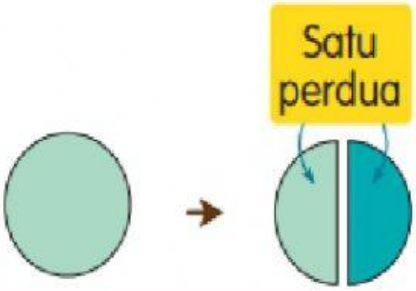

Setiap bahagian kek ialah _____

2 Ibu potong piza. 4 bahagian sama besar. Satu bahagian untuk Azim.

Apakah pecahan piza Azim?

Cara

Pecahan piza Azim ialah _____

LIVEWORKSHEETS

3 Saya makan tiga bahagian murtabak. Apakah pecahan murtabak saya makan?

Cara

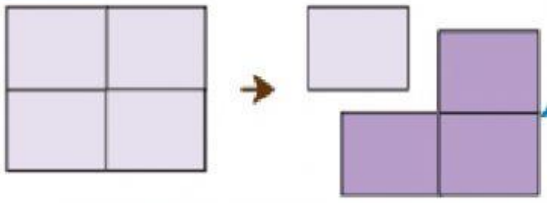

Tiga perempat

Saya makan _____ murtabak.

---

4 Dua daripada empat batas ditanam pokok tomato. Berapa pecahan itu?

Cara

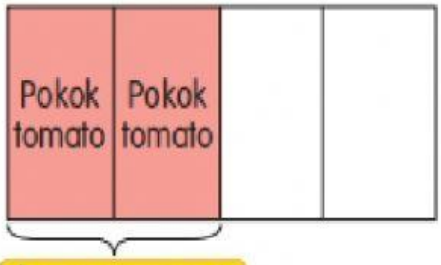

dua perempat

Pecahan itu ialah _____

LIVEWORKSHEETS

UJI DIRI

Selesaikan.

a Apakah pecahan setiap bahagian epal ini?

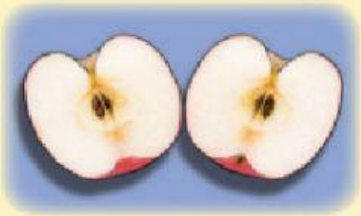

b Ani makan suku daripada satu telur dadar. Berapa pecahan itu?

c Lim bahagikan satu kertas kepada empat bahagian sama besar. Dia lukis corak pada tiga bahagian. Nyatakan pecahan bahagian bercorak itu.

d Johan minum separuh daripada satu botol jus. Jus yang manakah itu?

LIVEWORKSHEETS