# ÀNGULOS

**Reforzando lo aprendido**

**Con las siguientes palabras complete los enunciados: Agudo – recto - obtuso - llano - completo**

**Este ángulo** 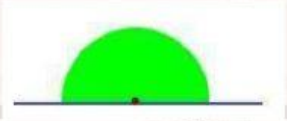 **es un ángulo:**

**Este ángulo** 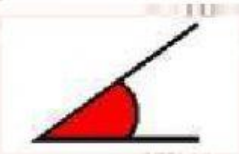 **es un ángulo:**

**Este ángulo** 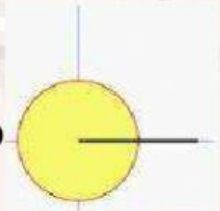 **es un ángulo:**

**Este ángulo** **es un ángulo:**

**Este ángulo**  **es un ángulo:**

**Escriba la respuesta según corresponde: Mas – menos - 90**

**El ángulo obtuso mide** _____ **de 90**

**El ángulo recto mide** _____

**El ángulo agudo mide** _____ **de 90**

LIVEWORKSHEETS