E Suaikan kepada pecahan yang betul. Kemudian, tuliskan nilai pecahan tersebut kepada perpuluhan dalam perkataan.

1

$\frac{7}{10}$

2

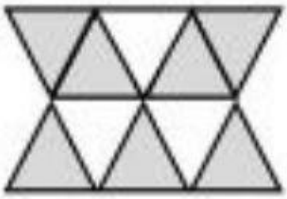

$\frac{4}{10}$

F Tandakan (✔) pada perpuluhan yang lebih kecil.

1

0.5 ☐

0.4 ☐

2

0.3 ☐

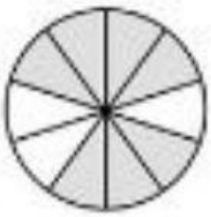

0.7 ☐

G Tandakan (✔) pada perpuluhan yang lebih besar.

1

0.5 ☐

0.8 ☐

2

0.9 ☐

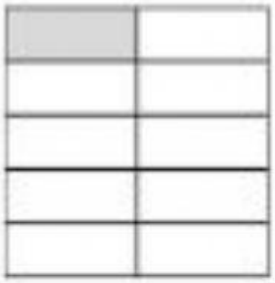

0.1 ☐

LIVEWORKSHEETS