Nama: Kelas : 3 Jujur

SK : 6.1 PENGUKURAN LUAS DAN ISI PADU
SP : 6.1.2 Mengukur luas permukaan sekata menggunakan petak yang berukuran 1cm x 1cm. (TP3)

B. Nyatakan luas permukaan-permukaan berikut yang diukur dengan petak 1 cm .

(a) Permukaan kulit buku



(i) Bilangan petak 1 $cm^2$ yang diguna: _____

(ii) Luas permukaan kulit buku = _____ $cm^2$

(b) Permukaan jam segi empat sama



(i) Bilangan petak 1 $cm^2$ yang diguna: _____

(ii) Luas permukaan muka jam = _____ cm

(c) Permukaan pemadam segi empat tepat

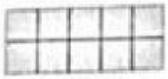

(i) Bilangan petak 1 $cm^2$ yang diguna: _____

(ii) Luas permukaan pemadam = _____ cm



LIVEWORKSHEETS