TAJUK : KOORDINAT

1 Rajah 1 menunjukkan kedudukan beberapa haiwan.

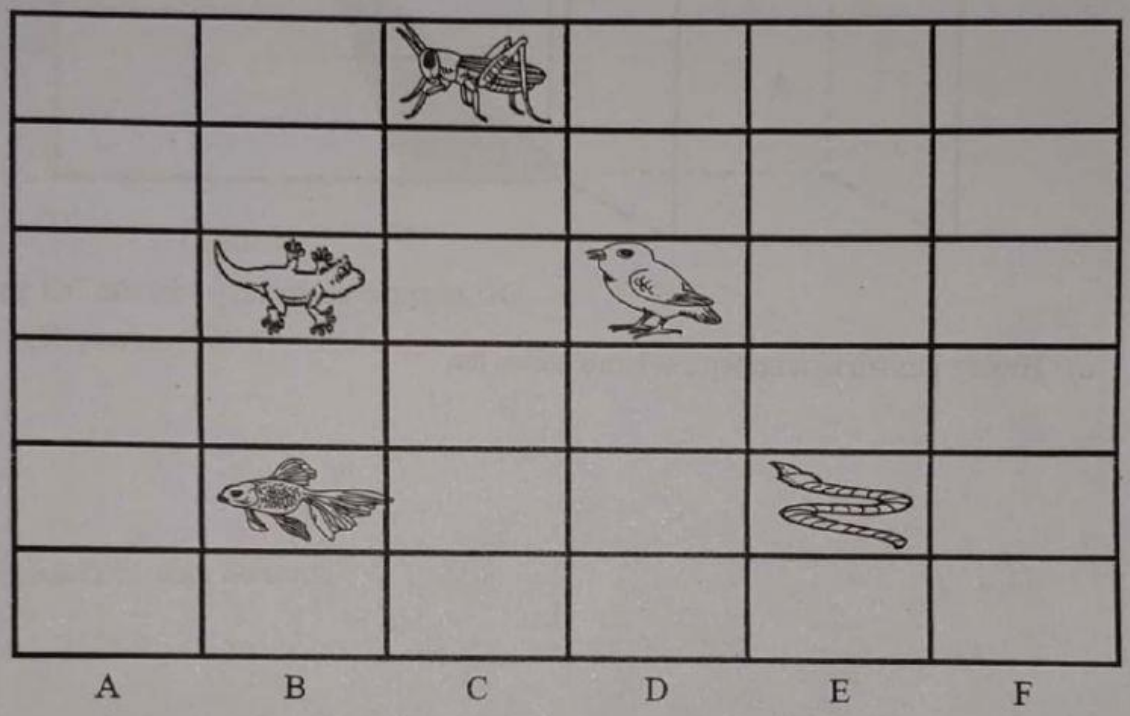

Rajah 1

(a) Nyatakan kedudukan ikan.

.....

(b) Nyatakan kedudukan belalang.

.....

(c) Nyatakan kedudukan burung.

.....

Created by Classroom Suhaini
LIVEWORKSHEETS

2. Berdasarkan rajah 2, isi tempat kosong.

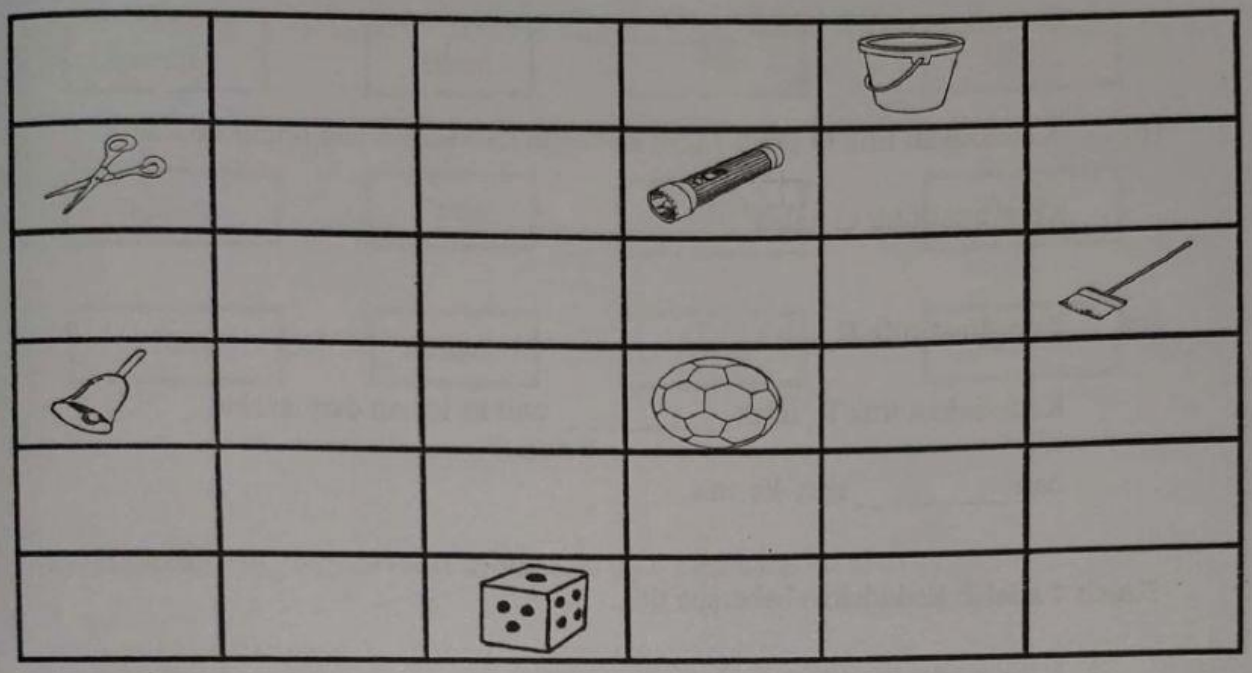

Rajah 2

(a) _____ berada di 4 petak mengufuk dan 3 petak mencancang.

(b) _____ berada di 5 petak ke kanan dan 6 petak ke atas.

(c) _____ berada di 6 petak ke kanan dan 4 petak ke atas.

(d) _____ berada di lajur pertama, baris kelima.

(e) _____ berada di lajur keempat, baris kelima.

Created by Cikgu Suhaini
LIVEWORKSHEETS

3. (a) Kedudukan titik **P** ialah 4 unit ke kanan dari asalan dan 3 unit ke atas.

Koordinat titik **P** ialah _____

(b) Kedudukan titik **Q** ialah 7 unit ke kanan dari asalan dan 0 unit ke atas.

Koordinat titik **Q** ialah _____

(c) Koordinat titik **R** ialah (5,2).

Kedudukan titik **R** ialah _____ unit ke kanan dari asalan

dan _____ unit ke atas.

4. Rajah 4 adalah kedudukan beberapa titik.

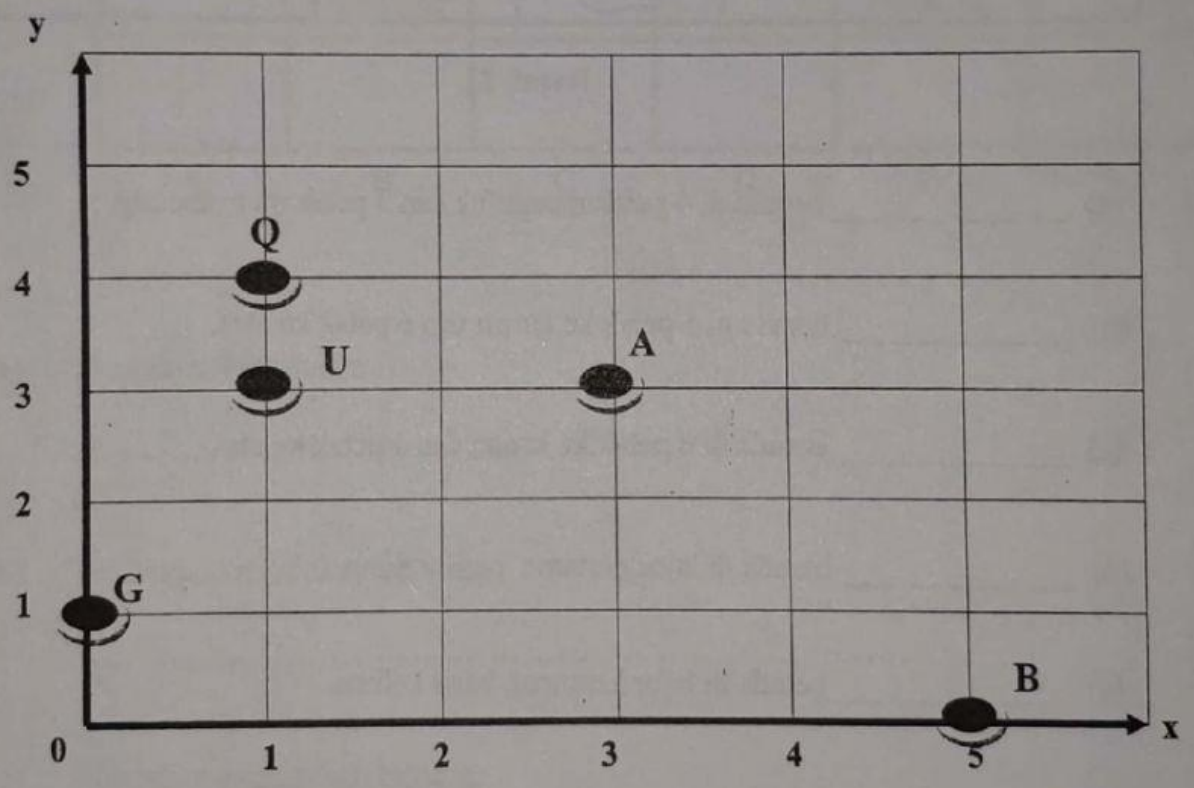

Rajah 4

Nyatakan koordinat bagi setiap titik yang berikut;

(a) Titik Q : _____

(b) Titik A : _____

(c) Titik B : _____

(d) Titik U : _____

(e) Titik G : _____

Created by Geniusbelajar
LIVEWORKSHEETS

Rajah 5 menunjukkan kedudukan murid kelas 6 Ibnu Mas'ud.

Damia	Adnin	Iza	Uzma
Danish	Fahim	Lokman	Alya
Haris	Iman	Akid	Safwan

Rajah 5

(a) Siapakah yang berada pada kedudukan lajur ke 2 baris ke 3?

.....

(b) Siapakah yang berada pada kedudukan lajur ke 3 baris ke 2?

.....

(c) Siapakah yang berada pada kedudukan lajur ke 4 baris ke 1?

.....

(d) Siapakah yang berada pada kedudukan lajur ke 1 baris ke 1?.

.....

(e) Siapakah yang berada pada kedudukan lajur ke 3 baris ke 3?

.....

(f) Siapakah yang berada pada kedudukan lajur ke 1 baris ke 3?

.....

Created by Cikgu Suhaini
LIVEWORKSHEETS