ESCUELA DE EDUCACIÓN BÁSICA
"EDUARDO KINGMAN"

Sibambe # 510 y Ambato

2-154-409

CALIFICACIÓN

ASIGNATURA: MATEMÁTICAS AÑO BÁSICO: 2DO A y B

NOMBRE: _____

FECHA: _____

EVALUACIÓN CORRESPONDIENTE AL PRIMER PARCIAL PRIMER QUIMESTRE

FIRMA DEL PROFESOR

1. **Arrastra los elementos al conjunto que le corresponda. (0.50 pts.)**

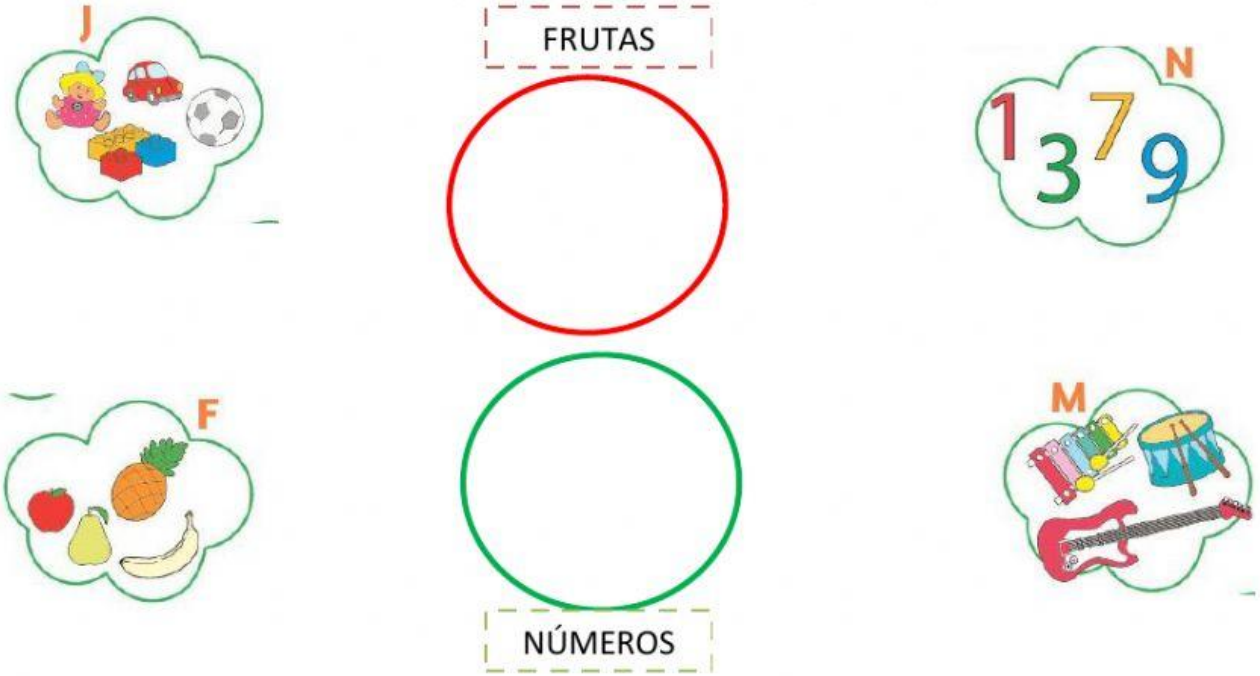

2. **Completa la serie del 1 al 19 con los números que faltan de 1 en 1. (1 pt.)**

1	-		-	3	-		-	5	-
	-	7	-		-	9	-		-
11	-		-	13	-		-	15	-
	-	17	-		-		-	20	

LIVEWORKSHEETS

3. **Selecciona el elemento correcto que completa cada secuencia. (1pts)**



4. **Cuenta los elementos escribe los números que corresponden y resuelve las sumas. (1.50pts)**

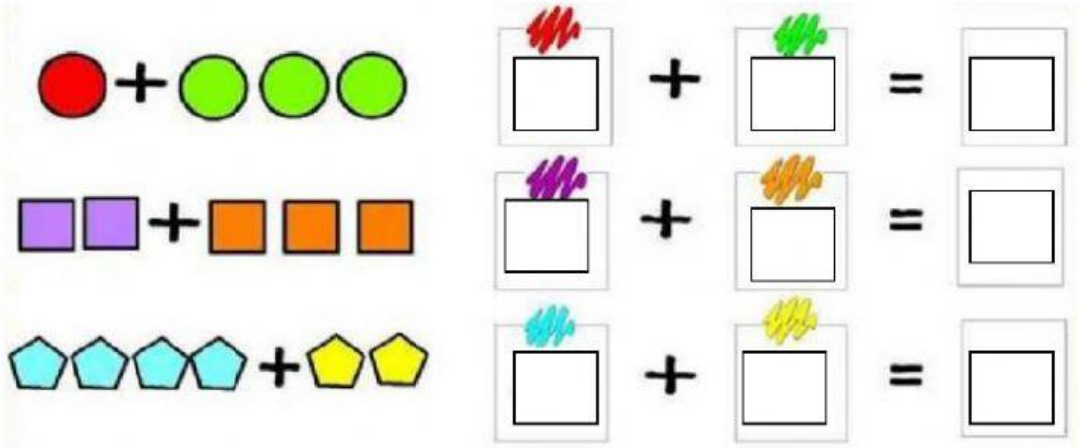

5. **Escriba los números que van antes, entre y después. (1.50pts.)**

Antes	Entre	Después
	8	
3		5
	10	
12		14

LIVEWORKSHEETS

6. **Arrastra el signo de mayor, menor e igual que donde corresponda.(1.50pts)**

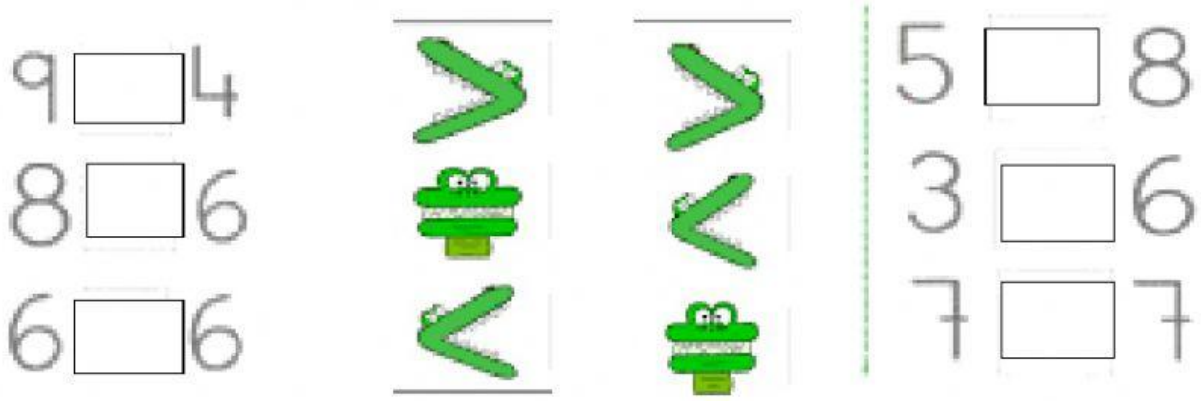

7. **Selecciona la escritura en letra que le corresponde a cada número. (2pts)**



8. **Dictado de números. (1pt)**

LIVEWORKSHEETS