Colegio Gracia y Paz Los Ángeles
Educadora diferencial: Miss Priscilla San Martín Reyes.

GUÍA DE APRENDIZAJE DE MATEMÁTICA

CALCULAR EL ÁREA DE FIGURAS PLANAS EN UNIDADES CUADRADAS.

OBJETIVO: Calcular el área de figuras planas.

1- Calcula el área de las siguientes figuras.



Área= u^2



Área= u^2

2- En cuál de estás figuras el área mide 15 u^2

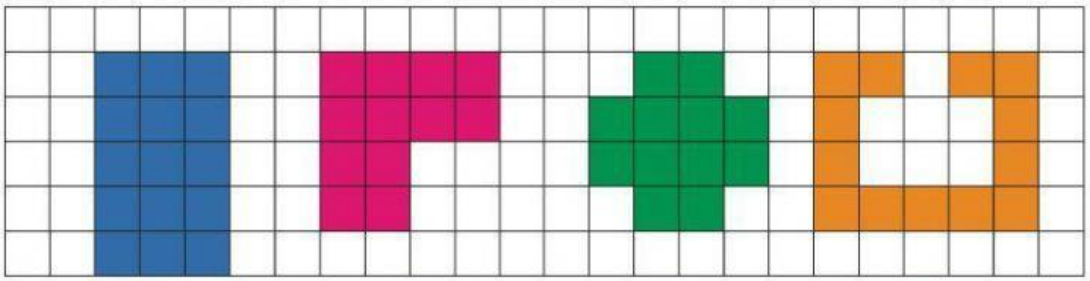

Arrastra la figura que corresponde

FORMANDO LIDERES QUE GOBERNARÁN EL MAÑANA.

LIVEWORKSHEETS