Lista de exercícios envolvendo ângulos formados por duas retas paralelas e uma transversal.

Nome:_____ _____

1. Sabendo que r//s, dê a medida dos ângulos indicados:

a)

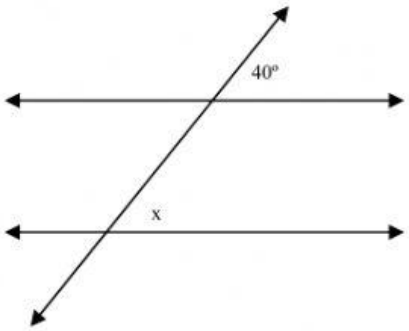

b)

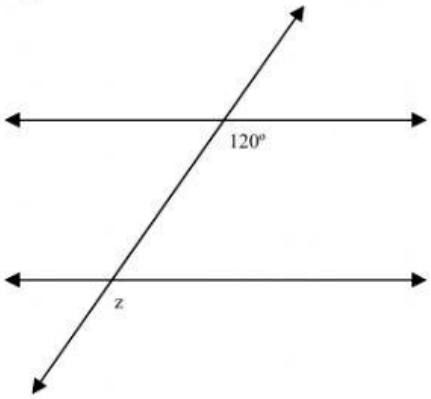

2. Nas figuras a seguir r//s e t é transversal, determine as medidas x e y dos ângulos destacados:

a)

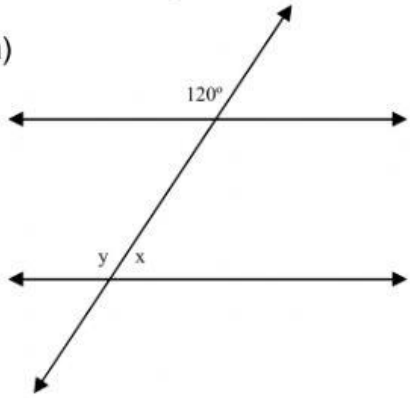

b)

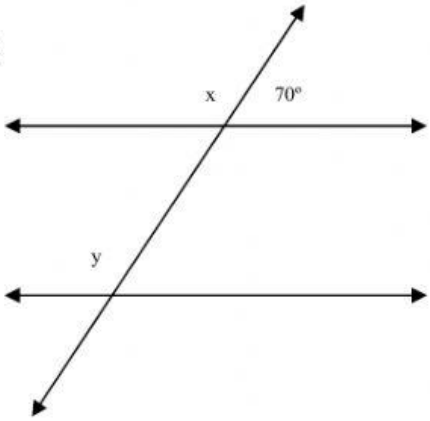

LIVEWORKSHEETS

3. Determine as medidas x e y em cada caso, sabendo que r//s e t é transversal:

a)

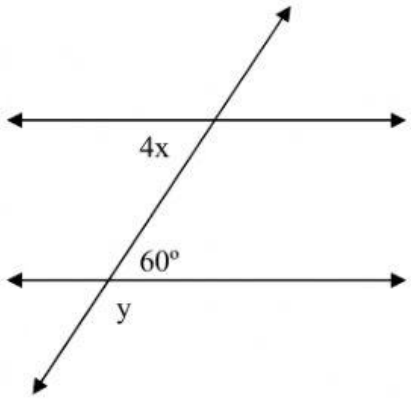

b)

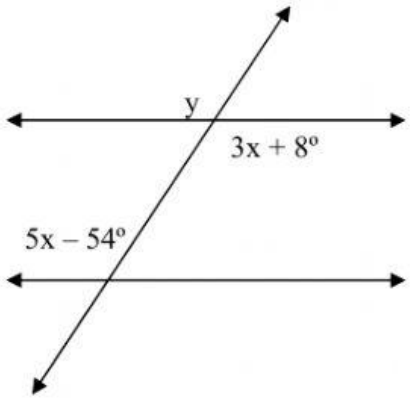

4. Classifique as sentenças a seguir como verdadeiras ou falsas:

( ) Os ângulos correspondentes são suplementares.

( ) Os ângulos alternos internos são congruentes.

( ) Os ângulos alternos externos são complementares.

( ) Os ângulos colaterais internos são congruentes.

( ) Os ângulos colaterais externos são suplementares.

LIVEWORKSHEETS