ESCOLA ESTADUAL TENENTE MÓL – 3º ANO

1 – Escreva a medida correta:

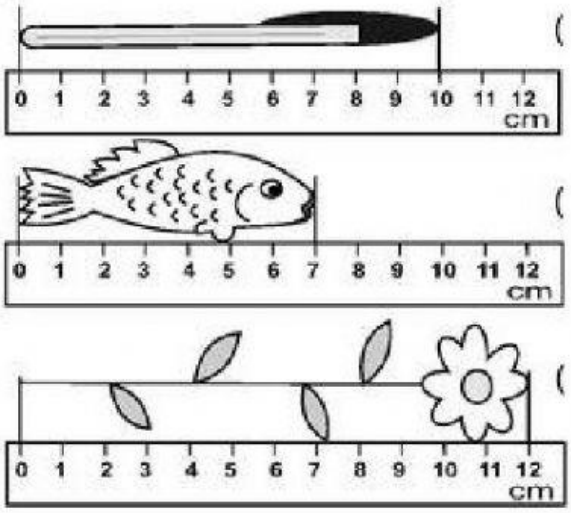

( )centímetros

( )centímetros

( )centímetros

2 - Estime a medida da altura indicada em cada figura e então ligue as figuras às medidas correspondentes:

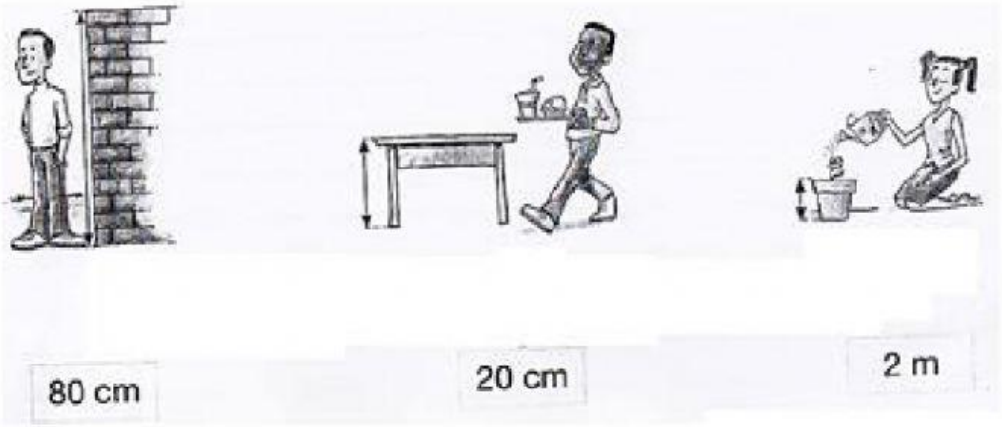

3 - A professora mediu a altura de alguns alunos da escola. Veja no quadro abaixo a altura desses alunos e responda às perguntas.

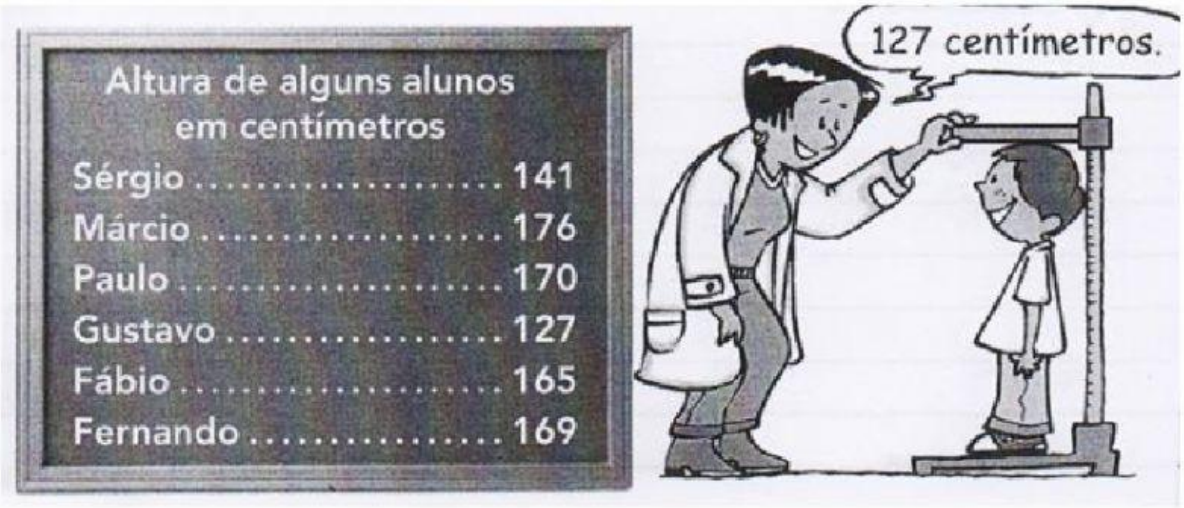

LIVEWORKSHEETS

a) Desses alunos, quem é o mais alto? Quanto ele mede?

_____

b) Quem é o mais baixo? Quanto ele mede?

_____

c) Qual é a diferença entre a altura de Gustavo e a de Márcio?

_____

d) Quantos centímetros Gustavo é mais baixo que Fernando?

_____

e) Quantos centímetros Fábio é mais baixo que Paulo?

_____

4 – Veja o desenho que mostra um bairro e marque a alternativa correta:

A) A ESCOLA ESTÁ DO LADO DIREITO DO MERCADO.

B) O HOSPITAL ESTÁ DO LADO DIREITO DO MERCADO.

C) A SORVETERIA ESTÁ DO LADO ESQUERDO DO BANCO.

D) A PADARIA ESTÁ DO LADO DIREITO DO BANCO.

5 – Escolha o nome do sólido geométrico que cada figura lembra:

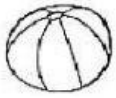

A bola lembra uma _____.

Um lápis lembra um _____.

Um funil lembra um _____.



Um dado lembra um _____.

LIVEWORKSHEETS