MATEMÁTICAS

En la papelería venden **lápices sueltos** y **cajas de 10 piezas**.

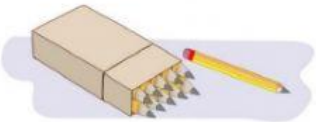

1 y 2.- Escribe cuántos lápices hay en cada caso.

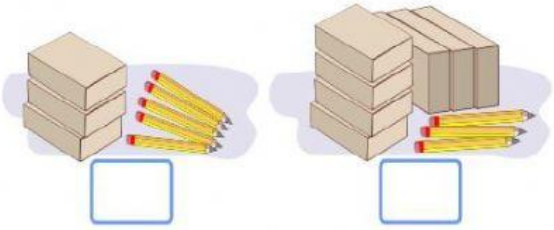

3 y 4.- Escribe en los recuadros los números que faltan en la recta numérica.

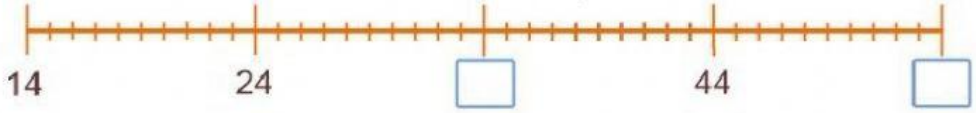

Observa la siguiente imagen.

5 a la 8.- Responde las siguientes preguntas:

Daniel compró estos artículos:

¿Cuánto pagó?

Sofía compró estos artículos:

¿Cuánto pagó?

María quiere comprar:

Tiene 40 pesos.
¿Cuánto le falta?

José quiere comprar:

Tiene 33 pesos.
¿Cuánto le falta?

LIVEWORKSHEETS

9 al 12.- Enumera los recipientes del 1 al 4 para ordenarlos del más ligero al más pesado.

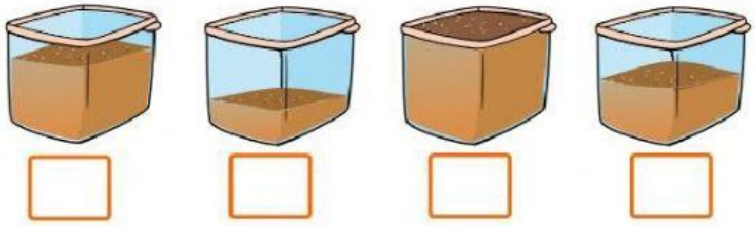

13.- Selecciona ☑ la parte que falta para completar la figura.

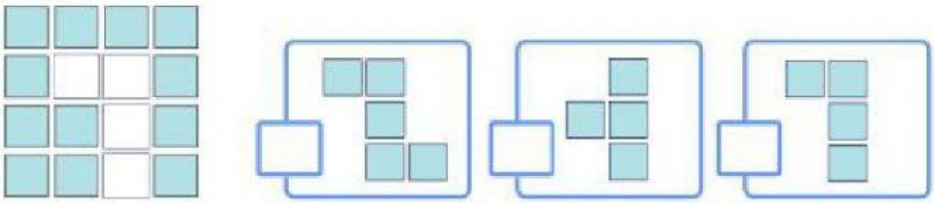

14.- Selecciona ☑ el par de vasos que tiene la misma cantidad de líquido.

15 al 17.- Une con una línea la descripción que corresponde con cada objeto.

Un objeto que rueda y avanza.	Un objeto que solo rueda por una de sus partes y avanza.	Un objeto que no puede rodar.

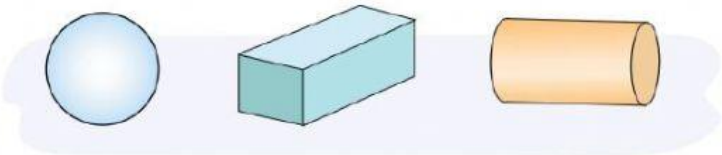

LIVEWORKSHEETS

18.- Mariana pondrá a la venta sus últimas piezas de fruta: a 1 peso los tomates y a 10 pesos las sandias.

¿Cuánto dinero obtendrá con toda la venta?

19 y 20.- Resuelve las operaciones.

148 +	193-
32	162

LIVEWORKSHEETS