EVALUACIÓN DE CIENCIAS NATURALES

LEE CON ATENCIÓN CADA PREGUNTA Y CONTESTE:

1. **RELACIONA CADA DIBUJO CON LA FUNCIÓN VITAL QUE LE CORRESPONDE:**

a. sistema respiratorio
b. sistema esquelético
c. sistema excretor
d. sistema digestivo
e. sistema muscular
f. sistema nervioso
g. sistema circulatorio

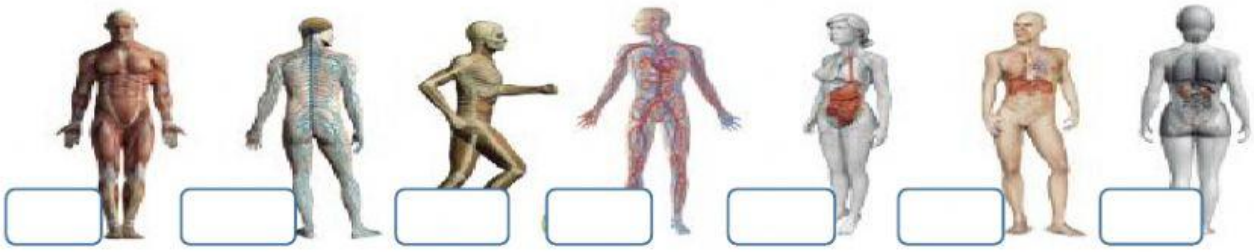

2. **ORDENA LAS PALABRAS EN EL ORDEN CORRECTO DE SU FORMACIÓN:**

TEJIDOS	ORGANISMO	CÉLULAS	SISTEMAS	ÓRGANOS
1.	2.	3.	4.	5.

3. **UNIR CON LÍNEA:**

ARTICULACIÓN FIJA	COLUMNA
ARTICULACIÓN MÓVIL	CEREBRO
ARTICULACIÓN SEMIMÓVIL	RODILLA

4. **IDENTIFICA Y UBICA LOS ÓRGANOS QUE CORRESPONDEN AL APARATO REPRODUCTOR FEMENINO Y MASCULINO.**

OVARIOS	PRÓSTATA	VAGINA	PENE
TESTÍCULOS	ÚTERO	URETRA	TROMPAS DE FALOPIO





LIVEWORKSHEETS