COLEGIO
SAN ANTONIO IHM

Matemática Quinto grado

POLÍGONOS

1. Une con una flecha el dibujo con el nombre del polígono

PENTÁGONO NONÁGONO HEXÁGONO TRIÁNGULO

HEPTÁGONO CUADRILÁTERO DECÁGONO OCTÁGONO

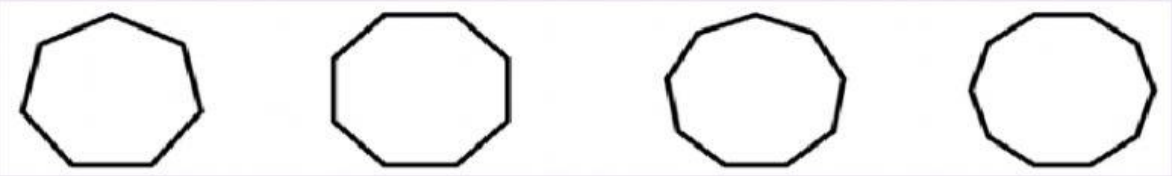

2. Escribe el nombre de los elementos del polígono, no te olvides de las tildes, todo en minúscula (vértice, lado, ángulo interno, ángulo externo, diagonal)

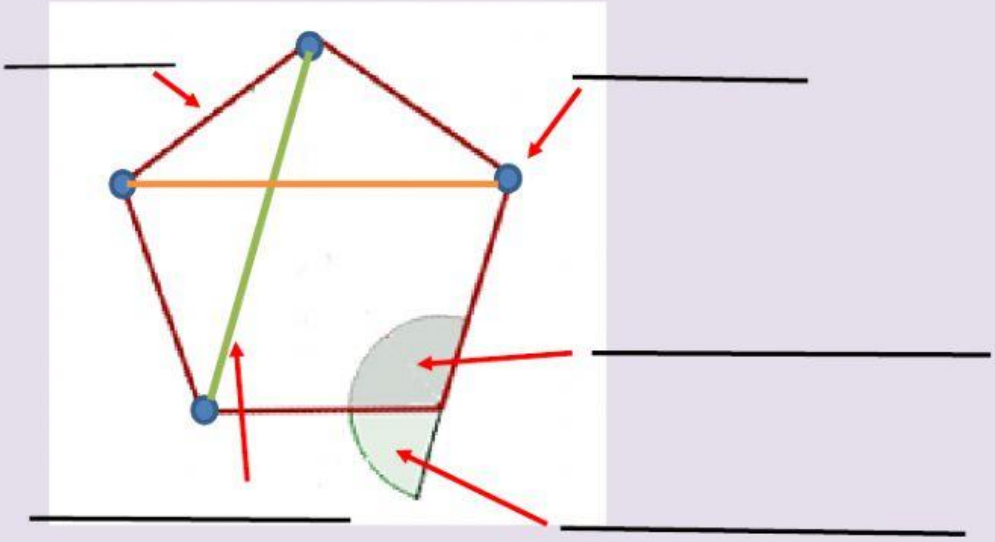

LIVEWORKSHEETS

3. Arrastra el nombre al recuadro azul del polígono adecuado.

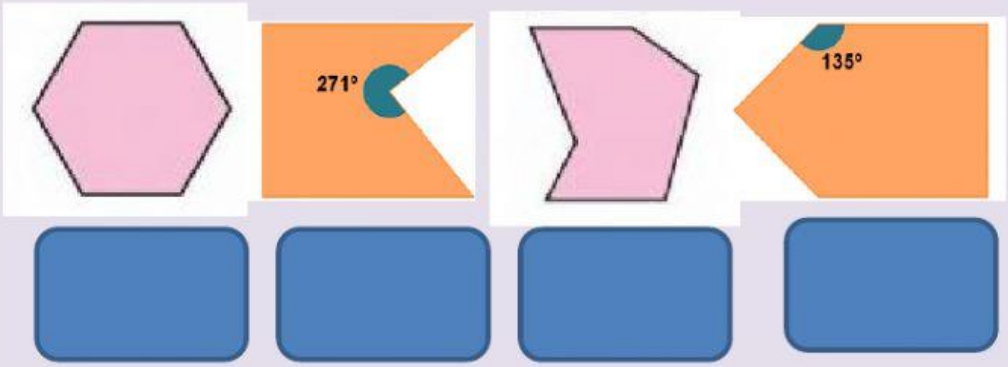

hexágono irregular | Polígono convexo | Polígono cóncavo | hexágono regular

4. Escribe dentro del paréntesis (verdadero)o (falso)

- El único cuadrilátero es el cuadrado (_____)
- El triángulo tiene una diagonal (_____)
- Los polígonos tienen igual número de lados, ángulos y vértices (_____)
- El cuadrilátero tiene dos diagonales (_____)
- Un hexágono tiene 7 ángulos (_____)

LIVEWORKSHEETS