Sains Tahun 5

Topik : Litar Bersiri Dan Litar Selari

A) Nyatakan jenis litar elektrik di bawah.

Litar selari	Litar bersiri	Litar bersiri	Litar selari

	
a)	b)

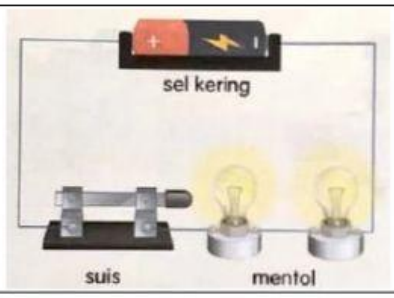	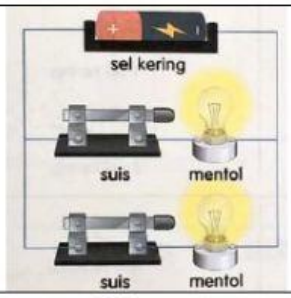
c)	d)

B) Pilih jawapan yang betul.

1. Litar bersiri mempunyai ___ untuk arus elektrik mengalir.

	satu laluan
	banyak laluan

2. Setiap mentol dalam litar bersiri disusun dalam bentuk ___.

	cabang yang selari
	satu rantai

LIVEWORKSHEETS

3. Litar selari mempunyai ___ daripada satu laluan untuk arus elektrik mengalir.

	satu
	lebih

4. Susunan mentol pada litar selari dalam bentuk cabang yang ___ antara satu sama lain.

	bersiri
	selari

C) <u>Padankan komponen dengan symbol elektrik yang betul.</u>

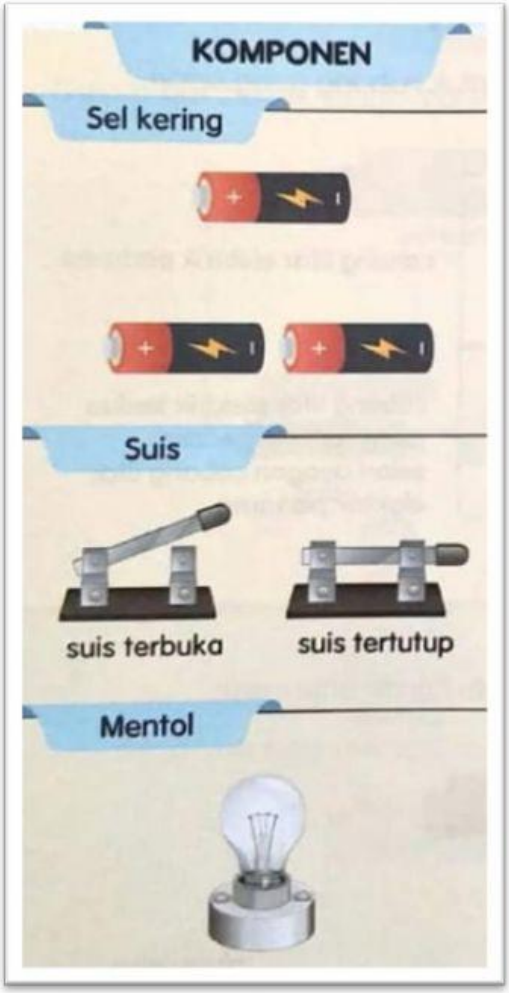

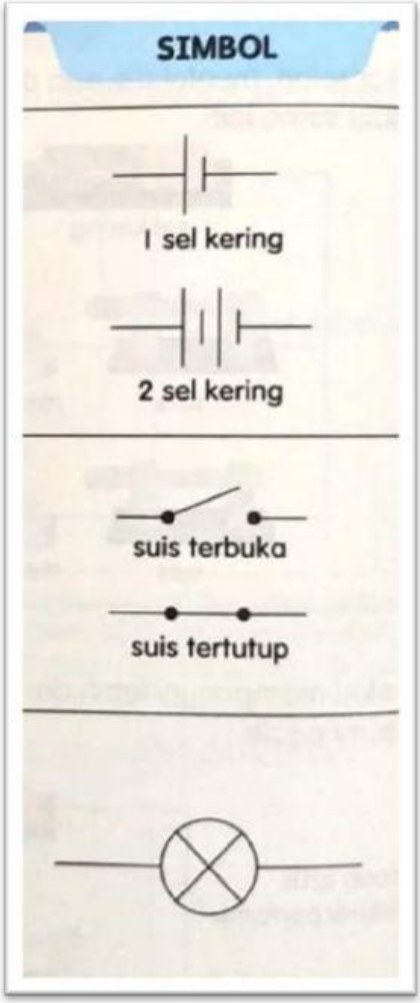

LIVEWORKSHEETS