CUERTIONARIO DE REFUERZO CIENCIAS NATURALES

1. **Relacione con líneas de acuerdo a la clasificación de los animales vertebrados**

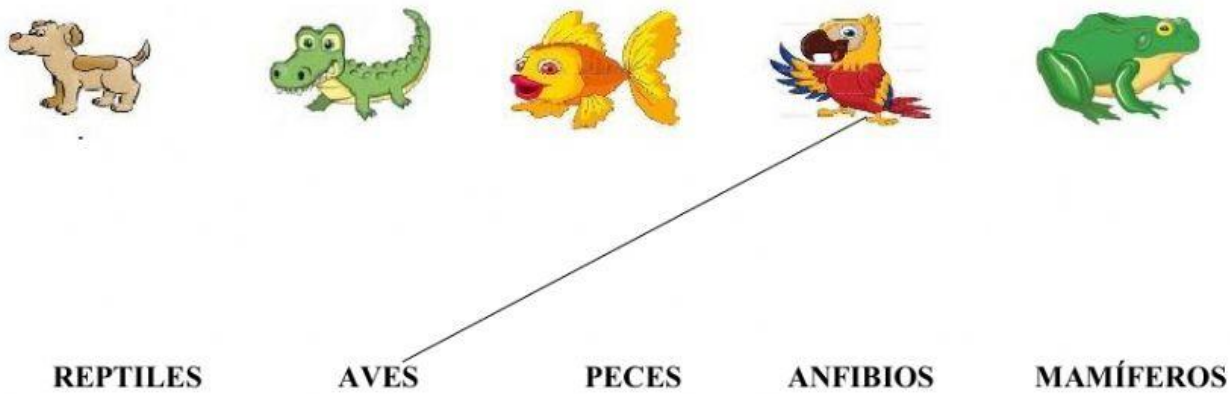

2. **Seleccione la respuesta correcta.**

- **Proceso que permite a las plantas elaborar su propio alimento.**

  Fotosíntesis

  Sabia bruta

- **Identifique que necesita el cuerpo humano para su buen funcionamiento.**

  Agua, aire, alimento.

  Jugar, comer, saltar.

- **El sol es una fuente de energía:**

  Renovable.

  No renovable.

- **En la cadena alimenticia las plantas son organismos:**

  Depredadores

  Productores

3. **Lea los enunciados y arrastre el término donde corresponda.**

- _____ Es la descomposición de la luz en los colores que la forman.
- _____ Consiste en una tormenta que tiene rayos y truenos.
- _____ Es el fenómeno que solamente ocurre cuando la temperatura de la atmósfera es menor a 0 °C.
- _____ Ocurre cuando la precipitación del agua cae a la tierra desde las nubes.

Lluvia

Arco iris

Nieve

Tormenta eléctrica

LIVEWORKSHEETS

4. **Escriba el nombre de las capas atmosféricas en el gráfico.**



5. **Seleccione los cambios de estados de la materia de acuerdo al esquema.**

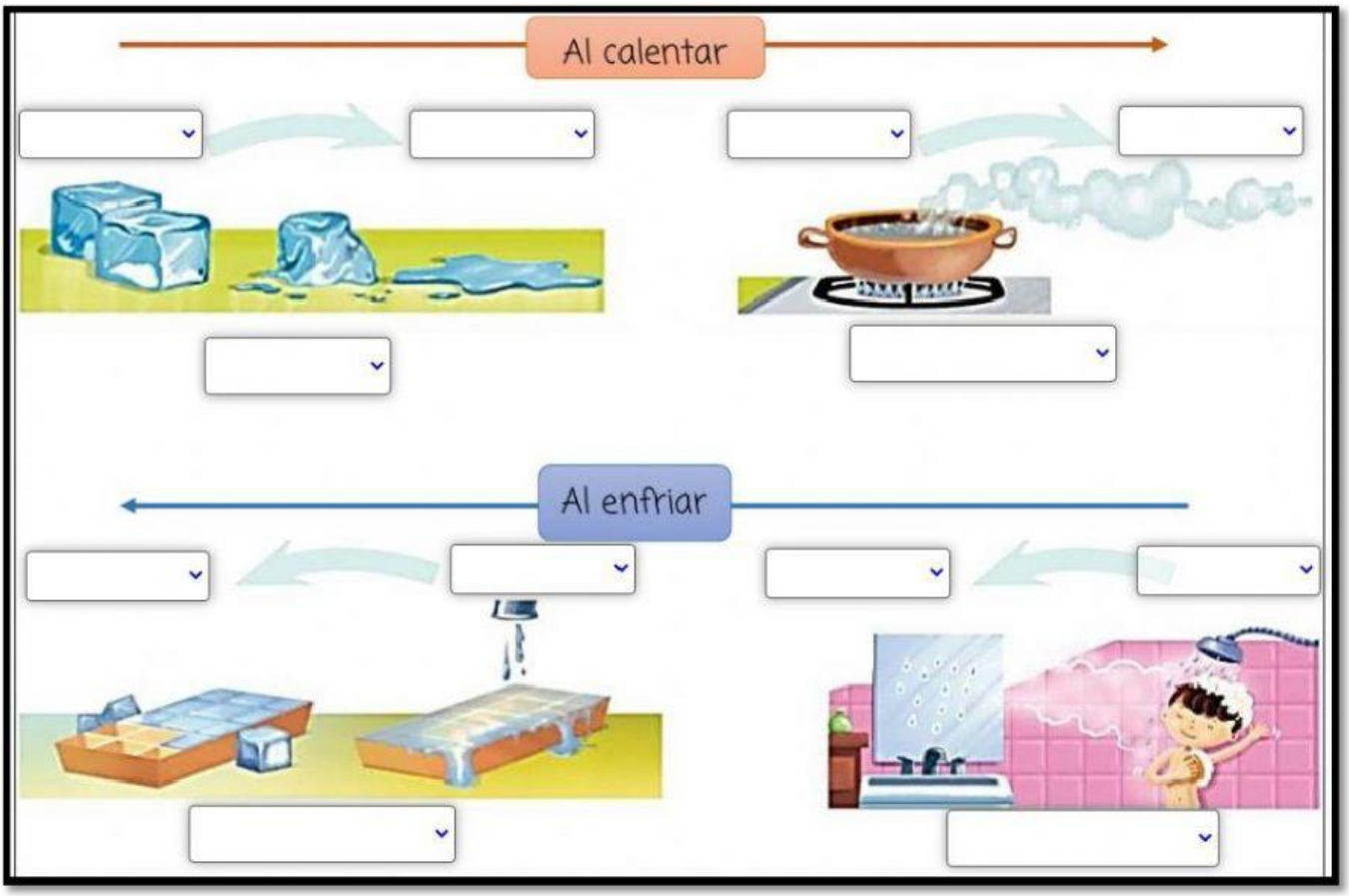

LIVEWORKSHEETS