LOS POLÍGONOS

1. Señala las partes de este polígono.

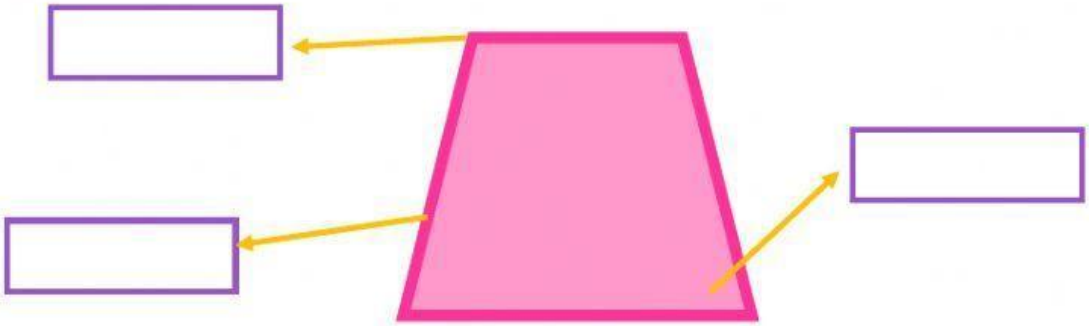

2. Completa la tabla de los polígonos según su número de lados, ángulos y vértices. Después indica cuáles son sus nombres.

FIGURA	NÚMERO DE LADOS	NÚMERO DE VÉRTICES	NÚMERO DE ÁNGULOS	NOMBRE
				_____
				_____
				_____
				_____
				_____
				_____
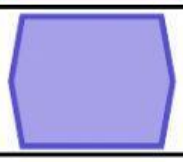				_____

Teacher Marta
LIVEWORKSHEETS