Escuela Los Rastrojos
Ciencias Naturales : 3° Básico
Profesor: José Silva Pinto

Ficha Monitoreo Aprendizaje de Matemática

Seleccione una alternativa correcta para cada pregunta.

1 ¿Con qué situación se relacionan la inclinación de la Tierra y el movimiento de traslación?

A En el amanecer.

B En la ocurrencia de las fases lunares.

C En la sucesión de las estaciones del año.

D En la posición del Sol que se observa durante el día.

2 ¿Cuál de las siguientes opciones es correcta de acuerdo al movimiento de rotación de la Tierra?

A La Tierra se traslada alrededor de otro planeta.

B La Tierra se traslada alrededor del Sol.

C La Tierra gira alrededor de la Luna.

D La Tierra gira sobre su propio eje.

3 El movimiento que se observa en la siguiente imagen dura 1 año. ¿ Qué fenómeno se muestra?

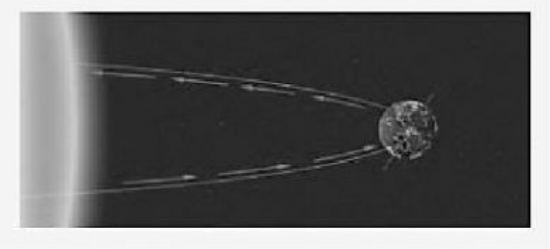

A Eclipse.

B Fases de la Luna.

C Movimiento de rotación.

D Movimiento de translación.

4 ¿ Qué fenómeno están representando los niños de la imagen?

A La sucesión del día y la noche.

B Movimiento de rotación de la Tierra.

C Movimiento de traslación de la Tierra.

D La inclinación del eje de rotación de la Tierra.

5 Los movimientos de la Tierra producen los siguientes efectos:

A Los eclipses de Sol yLuna.

B El día y la noche, y los eclipses.

C Los días nublados y las estaciones.

D El día y la noche, y las cuatro estaciones.

6 ¿Qué nombre recibe el movimiento que realiza la Tierra representado en la imagen, que tiene una duración de 24 horas?

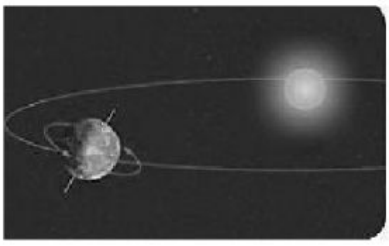

A Eclipse.

B Fases de la Luna.

C Movimiento de rotación.

D Movimiento de translación.

7 El siguiente modelo representa mediante flechas uno de los movimientos que realiza la Tierra. ¿Cuál de las siguientes afirmacioneses correcta respecto del movimiento del planeta Tierra?

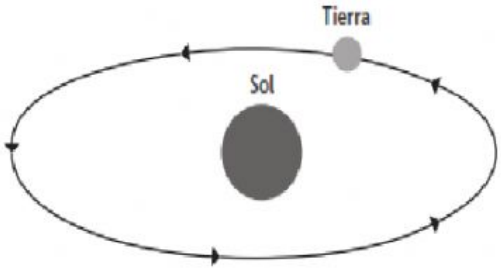

A Genera el día y la noche.

B Influye en la subida y bajada de las mareas

C Determina las estaciones del año.

D Se demora un año en completar una vuelta entorno al Sol.

8 ¿Qué tipo de movimiento de la Tierra provoca el efecto que se muestra en la imagen, que corresponde al invierno?

A El movimiento de rotación de la Luna.

B El movimiento de rotación de la Tierra.

C El movimiento de traslación de la Luna.

D El movimiento de traslación de la Tierra.

9 ¿Cuánto tiempo demora la Tierra en girar en torno a su eje?

A 24 días. B 24 horas. C 24 meses. D 24 semanas.

10 ¿Qué movimiento de la Tierra produce el fenómeno que se ve en la imagen?

A Rotación

B Traslación

C Eclipse

D Trasportación

11 ¿Cuánto tiempo demora la Tierra en girar en torno al sol?

A 1 día. B 1 semana. C 1 mes. D 1 año.