Geometría.

PARTE I.-

Actividades de repaso.

1) ¿Cuál es la mínima parte de una línea?

2) ¿Cuál es el ente geométrico que tiene principio, pero no final?

3) ¿Cómo se nombra al plano?

4) Si tengo 2 letras imprentas minúsculas ¿qué elementos de la geometría puedo estar mencionando?

*ÁNGULO. * SEMIRRECTA * PLANO * SEGMENTO

5) ¿Qué se debe trazar en el plano para obtener 2 semiplanos?

6)



Las rectas en las figuras ¿a qué corresponden?

7) Porción de una recta:

8) ¿Qué representan las barras // ?

9) Toda línea comparada a otra que se une en un punto.

10) Unir los símbolos con el nombre del ente geométrico.

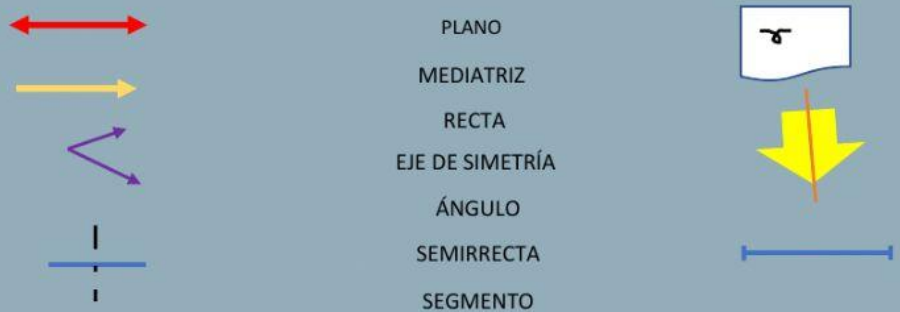

11) Completar el texto.

"La recta puede dividirse en 2 partes, a través de un _____ marcado en ella.

Cada una de las partes recibe el nombre de _____ .

El espacio comprendido entre 2 _____ unidas en un punto, llamado _____ , forman un _____.

LIVEWORKSHEETS

Si se determinan 2 puntos de la _____ se obtiene un _____ que puede corresponder a los lados de una _____ .

PARTE II.-

Actividades de aplicación.

1) Dentro de la figura marca las partes, colocando las letras que corresponde.

A : VÉRTICE. B : RECTA. C : ÁNGULO

D : SEGMENTO. E: PLANO.

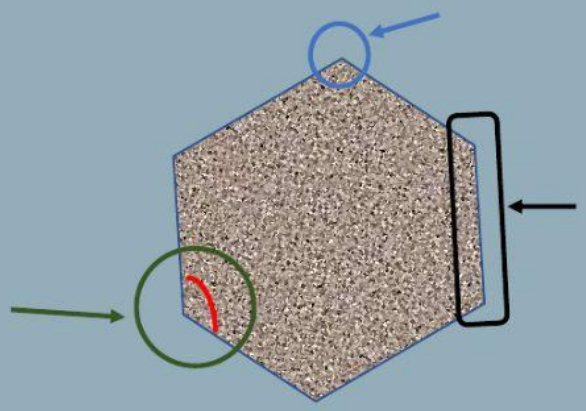

2) Responde:

a) Sí se unen 2 puntos ¿qué se forma?

b) ¿Todos los segmentos son parte de una recta?

3) Observa dibujo y completa las oraciones con las cantidades de líneas.



En el dibujo se observan:
Pares de rectas paralelas.
Pares de rectas perpendiculares.
Pares de rectas oblicuas.

4) Observa los dibujos e indica cuántos PUNTOS hay nombrados. _____ (Colocar sólo el número).

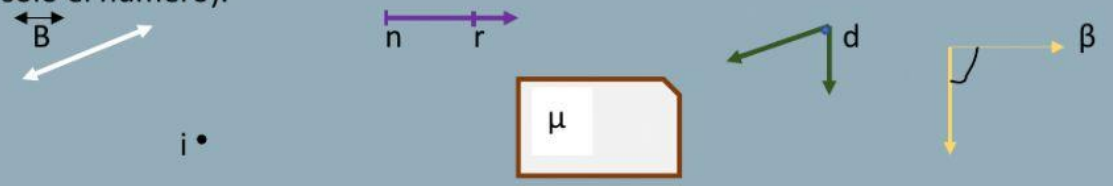

LIVEWORKSHEETS