1. ANGULOS Y LINEAS

INSTRUCCIONES: Mide los siguientes ángulos, recordando que la medición inicia en el 0°

1. ¿Cuánto mide este ángulo? ____ °

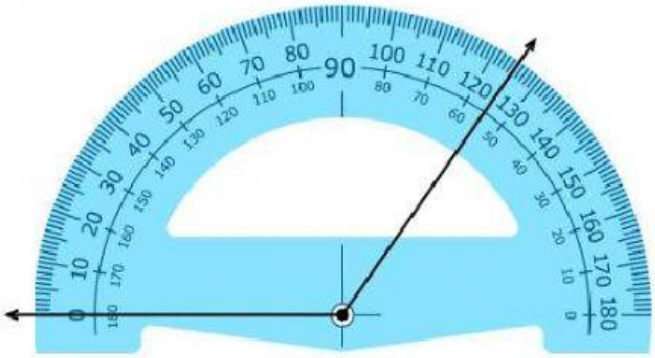

2. ¿Cuánto mide este ángulo? ____ °

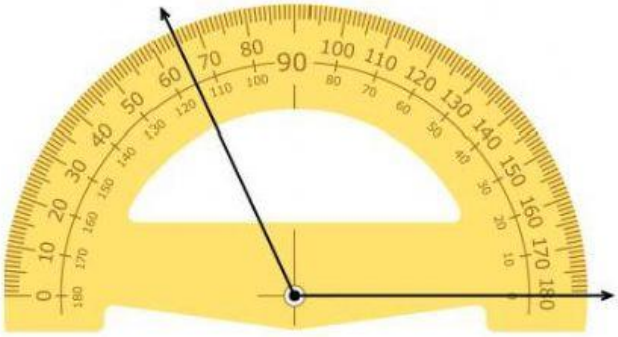

3. ¿Estas líneas se llaman?



4. ¿Estas líneas se llaman?

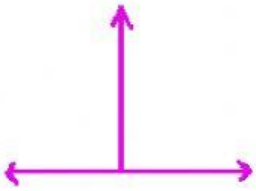

5. ¿Cómo se llama este ángulo?

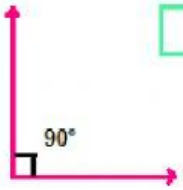

LIVEWORKSHEETS