NO. KAD PENGENALAN /
NO. SIJIL KELAHIRAN

ANGKA GILIRAN

PEPERIKSAAN PERCUBAAN
UPSR
MATEMATIK
KERTAS 1
2019

015/1

1 Jam **Satu jam**

JANGAN BUKA KERTAS SOALAN INI SEHINGGA DIBERITAHU

1. *Anda dikehendaki menulis* **nombor kad pengenalan / nombor sijil kelahiran** *dan* **angka giliran** *anda pada petak yang disediakan.*
2. *Kertas soalan ini mengandungi* **40** *soalan. Jawab* **semua** *soalan.*
3. *Jawab dengan menghitamkan ruangan pada kertas jawapan yang disediakan.*
4. *Bagi satu soalan hitamkan satu ruangan sahaja.*
5. *Jika anda hendak menukar jawapan, padamkan tanda yang telah dibuat. Kemudian hitamkan jawapan yang baru.*
6. *Anda boleh membuat kerja mengira di tempat kosong di dalam kertas soalan ini.*

Kertas soalan ini mengandungi 12 halaman bercetak

LIVEWORKSHEETS

1 Rajah 1 menunjukkan masa dalam sistem 24 jam.

Jam 0045

Rajah 1

Nyatakan dalam sistem 12 jam.

A Pukul 1:45 pagi
B Pukul 1:45 petang
C Pukul 12:45 pagi
D Pukul 12:45 tengah hari

2 Bundarkan 673 598 kepada puluh ribu yang terdekat. Nyatakan jawapan dalam perpuluhan juta.

A Sifar perpuluhan enam tujuh juta.
B Sifar perpuluhan enam lapan juta.
C Enam perpuluhan tujuh juta.
D Enam perpuluhan lapan juta.

3 Rajah 2 menunjukkan sebuah piramid.

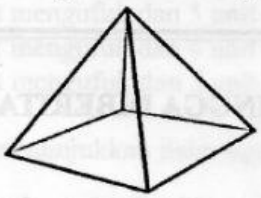

Rajah 2

Nyatakan bilangan permukaan rata berbentuk segi tiga?

A 2
B 3
C 4
D 5

4 Antara yang berikut, yang manakah betul?

A $3\frac{1}{2} = \frac{6}{2}$

B $4\frac{1}{3} = \frac{8}{3}$

C $5\frac{1}{4} = \frac{22}{4}$

D $6\frac{3}{5} = \frac{33}{5}$

LIVEWORKSHEETS

5 7 kg 9 g =

A 7.09 kg
B 7.009 kg
C 709 kg
D 7 009 kg

6 Rajah 3 menunjukkan satu sudut tirus yang dibina di atas beberapa petak segi empat sama yang sama besar.

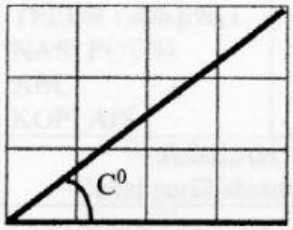

Rajah 3

Nyatakan anggaran sudut C.

A 40^0
B 45^0
C 50^0
D 55^0

7 $4\frac{3}{5}$ juta =

A 4 600 000
B 4 530 000
C 4 350 000
D 4 035 000

8 10 dekad ÷ 3 =

A 3 tahun 1 bulan
B 3 tahun 4 bulan
C 33 tahun 1 bulan
D 33 tahun 4 bulan

9 $3\frac{9}{10}$ m x 12 =

A 4.64 m
B 46.8 m
C 468 m
D 4 680 m

LIVEWORKSHEETS

10 Hitung min, bagi $2\frac{4}{5}$ kg, 0.75 kg dan 1 kg 400 g.

A 1 kg 53 g
B 1 kg 65 g
C 1 kg 530 g
D 1 kg 650 g

11 1 200 ÷ (68 - 44) =

A 48
B 50
C 58
D 60

12 3.19 x 2.4 =

A 0.656
B 7.656
C 76.56
D 756.6

13 Ada berapa $\frac{2}{3}$ dalam $\frac{5}{6}$?

A $\frac{4}{5}$
B $\frac{5}{9}$
C $1\frac{1}{4}$
D $1\frac{4}{5}$

14 $7\frac{3}{4} - 4\frac{1}{2} - 2\frac{1}{8} =$

A $1\frac{1}{2}$
B $1\frac{1}{4}$
C $1\frac{1}{6}$
D $1\frac{1}{8}$

LIVEWORKSHEETS

15 $25.67 - 9 + 3.049 =$

A 13.621
B 19.719
C 21.721
D 27.819

16 Antara yang berikut, yang manakah betul apabila dibundarkan kepada persepuluh yang terdekat?

A 7.148 = 7.15
B 8.324 = 8.32
C 9.582 = 9.5
D 10.099 = 10.1

17 5 jam 55 minit + $1\frac{1}{4}$ jam =

A 6 jam 10 minit
B 6 jam 30 minit
C 7 jam 10 minit
D 7 jam 30 minit

18 40% daripada RM123.50 =

A RM49.40
B RM74.10
C RM83.50
D RM123.10

19 $7\frac{1}{2}\ \ell - 5.75\ \ell =$

A 1 350 mℓ
B 1 370 mℓ
C 1 450 mℓ
D 1 750 mℓ

20 Rajah 4 menunjukkan satu garis nombor.

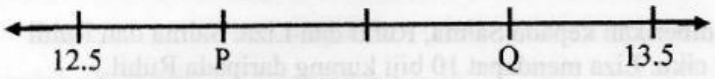

Rajah 4

Apakah nombor di Q?

A 12.25
B 12.50
C 12.75
D 13.25

LIVEWORKSHEETS

21 Jadual 1 menunjukkan bilangan telur ayam mengikut gred.

Gred telur	Bilangan telur
A	13 750
B	
C	10 520

Jadual 1

Jumlah semua telur ialah 39 400. Berapakah bilangan telur gred B?

A 15 130
B 24 270
C 25 650
D 28 880

22 Harun menyimpan sebanyak RM250 untuk masa depan 5 orang anaknya. Setiap anaknya mendapat simpanan sama banyak. Berapakah jumlah wang yang disimpan Harun untuk setiap anaknya dalam tempoh 3 tahun?

A RM600
B RM1 800
C RM2 400
D RM3 000

23 Berapakah perlu ditambah kepada hasil darab 15 dengan 150 supaya menjadi 3 000?

A 250
B 500
C 750
D 1 000

24 Puan Laila membeli 3 kotak limau. Setiap kotak mengandungi 80 biji limau. 24 biji daripada jumlah limau itu busuk. Berapakah peratus limau yang elok daripada semua limau yang dibeli?

A 10%
B 20%
C 80%
D 90%

25 Sejumlah 200 biji ciku diberikan kepada Salma, Ruhil dan Liza. Salma dan Ruhil mendapat sama banyak ciku. Liza mendapat 10 biji kurang daripada Ruhil. Berapakah bilangan ciku Ruhil?

A 60
B 70
C 80
D 90

LIVEWORKSHEETS

26 Jadual 2 menunjukkan perjalanan bas dari Kota Bharu ke Kuala Lumpur.

Masa bertolak	Tempoh masa perjalanan	Masa tiba
15 Jun 2019 10.30 malam	$7\frac{3}{4}$ jam	

Jadual 2

Nyatakan bilakah bas tersebut tiba di Kuala Lumpur.

A Pukul 6:15 pagi pada 15 Jun 2019.
B Pukul 6.15 pagi pada 16 Jun 2019.
C Pukul 8.15 pagi pada 15 Jun 2019.
D Pukul 8.15 pagi pada 16 Jun 2019.

27 Jadual 3 menunjukkan harga tiga jenis buah.

Buah	Harga sekilogram
Durian	RM35.00
Manggis	40% daripada harga durian.
Belimbing	RM12.50

Jadual 3

Hitung jumlah harga buah yang termahal dan termurah.

A RM26.50
B RM47.50
C RM49.00
D RM61.50

28 Rajah 5 menunjukkan isi padu air dalam tiga baldi

Baldi K	Baldi L	Baldi M
2 345 mℓ	1 ℓ 90 mℓ	0.25 ℓ lebih daripada baldi L

Rajah 5

Hitung jumlah air, dalam mℓ, dalam semua baldi.

A 3 640
B 4 270
C 4 775
D 6 395

LIVEWORKSHEETS

29 Encik Sabri melabur RM40 000 untuk pendidikan anaknya. Bank memberi faedah mudah 3.5% setiap tahun. Berapakah jumlah faedah yang diterima olehnya selama 3 tahun?

A RM1 400
B RM2 800
C RM4 200
D RM5 600

30 Rajah 6 menunjukkan jisim kotak A. Jisim kotak B tidak ditunjukkan.

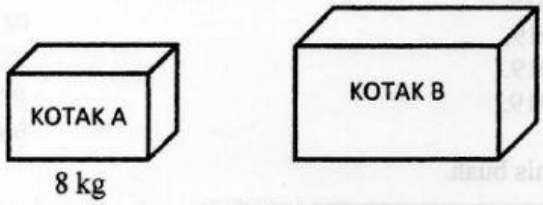

Rajah 6

Nisbah jisim kotak A kepada jisim kotak B ialah 2:5.
Hitung jisim, dalam kg, bagi kotak B.

A 20
B 24
C 32
D 40

31 Rajah 7 menunjukkan jarak dari rumah Azwan ke pejabat.

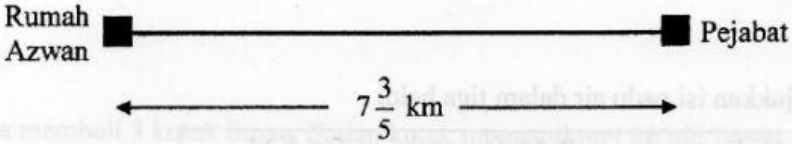

Rajah 7

Encik Azwan berulang-alik dari rumah ke pejabat setiap hari. Berapakah jarak, dalam km, perjalanannya seminggu tidak termasuk hari Jumaat?

A 45.6
B 53.2
C 91.2
D 106.4

LIVEWORKSHEETS

32 Rajah 8 menunjukkan resit yang diterima oleh Azam dari sebuah kedai makan. Bayaran cukai perkhidmatan dan jumlah bayaran tidak ditunjukkan.

MASA	: 02.03.04 p.m.		
JURU WANG	: faridah		
NO. RESIT	: 02-12345		
ITEM	KUANTITI	HARGA (RM)	JUMLAH (RM)
SUP TULANG	4	6.00	24.00
TELUR GORENG	2	2.00	4.00
NASI PUTIH	4	2.00	8.00
ABC	1	2.50	2.50
KOPI AIS	3	1.50	4.50
JUMLAH		RM	43.00
Cukai perkhidmatan 6%		RM	
JUMLAH BAYARAN		RM	

Rajah 8

Azam bayar dengan wang RM50.00. Berapakah baki wangnya?

A RM2.58
B RM4.42
C RM5.58
D RM7.00

33 Rajah 9 menunjukkan gabungan dua buah kuboid.

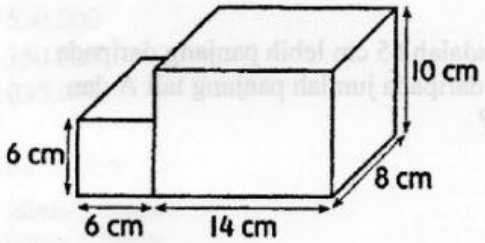

Rajah 9

Hitung isi padu, dalam cm^3, seluruh rajah.

A 440
B 880
C 1 156
D 1 408

LIVEWORKSHEETS