DECENAS Y UNIDADES

Los pobladores de las provincias de Huaura y de Huaral juntan sus productos para venderlos en la feria artesanal del tejido. ¿Qué cantidad de cada producto trajeron?

Completar, guíate del modelo:

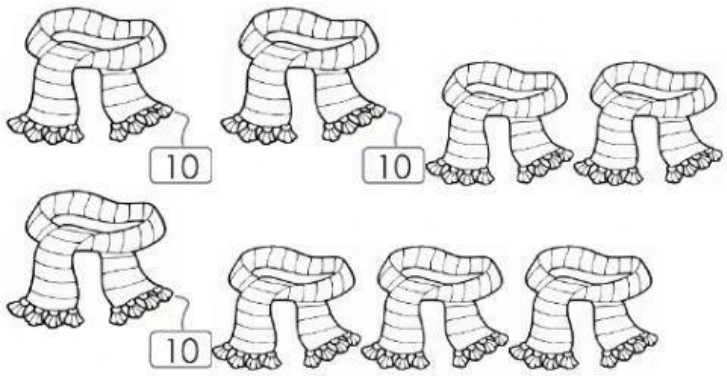

3 decenas y 5 unidades

30 + 5

2 decenas y 15 unidades

20 + 15

___ decenas y ___ unidades

_____ + _____

___ decenas y ___ unidades

_____ + _____



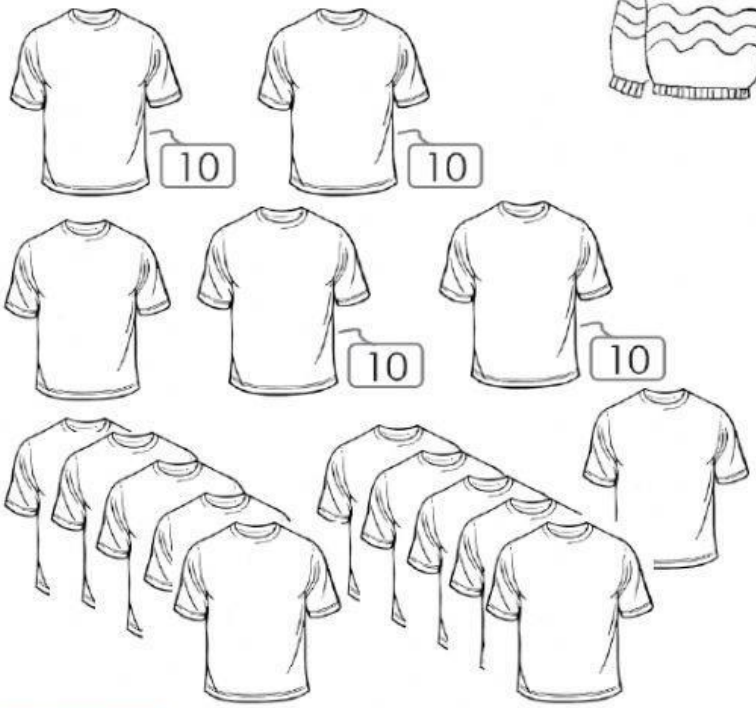

___ decenas y ___ unidades

_____ + _____

___ decenas y ___ unidades

_____ + _____

Mi aula feliz MMVL

LIVEWORKSHEETS

___ decenas y ___ unidades

_____ + _____

___ decenas y ___ unidades

_____ + _____

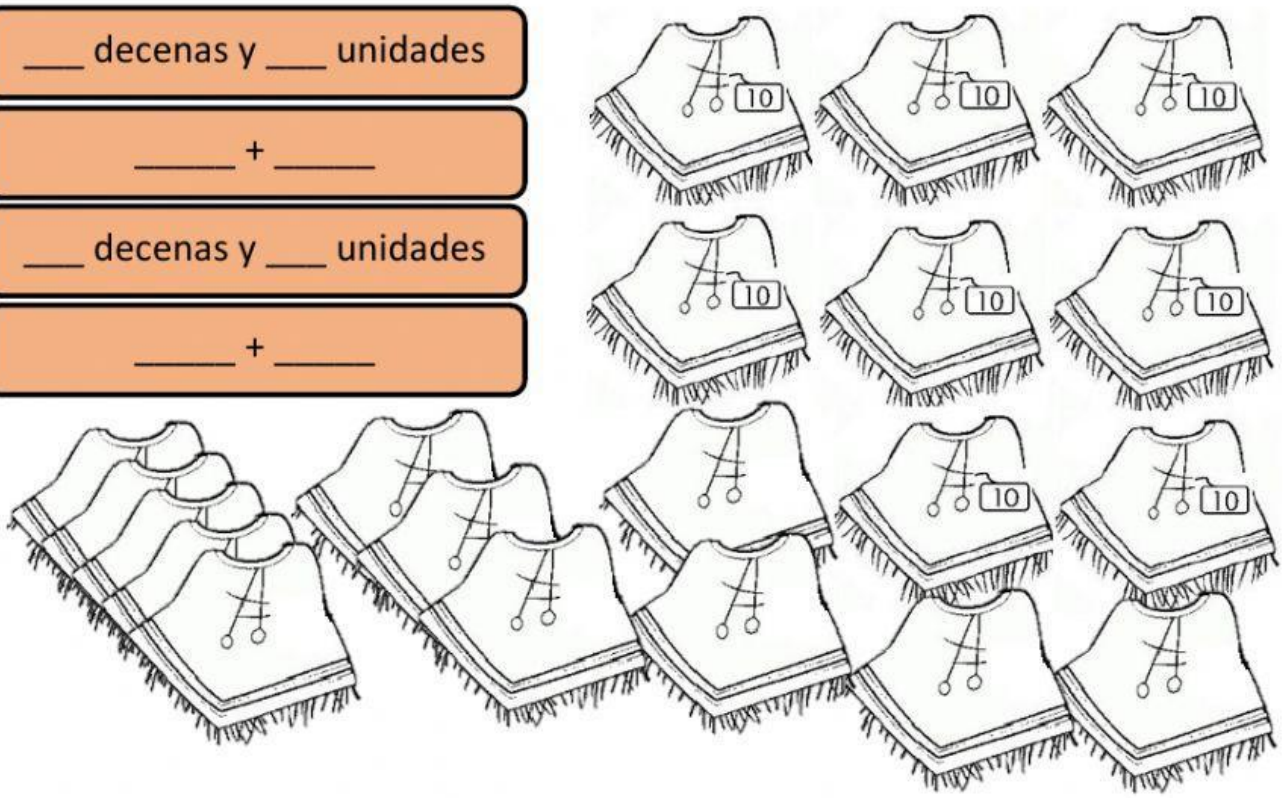

Luisa y Pamela decidieron saber con cuánto dinero cuentan para poder comprar uno de los productos. Pinta la propuesta correcta y completa.

Marca y completar:

20+2 30+3 20+12

Luisa cuenta con _____ soles.

1 decena 14 unidades 2 decenas 3 unidades 2 unidades 4 decenas

Pamela cuenta con _____ soles.

LIVEWORKSHEETS