Miss Semira

Seguridad vial

1.- Escribe V si es verdadero y F si es falso:

- [ ] Las señales de tránsito sirven para decorar las calles.
- [ ] Las señales de tránsito nos ayudan a organizar el tráfico de vehículos.
- [ ] Es importante respetar las señales de tránsito para evitar accidentes.
- [ ] Los peatones no deben conocer las señales de tránsito.

2.- Observa algunas señales de tránsito y escribe a qué grupo pertenece:

PARE

CURVA CERRADA A LA DERECHA

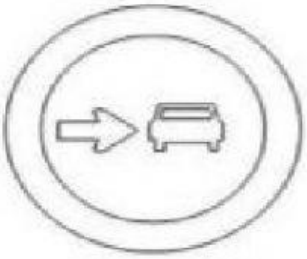

MANTENGA SU DERECHA

LIVEWORKSHEETS

3.- Completa el texto arrastrando las opciones e identifica las señales:

a) Las señales _____ nos informan de las limitaciones, prohibiciones o restricciones.

b) Las señales _____ notifica a los conductores, las rutas, destinos, direcciones, kilometrajes, distancias, servicios, restaurantes, etc.

c) Las señales _____ advierten de la existencia de un peligro, se caracteriza por tener forma de rombo, de fondo color amarillo orillo y de mensaje color negro.

Preventivas	Reguladoras	Informativas

4.- Arrastra y ubica los colores del semáforo al igual que las imágenes según el significado:





LIVEWORKSHEETS