CENTRO DE APRENDIZAJE Y ESTIMULACION PILOSITOS

Evaluación semestral - Naturales 4º

1. Enumera con el orden correcto la reproducción de la planta

FECUNDACIÓN
El polen se junta con los óvulos

GERMINACIÓN
Las semillas caen en la tierra germinan y nace una nueva planta

POLINIZACIÓN
Por la acción de un insecto o del viento el polen llega al pistilo de otra flor

FORMACIÓN DEL FRUTO
La flor se transforma y se forma el fruto, el cual contiene las semillas

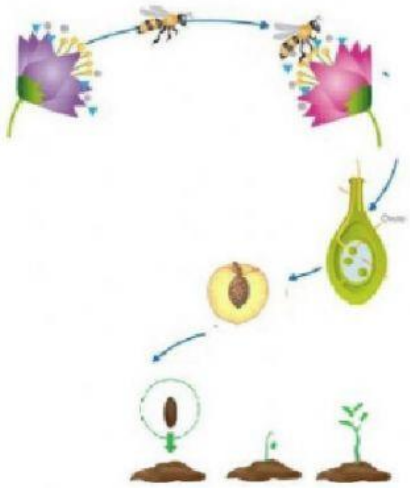

2. Completa con las palabras que faltan:

tallo raíz oxígeno fotosíntesis elaborada luz bruta

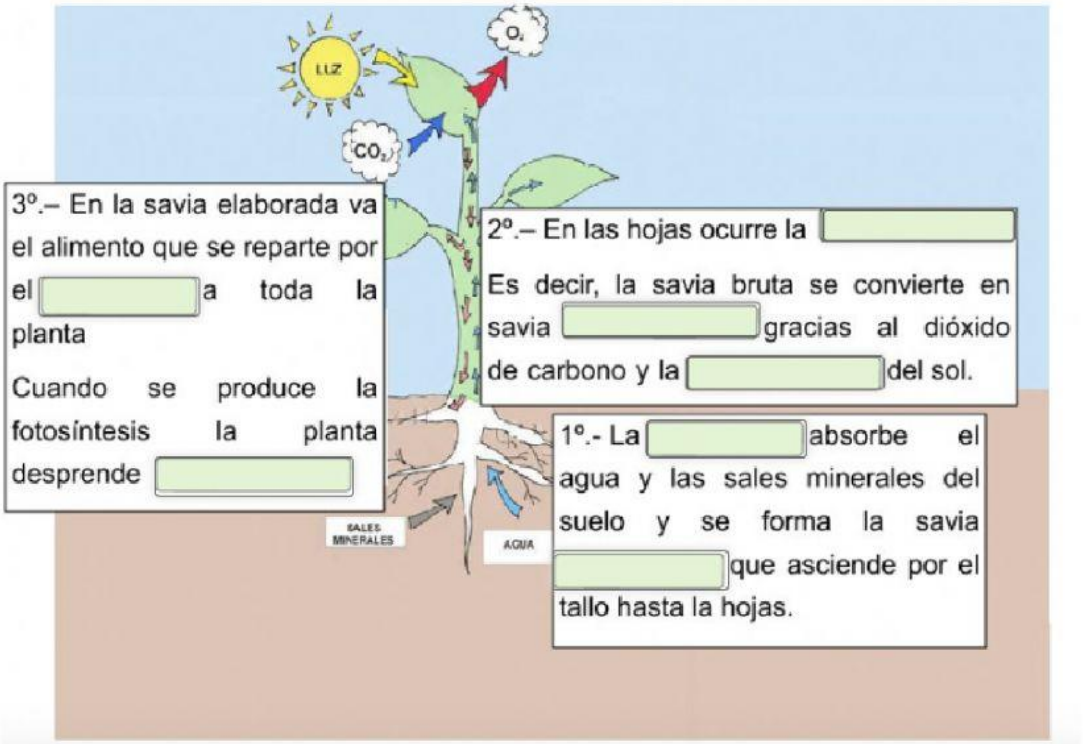

3º.– En la savia elaborada va el alimento que se reparte por el _____ a toda la planta

Cuando se produce la fotosíntesis la planta desprende _____

2º.– En las hojas ocurre la _____

Es decir, la savia bruta se convierte en savia _____ gracias al dióxido de carbono y la _____ del sol.

1º.- La _____ absorbe el agua y las sales minerales del suelo y se forma la savia _____ que asciende por el tallo hasta la hojas.

LIVEWORKSHEETS

Responde las siguientes preguntas teniendo en cuenta el esquema:

3. Responde V o F

En el esquema hacen una clasificación de las plantas, teniendo en cuenta su tamaño

En el esquema hacen una clasificación de las plantas, teniendo en cuenta sus flores

En el esquema hacen una clasificación de las plantas, teniendo en cuenta sus frutos

Las angiospermas tienen flor pero no fruto

Las gimnospermas tienen frutos

Las plantas con flores y semillas son herbáceas

LIVEWORKSHEETS

4. Arrastra y une las partes de la flor

LA COROLA:

Parte colorida, formada por **pétalos**.

EL CÁLIZ:

Formada por unas hojas llamadas **sépalos** que la protegen cuando se está formando.



ESTAMBRES:

Parte masculina.

Acaba en anteras que producen el polen.

PISCILO:

Parte femenina.

Formada por el ovario que produce óvulos y el **estigma**.

5. ¿Cuáles son los dos tipos de reproducción de las plantas?

6. Explica el procedimiento de la reproducción sexual de las plantas

7. Explica el procedimiento de la reproducción Asexual de las plantas

LIVEWORKSHEETS

pistilo | antera | estigma | tallo | sépalo

filamento | pétalo | ovarios | óvulo

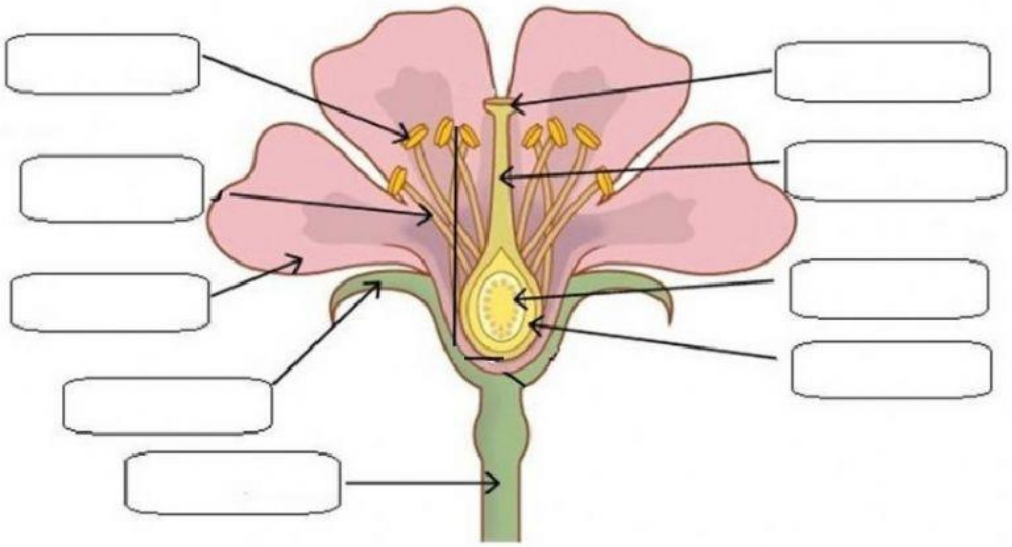

8. Escribe el nombre de las partes de la planta

LIVEWORKSHEETS