Matemática

Familia del 6 al 10

1. Coloque los números que completan la casita.

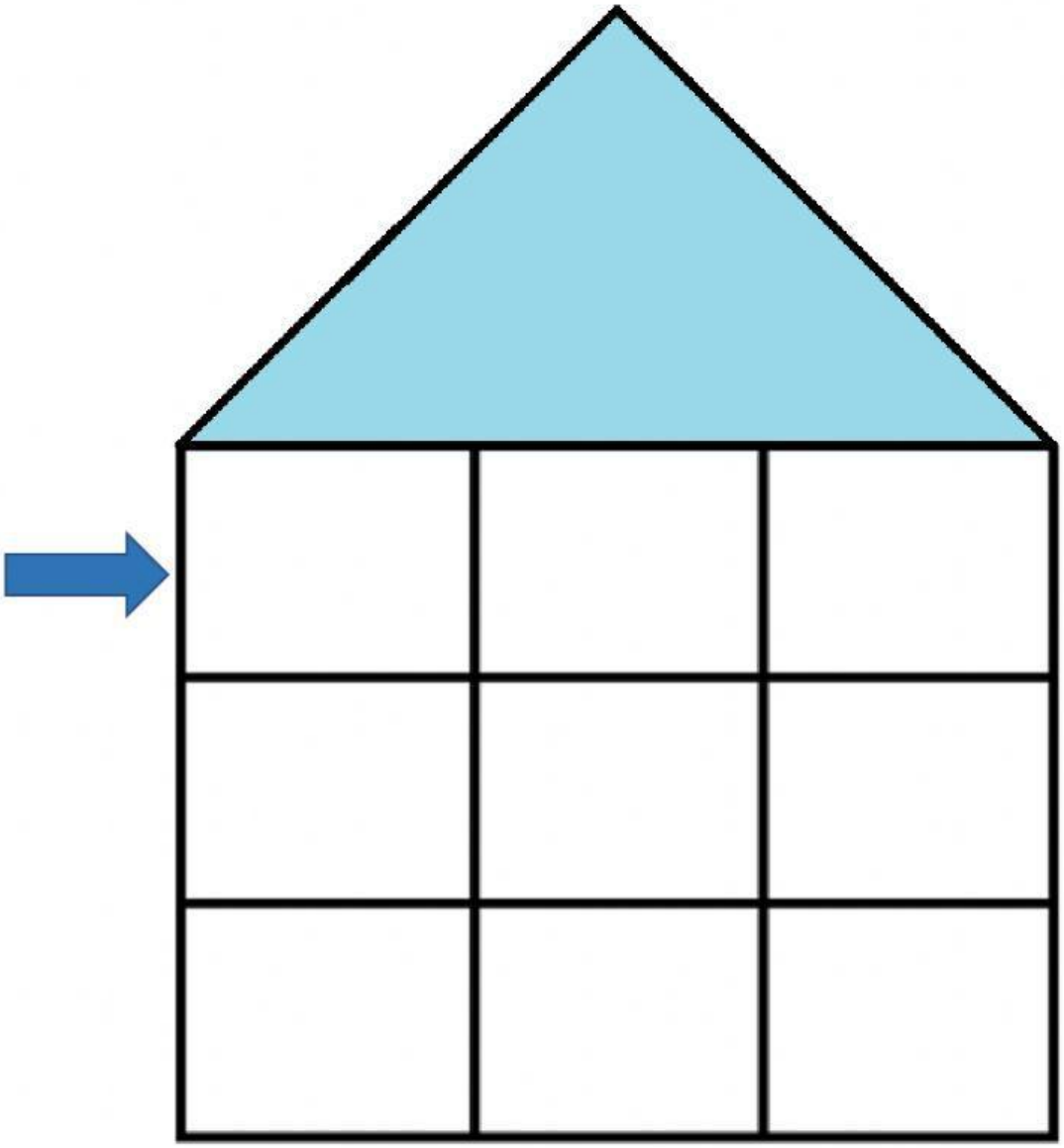

1 3 7 5

4 8 2 9 6

LIVEWORKSHEETS

Matemática

Familia del 6 al 10

2. Cuente los elementos de cada conjunto y coloque el número que corresponde.







9 6 10 7 8

LIVEWORKSHEETS

Matemática

Familia del 6 al 10

Prof. Nela

3. Observe la imagen y anote el número de elementos que tiene cada imagen.



LIVEWORKSHEETS

Matemática

Familia del 6 al 10

Prof. Nela

4. Escriba el número que falta para completar cada serie numérica.



LIVEWORKSHEETS

Matemática

Familia del 6 al 10

5. Coloca el signo **>, <** o **=** según sea el caso.

6 _____ 6

9 _____ 3

5 _____ 8

3 _____ 6

2 _____ 7

7 _____ 7

LIVEWORKSHEETS

Matemática

Familia del 6 al 10

6. Coloque y sume

3 + 2 =

u

\+

5 + 1 =

u

\+

7. Coloque y reste

9 - 7 =

u

\-

7 - 5=

u

\-

LIVEWORKSHEETS