Colegio Dr. José María Velasco Ibarra

Buena fe – Los Ríos

1. **Enlaza la fórmula de acuerdo a su aplicación**

PERÍMETRO $A = \frac{b\ x\ h}{2}$

ÁREA $P = l + l + l$

2. **Encuentra el perímetro de los siguientes triángulos aplicando la formula que corresponde**

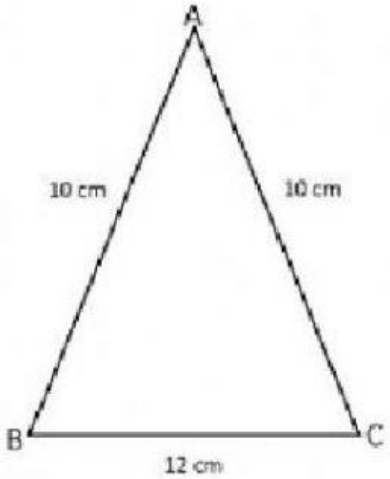

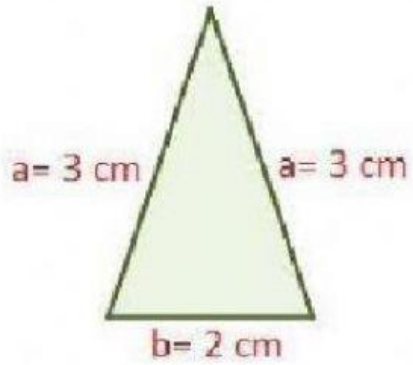

LIVEWORKSHEETS

3. **Encuentra el área del siguiente triángulo aplicando la fórmula que corresponde:**

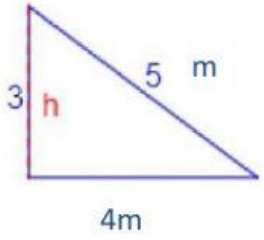

LIVEWORKSHEETS