INSTITUTO LATINOAMERICANO®
COMPROMETIDOS CON LA EDUCACIÓN



EXAMEN DE MATEMÁTICAS
TERCERO DE PRIMARIA PERIODO 3

1.- Tres amigas fueron por tortillas cada una compró lo siguiente:

- Blanca 1/2 kilo Emilia 1/4 de kilo Pilar 2/4 de kilo

¿Quiénes compraron lo mismo?

a) Blanca y Emilia. c) Pilar y Emilia. d) Blanca y Pilar. e) Ninguna

2- ¿Cuál de las siguientes imágenes no es equivalente a las demás?

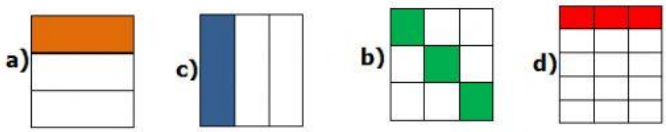

3.- El papá de Beto le regaló 2/4 de terreno, a su hija Claudia le dio 4/8 de terreno y su otro hijo Carlos le dio 2/6 de otro terreno. ¿A quién le dio lo mismo?

a) Claudia y Carlos b) Beto y Claudia c) A los tres d) A ninguno

4.- ¿Cuántas estrellas debe tener la <u>figura 6</u> si continuamos la siguiente sucesión?

a) 8 estrellas. c) 9 estrellas.
b) 11 estrellas. d) 13 estrellas.

5.- ¿Cuántas uvas debe tener la <u>figura 5</u> si continuamos la siguiente sucesión?

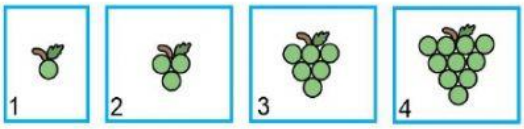

a) 12 uvas. c) 15 uvas. d) 13 uvas. e) 17 uvas.

6.- En el cumpleaños de Sofía le dieron a María 1/4 de pastel, a juan 1/8 y a Daniel 2/4 de pastel. ¿A quién le dieron más pastel?

a) a María b) Les dieron lo mismo. c) a Juan d) a Daniel.

En el mercado tienen los siguientes precios:

LIVEWORKSHEETS

7.- Si Daniel compró 5 naranjas 2 sandias y 1 piña, ¿cuánto pagó en total?

a) $ 18.00 b) $ 50.00 c) $ 56.00 d) $ 34.00

8.- Sofía compró 8 naranjas. Hizo su cuenta y supo que tenía que pagar $48 pesos. ¿Qué operación hizo Sofía para saber el resultado?

a) Una resta. b) Una multiplicación. c) Una división d) Una fracción.

Para hacer un postre la miss les pidió a los alumnos de 3°A que llevaran las siguientes frutas:

Niños: 5 peras cada uno.

Niñas: 2 naranjas y 3 uvas cada una.

9.- Si en el salón hay 7 niños y 4 niñas, ¿cuántas frutas llevaron en total?

a) 34 peras 5 naranjas 5 uvas = 44 frutas.
b) 30 peras 4 naranjas 5 uvas = 39 frutas.
c) 32 peras 9 naranjas 7 uvas = 48 frutas.
d) 35 peras 8 naranjas 12 uvas = 55 frutas

10.- Si en el salón de 3B sólo fueron 5 niños y 3 niñas ese día. ¿Cuántas frutas llevaron en total?

a) 15 peras, 6 naranjas y 9 uvas = 40 frutas

b) 25 peras, 9 naranjas y 9 uvas= 38 frutas

c) 25 peras, 6 naranjas y 9 uvas = 40 frutas

d) 18 peras, 9 naranjas y 6 uvas= 33 frutas

Contesta los siguientes problemas. Realiza las operaciones en tu cuaderno.

11.- Mariana tiene ahorrado 480 pesos y lo quiere repartir entre sus 4 hijos. ¿Cuánto le toca a cada uno?

a) 180 pesos. b) 120 pesos. c)150 pesos. d) 200 pesos.

12.- Tengo 96 pesos y los quiero repartir entre mis 6 sobrinos. ¿Cuánto le toca a cada uno?

a) 15 pesos. d) 40 pesos. c) 16 pesos. d) 30 pesos.

LIVEWORKSHEETS

13.- Don Pepe, de la tienda, necesita acomodar 99 paletas en 7 bolsas. ¿Cuántas tiene que colocar en cada bolsa para que contengan la misma cantidad?

a) 13 paletas. b) 14 paletas. c) 10 paletas. d) 15 paletas

14.- ¿Cuántas paletas le quedaron sin empacar?

a) 3 paletas b) 2 paleta c) 1 paleta d) ninguna

15.- Realiza la siguiente división y marca la que muestre la solución correcta. 6 ⟌ 96

16	16	12	16
6 ⟌ 96	6 ⟌ 96	6 ⟌ 96	6 ⟌ 96
26	36	06	16
3	0	0	3

16.- ¿Con qué letra está marcado el vértice?

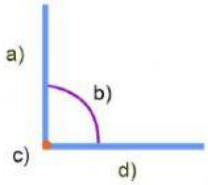

17.- ¿Con qué letra está marcado el ángulo?

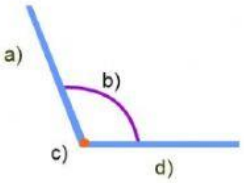

18.- Cuál de los siguientes es un ángulo agudo?

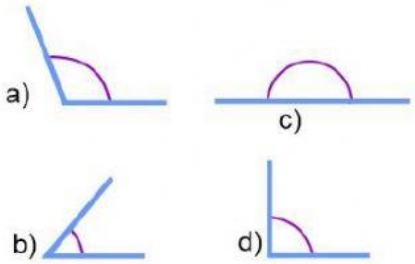

19.- Cuál de los siguientes es un ángulo obtuso?

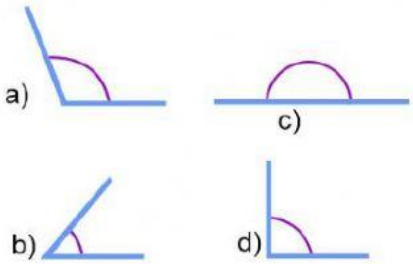

LIVEWORKSHEETS

20.- Cuál de los siguientes ángulos mide 90°?

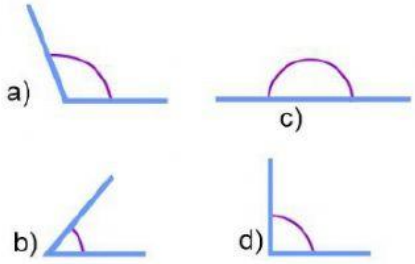

En la papelería "La Escolar" venden *lápices sueltos*, *paquetes de 10* y en *cajas de 100 piezas*.

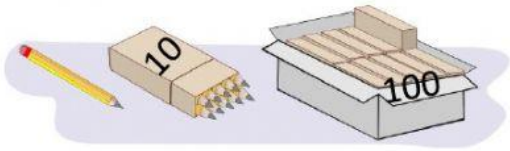

En el mes de mayo se vendió lo siguiente:

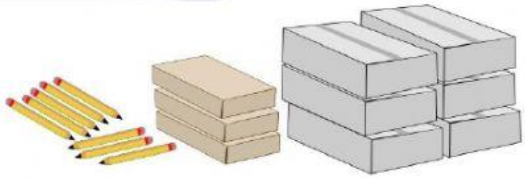

21.- ¿Cuántos lápices se vendieron en total?

a) 448 lápices. b) 638 lápices c) 568 lápices. d) 245 lápices.

22.- María compró en la papelería una libreta de $ 53 pesos, si pagó con un billete de $ 100, ¿cuánto le dieron de cambio?

a) 57 pesos. b) 47 pesos. c) 67 pesos. d) 43 pesos

23.-En la tienda de Don Pepe venden el jugo de naranja en estos envases:

Elige la opción que representa 2 litros y 1/2 de jugo.

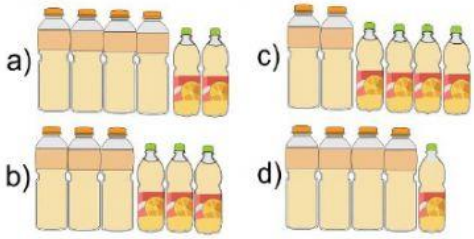

LIVEWORKSHEETS

24.- Indica cual es la regularidad de la siguiente sucesión numérica:

2313,	2413,	2513,	2613,	2713,

a) Incrementa de 50 en 50
b) Disminuye de 100 en 100
c) Disminuye de 50 en 50
d) Incrementa de 100 en 100

25.- Juan y María son hermanos. Juan tiene 16 años. Si María es 23 años mayor que él, ¿cuántos años tiene María?

a) 15 años. b) 29 años c) 39 años d) 33 años

Observa los precios de los artículos y responde las preguntas.

26.- Miguel compró:

¿Cuánto pagó?

a) $ 120 pesos. d) $ 93 pesos. c) $ 121 pesos. d) $ 210 pesos.

27.- Miguel quiere saber si le dieron correctamente el cambio, el llevaba 180 pesos, lo que tendría que hacer es:

a) Sumar 180 más lo que se gastó b) De lo que gastó restarle 180

c) A 180 restarle lo que se gastó d) Dividir lo 180 entre lo que gastó

28.- Lorena compró:

¿Cuánto pagó?

a) $ 96 pesos. c) $100 pesos. d) $ 78 pesos. d) $ 87 pesos.

29. La hermana de Lorena compró lo doble que Lorena, ¿Cuánto gastó?

a) 129 b) 192 c) 292 d) 174

30.- La mamá de Emilio le comprará un pantalón y lo va pagar entre su papá y ella. ¿Cuánto va pagar cada quién?

a) 56 pesos b) 112 pesos c) 23 peso d) 28 pesos

LIVEWORKSHEETS

Contesta

31 • ¿Qué fracción de los calcetines son grises? _____

32 • ¿Cuál es el numerador de esa fracción? _____

33 • ¿Qué indica el numerador? _____

34 • ¿Cuál es el denominador de esa fracción? _____

35 • ¿Qué indica el denominador? _____

Cálculo mental:

36.-_____ 37.- _____ 38.- _____ 39.- _____ 40.- _____

¡HAS TERMINADO! Antes de entregar revisa tus respuestas.

¡Felicidades por haber llegado hasta aquí! Mucha suerte

LIVEWORKSHEETS