COLEGIO JESÚS DE NAZARETH

EVALUACIÓN DE SOCIALES SEGUNDO PERIODO

GRADO CUARTO

1. Coloca el relieve donde corresponda.

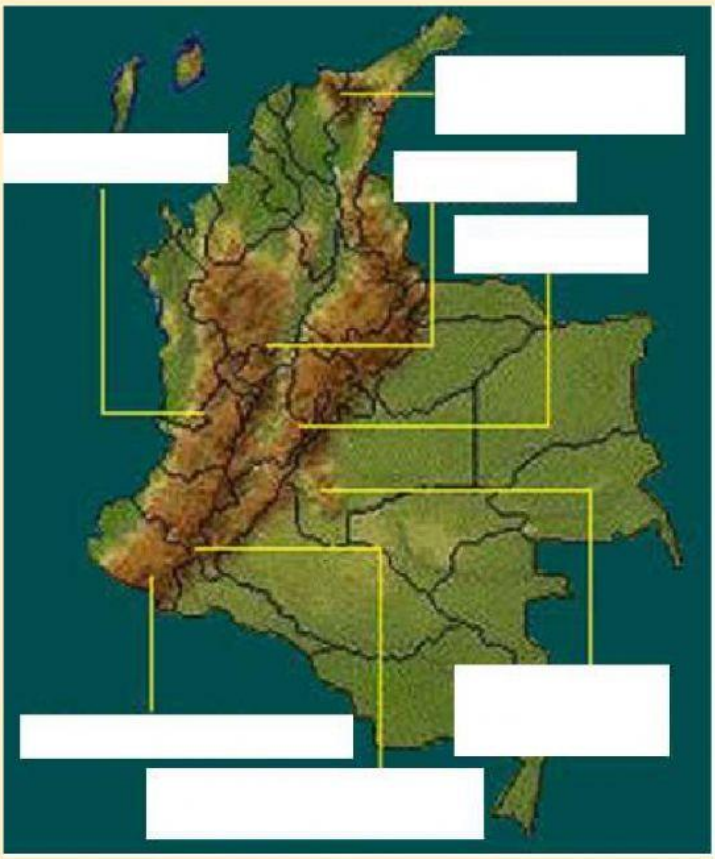

Macizo Colombiano

C. Central

C. Oriental

Sierra Nevada de Santa Marta

Sierra La Macarena

C. Occidental

Nudo de los Pastos

ESCOGE LA RESPUESTA CORRECTA.

2. Nombre de las cuatro llanuras colombianas

a. Llanura de la Orinoquía, Amazonía, Pacífico, Caribe

b. Llanura de la Orinoquía, Amazonía, Andina, Caribe

c. Llanura de la Orinoquía, Andina, Pacífico, Caribe

3. Nombre de los valles interandinos.

a. Valle del Magdalena, Cesar.

b. Valle del Caribe, Cauca.

c. Valle del Magdalena, Cauca.

4. ¿Qué es identidad nacional?

a. Es el regionalismo

b. Es el sentido de pertenencia a un grupo social, histórico y cultural.

c. Es buscar quedar mal a las demás regiones

LIVEWORKSHEETS

5. Escoge el tipo de relieve según la imagen.



6. Coloca el número que le corresponde a cada vertiente.

VERTIENTE DEL CARIBE: 1
Extensión 363.868 Km2

VERTIENTE DEL PACIFICO: 2
Extensión 88.000 Km2

VERTIENTE DEL ORINOCO: 3
Extensión 328.000 Km2

VERTIENTE DEL AMAZONAS: 4
Extensión 332.000 Km2

VERTIENTE DEL CATATUMBO: 5
Extensión 18.700 Km2

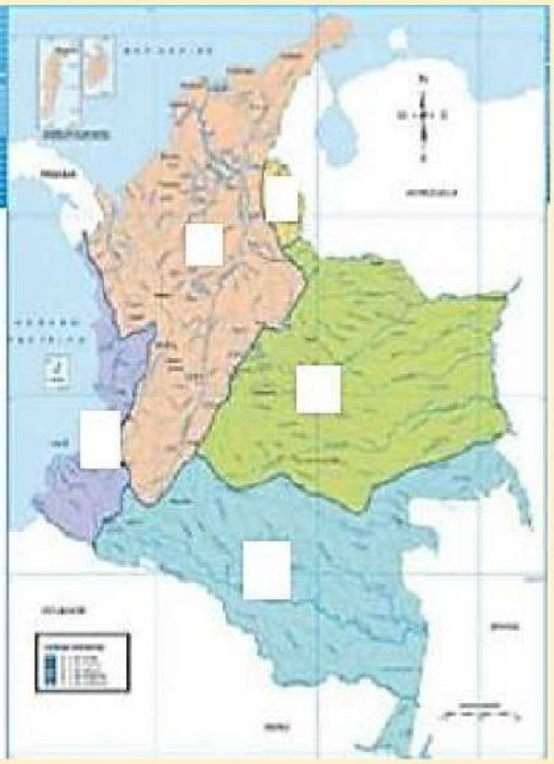

7. Escoge el nombre del relieve que corresponde.

a. Grandes elevaciones naturales de terreno cubiertas de vegetación.

b. Cadenas de montañas unidas entre sí.

c. Zonas donde la tierra se pone en contacto con el mar.

d. Territorios bajos rodeados de alturas o montañas por lo general recorridos por un río.

e. Corrientes de agua dulce que nacen en las partes altas de las montañas.

f. Montaña con un cráter que lanza lava, rocas y ceniza.

LIVEWORKSHEETS

8. Completa sobre la posición geográfica de nuestro país.

a. Colombia se encuentra en el hemisferio de latitud

_____ y _____.

b. Colombia se encuentra en el hemisferio de

longitud_____.

9. Ordena las Ramas del Poder Público de Colombia.

Concejal	Judicial	Alcalde municipal
Magistrado tribunal	Ejecutivo	Gobernador del departamento
Legislativo	Juez	

LIVEWORKSHEETS

10. Utiliza las palabras clave que están en la nube y completa el siguiente párrafo.

Se inicia el movimiento de _____, llamado así porque las personas que lo conformaban filósofos que observaban las dificultades de su _____ buscaban iluminar al pueblo con la ____ de la razón, la ciencia y el conocimiento frente a lo que vivían por el mal _____ de sus dirigentes.

Luz ilustración pueblo
gobierno

¡BENDICIONES!



LIVEWORKSHEETS