ITEM III: DESARROLLO

Nombre: _____

INSTRUCCIONES:

- Escribe tu nombre y apellido
- cuando entregues no olvides sacar una fotografía o registro de los puntos obtenidos.
- debes adjuntar el registro al formulario de google.

EJERCICIO: Considerando la función $f(x) = -3x + 1$, represéntala mediante tabla, diagrama sagital y plano cartesiano.

Tabla:

x	y = f (x)	(x , y)
-2	-3 · ( ) + 1 = ☐	A(, ☐)
-1	-3 · ( ) + 1 = ☐	B(, ☐)
0	-3 · ( ) + 1 = ☐	C(, ☐)
1	-3 · ( ) + 1 = ☐	D(, ☐)
2	-3 · ( ) + 1 = ☐	E(, ☐)
3	-3 · ( ) + 1 = ☐	F(, ☐)

Diagrama Sagital:

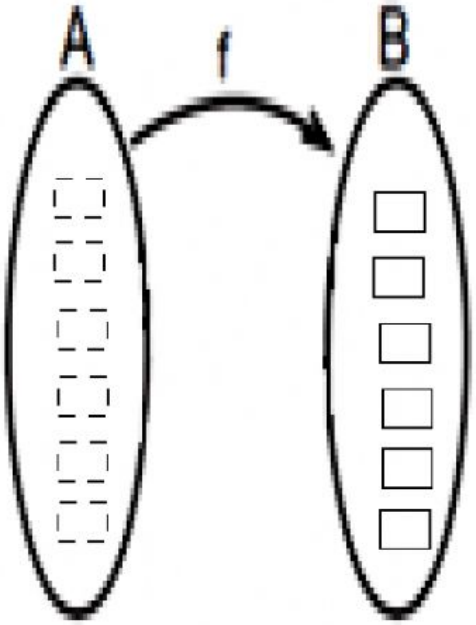
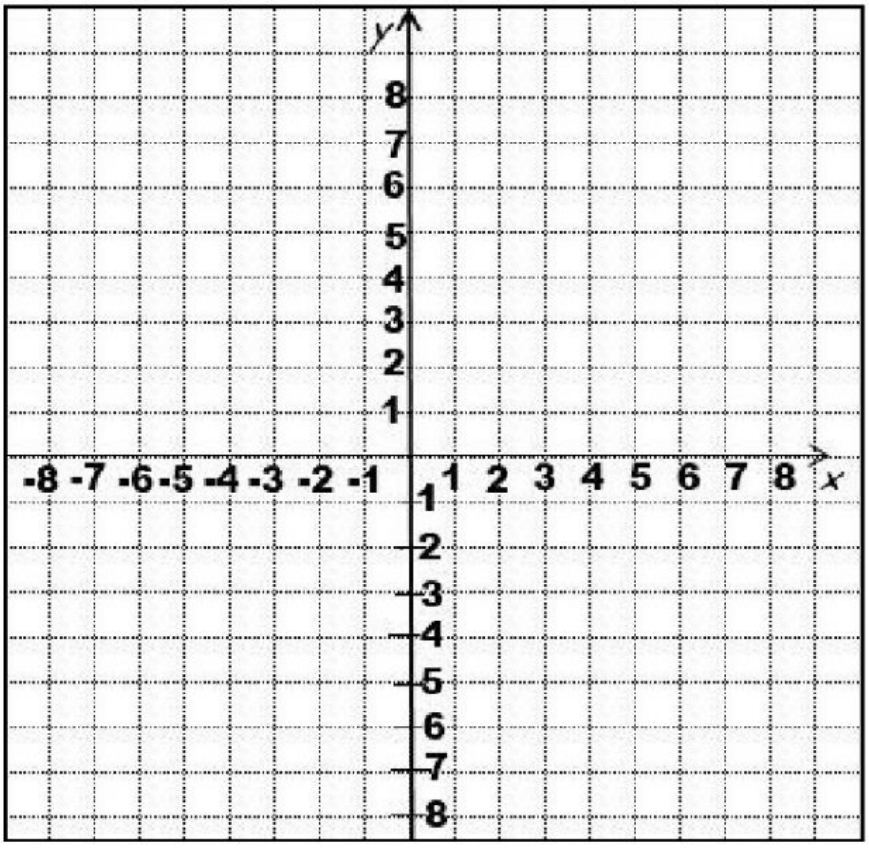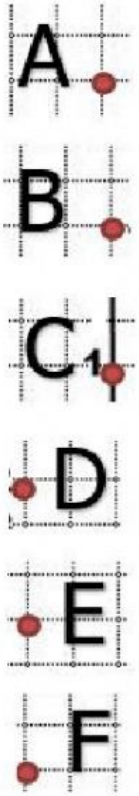
Gráfico