Actividad de matemática semana 3 de junio

Objetivo:

Medir longitudes (cm a m) en el contexto de resolución de problema

Recuento:

MEDIDAS DE LONGITUD

- **Observa la regla y escribe cuántos centímetros mide cada objeto.**

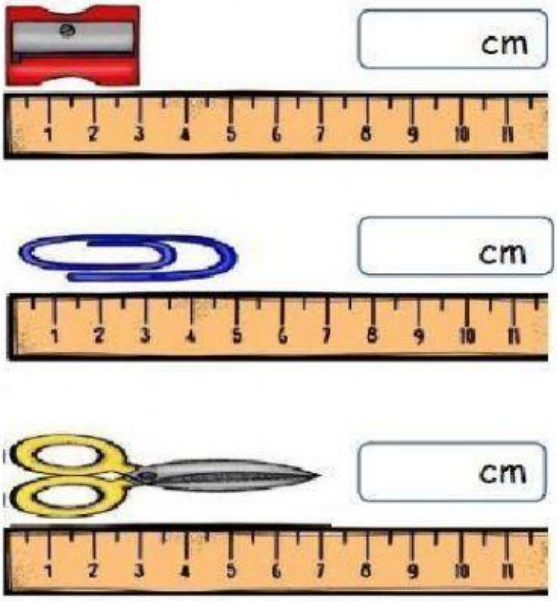

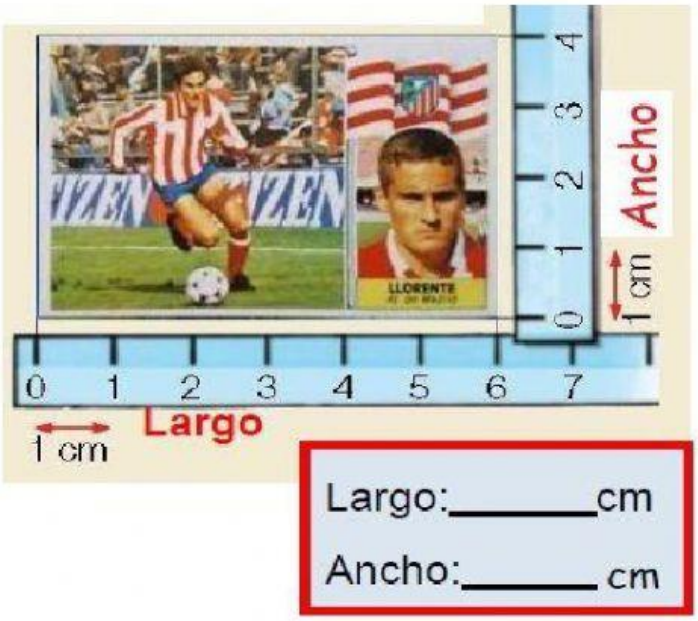

- **Estima cuánto mide y une con la medida que creas que tenga.**

3 cm

40 cm

15 cm

LIVEWORKSHEETS

- **María tiene dos reglas: Una de ellas mide 20 cm y otra 90 cm. ¿Cuánto medirán las dos juntas en mentros?**

☐ ☐ ☐ = ☐

El metro y el centímetro

Para medir la longitud de objetos grandes o distancias pequeñas utilizamos el **metro**.

El paraguas de Laura mide un metro de largo.

1 metro se escribe así: 1 m.

El **centímetro** es una unidad de longitud menor que el metro.

La abeja mide 1 cm.

1 metro es igual a 100 centímetros.

1 m = 100 cm

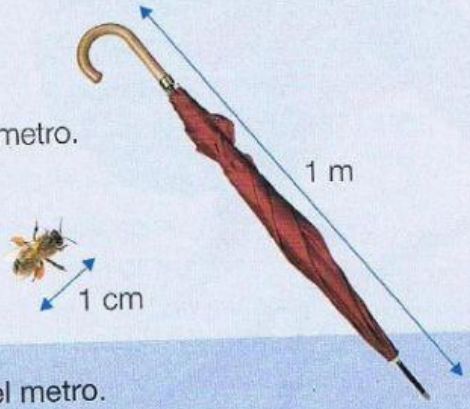

El centímetro es una unidad de longitud menor que el metro.

Un metro es igual a 100 centímetros. 1 m = 100 cm

LIVEWORKSHEETS

HAZLO ASÍ

2 m y 38 cm

▼ ▼

200 cm + 38 cm = 238 cm

7m y 28 cm= R:	9m y 79cm= R:
7m y 28 cm Jaime tiene 2 cuerdas, el largo de la cuerda es de 5m y 27 cm y la otra es de 3 m y 40 cm. ¿Cuántos centímetros de cuerda tendrá al unir las 2?	Julia tiene 2 mesas: la primera mide 2 metros y 9cm de largo. La segunda es de 4m y 5cm de largo. ¿Cuál es la diferencia de largo entre las mesas?

LIVEWORKSHEETS

1. **Observa el ejemplo y expresa en metros.**

Recuerda: para pasar de centímetros a metros tenemos que dividir entre 100.

Para dividir entre la unidad seguida de ceros puedes eliminar tantos ceros como tengas en el dividendo y el divisor.

3~~00~~ : 1~~00~~= 3 m

40~~00~~ : 1~~00~~ = 40m

200 cm =_____m	700 cm =_____m
400 cm =_____m	800 cm =_____m
500 cm =_____m	900 cm =_____m
100 cm =_____m	1000cm =_____m
3000cm =_____m	5000cm =_____m
7000cm =_____m	9000cm =_____m

LIVEWORKSHEETS

2. Expresa todas las cantidades en una misma unidad y resuelve.

- Laura quiere poner un marco de madera a una lámina que mide 1 m de largo y 45 cm de ancho. ¿Cuántos centímetros de listón necesita?

1 m

Respuestas en cm:

45 cm

- Jaime mide 1 metro y 25 centímetros. Su amiga Rocío mide 30 centímetros menos. ¿Cuántos centímetros mide Rocío?

1m y 25cm

30 cm menos

¿Cuántos centímetros mide Rocío? _____

3. Elige las tres cuerdas que ha podido unir Natalia.

Natalia ha unido tres de estas cuerdas y ha conseguido una cuerda de 2m 73 cm

Realiza la operatoria y escribe cuales elegiste _____

LIVEWORKSHEETS