EVALUACIÓN CIENCIAS NATURALES
SEGUNDO QUIMESTRE

1. **OBSERVE CADA IMAGEN Y ARRASTRE LOS RECUADROS ESCRITOS DE LOS CAMBIOS DE ESTADO.**

Sólido a líquido

Líquido a gaseoso

Líquido a sólido



2. RELACIONE LA IMÁGEN CON EL NOMBRE DE LA FUENTE DE ENERGÍA.

Hidráulica

Eólica

Solar

LIVEWORKSHEETS

3.SELECCIONE LA PALABRA CORRECTA A QUE RECURSOS PERTENECEN LAS IMÁGENES: RENOVABLE, NO RENOVABLE.

4.SELECCIONE A QUE MOVIMIENTO DE LA TIERRA REPRESENTA CADA IMAGEN.

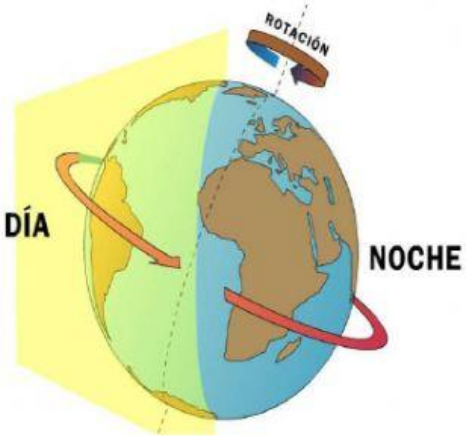

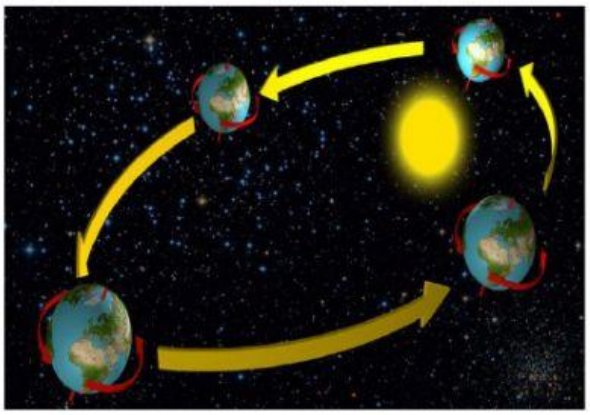

LIVEWORKSHEETS

5.RELACIONE CADA IMAGEN CON EL NOMBRE DE LAS FASES DE LA LUNA.

CUARTE MENGUANTE

LUNA LLENA

CUARTO CRECIENTE

LUNA NUEVA

6.DE CLICK EN LAS IMÁGENES DE LAS ACCIONES CORRECTAS DE COMO DEBEMOS CUIDAR EL SUELO.

LIVEWORKSHEETS