Expresa el área de cada uno de los siguientes polígonos con los datos dados en cada uno de ellos.

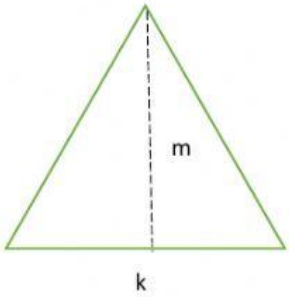

Área=_____



Área=_____

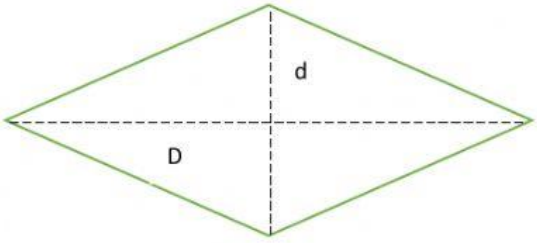

Área=_____

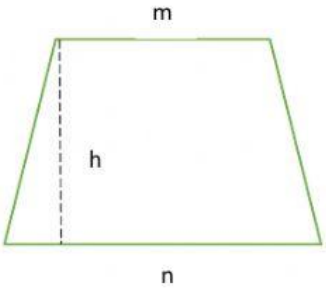

Área=_____

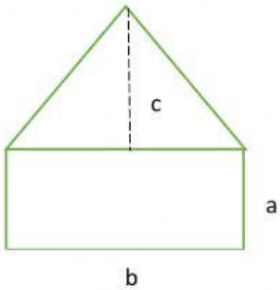

Área=_____

Lic.EspinosAdriana

LIVEWORKSHEETS

Ejercicios de cálculo de áreas

1. Un mosaico en forma de romboide tiene una base de 12.4 cm y una altura de 4.2 cm.
¿Cuánto mide su área?

2. Una estructura triangular tiene una base de 5.23 cm y su altura es de 3.8 cm.
¿Cuánto mide su superficie?

3. La diagonal mayor de un rombo mide 15 cm. Si su área mide 120 cm^2.
¿cuánto mide su diagonal menor?

4. ¿Cuál es la medida del lado de un cuadrado cuya área es de 81 m^2 de área?

5. ¿Cuánto mide el largo de una cancha de soccer (rectangular) cuyo ancho mide 45 m y su área es de 5400 m^2 ?

6. Una jardinera con forma de trapecio tiene las siguientes medidas: base mayor 9m, base menor 4m, y altura 2m ¿Cuál será el área de la jardinera ?

Lic.EspinosAdriana

LIVEWORKSHEETS